एकक 2

परमाणु की संरचना
STRUCTURE OF ATOM

उद्देश्य

इस एकक के अध्ययन के बाद आप–

- इलेक्ट्रॉन, प्रोटॉन तथा न्यूट्रॉन की खोज एवं उनके अभिलक्षणों से परिचित हो सकेंगे;
- थॉमसन, रदरफोर्ड एवं बोर के परमाणु मॉडलों का वर्णन कर सकेंगे;
- परमाणु के क्वांटम यांत्रिकीय मॉडल के महत्त्वपूर्ण लक्षणों को समझ सकेंगे;
- विद्युत्-चुंबकीय विकिरण की प्रकृति एवं प्लांक के क्वांटम सिद्धांत को समझ सकेंगे;
- प्रकाश विद्युत्-प्रभाव तथा परमाणुओं के स्पेक्ट्रमों के लक्षणों का वर्णन कर सकेंगे;
- दे ब्रॉग्ली संबंध तथा हाइजेनबर्ग अनिश्चितता सिद्धांत को अभिव्यक्त कर सकेंगे;
- परमाणु कक्षक को क्वांटम संख्याओं के रूप में परिभाषित कर सकेंगे;
- ऑफबाऊ सिद्धांत, पाउली का अपवर्जन सिद्धांत तथा हुंड का अधिकतम बहुकता नियम का वर्णन कर सकेंगे;
- परमाणुओं के इलेक्ट्रॉनिक विन्यास लिख सकेंगे।

"विभिन्न तत्त्वों के रासायनिक व्यवहार में प्रचुर विविधता, उनके परमाणुओं की आंतरिक संरचना में निहित विविधता से पथरेखित होती है।"

© NCERT NOT TO BE PUBLISHED

भारतीय एवं यूनानी दार्शनिकों द्वारा बहुत पहले से ही (400 ई.पू.) परमाणुओं के अस्तित्व को प्रस्तावित किया गया था। उनका विचार था कि परमाणु द्रव्य के मूल संरचनात्मक भाग होते हैं। उनके अनुसार पदार्थ के लगातार विभाजन से अंततः परमाणु प्राप्त होते हैं, जिसे और विभाजित नहीं किया जा सकता। 'परमाणु' (atom) शब्द ग्रीक भाषा से उत्पन्न हुआ है, जिसमें atomio का अर्थ 'न काटे जाने वाला (uncutable) या 'अविभाज्य' (non-divisible) होता है। पहले ये विचार केवल कल्पना पर आधारित थे और इनका प्रायोगिक परीक्षण कर पाना संभव नहीं था। बहुत समय तक ये विचार किसी प्रमाण के बिना ऐसे ही चलते रहे, परंतु 18वीं शताब्दी में वैज्ञानिकों ने इन पर फिर से बल देना शुरू कर दिया।

सन् 1808 में जॉन डाल्टन नामक एक ब्रिटिश स्कूल अध्यापक ने पहली बार वैज्ञानिक आधार पर द्रव्य का परमाणु सिद्धांत प्रस्तुत किया। उनका सिद्धांत, जिसे **'डाल्टन का परमाणु सिद्धांत'** कहा जाता है, ने परमाणु को पदार्थ का मूल कण (एकक-1) माना।

इस एकक को हमने उन प्रायोगिक प्रेक्षणों से आरंभ किया है, जो 19वीं शताब्दी के अंत तथा 20 वीं शताब्दी के आरंभ में वैज्ञानिकों द्वारा किए गए थे। इससे यह स्थापित हुआ कि परमाणुओं को छोटे कणों में, अर्थात् इलेक्ट्रॉनों, प्रोटॉनों तथा न्यूट्रॉनों में विभाजित किया जा सकता है। यह धारणा डाल्टन की धारणा से बिल्कुल अलग थी। उस समय वैज्ञानिकों के सामने निम्नलिखित मुख्य समस्याएँ थीं–

(i) परमाणु के अवपरमाणिवक कणों की खोज के बाद उसके स्थायित्व का स्पष्टीकरण;

(ii) भौतिक तथा रासायनिक– दोनों गुणों के पदों में एक तत्त्व की दूसरे से भिन्नता की तुलना;

(iii) विभिन्न परमाणुओं के संयोजन से विभिन्न प्रकार के अणुओं के बनने की व्याख्या तथा,

(iv) परमाणुओं द्वारा अवशोषित अथवा उत्सर्जित विशिष्ट विद्युत् चुंबकीय विकिरण की उत्पत्ति तथा प्रकृति को समझना।

2.1 अवपरमाण्विक कण

डाल्टन के परमाणु सिद्धांत से द्रव्यमान के संरक्षण के नियम, स्थिर संघटन के नियम तथा बहुगुणिता-अनुपात के नियम की सफलतापूर्वक व्याख्या की जा सकी। लेकिन यह कई प्रयोगों के परिणामों को वर्णित करने में विफल रहा। उदाहरण के लिए– काँच अथवा एबोनाइट (ebonite) को रेशम अथवा फर (fur) के साथ घिसने पर विद्युत् की उत्पत्ति होती है। यद्यपि इन परिणामों से विद्युत्-चुंबकीय परिघटना को समझना संभव हुआ, तथापि इससे सीधे तौर पर परमाणुओं तथा अणुओं की विद्युत्-प्रकृति समझने में सहायता नहीं मिली। 20वीं सदी में विभिन्न प्रकार के अनेक अवपरमाण्विक कणों की खोज हुई, तथापि इस खंड में हम केवल दो कणों– इलेक्ट्रॉन तथा प्रोटॉन के बारे में बात करेंगे।

2.1.1 इलेक्ट्रॉन की खोज

सन् 1830 में माइकेल फैराडे ने दर्शाया कि यदि किसी विलयन में विद्युत् प्रवाहित की जाती है, तो इलेक्ट्रोडों पर रासायनिक अभिक्रियाएँ होती हैं, जिनके परिणामस्वरूप इलेक्ट्रोडों पर पदार्थ का विसर्जन और निक्षेपण (deposition) होता है। उसने कुछ नियम बताए, जिनके विषय में आप 12वीं कक्षा में पढ़ेंगे। इन परिणामों से विद्युत् की कणीय प्रकृति के बारे में पता चलता है।

गैसों में विद्युत्-विसर्जन आदि प्रयोगों के परिणामों से परमाणु की संरचना के बारे में और जानकारी प्राप्त हुई। इन परिणामों की चर्चा करने से पहले आवेशित कणों के व्यवहार के बारे में हमें यह मूल नियम ध्यान में रखना होगा कि समान आवेश एक-दूसरे को प्रतिकर्षित तथा विपरीत आवेश एक-दूसरे को आकर्षित करते हैं।

उन्नीसवीं शताब्दी के छठवें दशक में अनेक वैज्ञानिक, विशेषकर फैराडे ने आंशिक रूप से निर्वातित नलिकाओं, जिन्हें **कैथोड किरण नलिकाएँ** कहा जाता है, में विद्युत्-विसर्जन का अध्ययन आरंभ किया। इसे चित्र 2.1 (क) में दर्शाया गया है। कैथोड किरण नलिका काँच की बनी होती है, जिसमें धातु के दो पतले टुकड़े (जिन्हें **इलेक्ट्रोड** कहते हैं) सील किए हुए होते हैं। गैसों में विद्युत्-विसर्जन को सिर्फ निम्न दाब एवं उच्च विभव पर प्रेक्षित किया जा सकता है। विभिन्न गैसों के दाब को निर्वातन द्वारा नियंत्रित किया गया। इस प्रकार जब इलेक्ट्रोडों पर उच्च वोल्टता लागू की गई, तो नलिका में कणों की धारा के द्वारा ऋणात्मक इलेक्ट्रोड (कैथोड) से धनात्मक इलेक्ट्रोड (ऐनोड) की तरफ विद्युत् का प्रवाह आरंभ हो गया। इनको **कैथोड किरणें** अथवा **कैथोड किरण कण** कहते हैं।

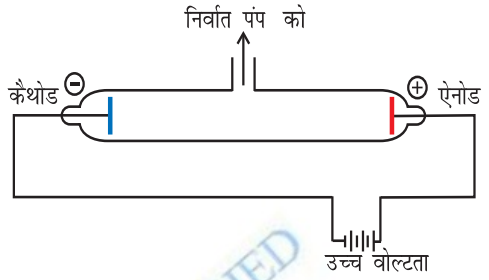

चित्र 2.1 (क) एक कैथोड किरण विसर्जन नलिका

कैथोड से ऐनोड तक विद्युत्धारा के प्रवाह की अतिरिक्त जाँच के लिए ऐनोड में छिद्र तथा ऐनोड के पीछे नली पर स्फुरदीप्त पदार्थ (जिंक सल्फाइड) का लेप किया जाता है। जब ये किरणें ऐनोड के छिद्र में से गुजरकर जिंक सल्फाइड की परत पर टकराती हैं तथा वहाँ एक चमकीला चिह्न बन जाता है (TV में भी ऐसा ही होता है), चित्र 2.1 (ख)। इस प्रयोग के परिणाम संक्षेप में निम्नलिखित हैं–

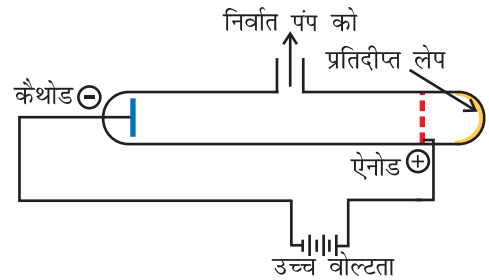

चित्र 2.1 (ख) सछिद्र एनोडयुक्त एक कैथोड-किरण विसर्जन नलिका

(i) कैथोड किरणें (cathode rays) कैथोड से आरंभ होकर ऐनोड की ओर गमन करती हैं।

(ii) ये किरणें स्वयं दिखाई नहीं देतीं, परंतु इनके व्यवहार को गैसों तथा कुछ निश्चित प्रकार के पदार्थों (स्फुरदीप्त तथा प्रतिदीप्त) की उपस्थिति में देखा जा सकता है। ये पदार्थ इनसे टकरा कर चमकते हैं। टेलीवीजन चित्र नलिका कैथोड किरण नलिका होती है। टी.वी. पर्दा, जो स्फुरदीप्त एवं प्रतिदीप्त पदार्थों से लेपित होता है, पर चित्र प्रतिदीप्त होते हैं।

© BSTBPC NOT TO BE PUBLISHED

(iii) विद्युत् और चुंबकीय क्षेत्रों की अनुपस्थिति में ये किरणें सीधी दिशा में गमन करती हैं।

(iv) विद्युत् और चुंबकीय क्षेत्रों की उपस्थिति में कैथोड किरणों का व्यवहार ऋणावेशित कणों के अपेक्षित व्यवहार के समान होता है, जो यह सिद्ध करता है कि कैथोड किरणों में ऋणावेषित कण होते हैं, जिन्हें **इलेक्ट्रॉन** कहते हैं।

(v) कैथोड किरण नलिका के इलेक्ट्रोडों के पदार्थ एवं उपस्थित गैस की प्रकृति पर कैथोड-किरणों (इलेक्ट्रॉन) के लक्षण निर्भर नहीं करते हैं।

उपरोक्त परिणामों से यह निष्कर्ष निकलता है कि इलेक्ट्रॉन सभी परमाणुओं के मूल घटक होते हैं।

2.1.2 इलेक्ट्रॉन का आवेश द्रव्यमान अनुपात

ब्रिटिश भौतिक विज्ञानी जे.जे. थॉमसन ने सन् 1897 में कैथोड किरण नलिका का उपयोग करके और इलेक्ट्रॉनों के पथ तथा एक दूसरे के लंबवत विद्युत् और चुंबकीय क्षेत्र लागू करके विद्युत् आवेश (e) और द्रव्यमान (m_e) के बीच अनुपात को मापा (चित्र 2.2)। थॉमसन ने यह तर्क दिया कि विद्युत् और चुंबकीय क्षेत्रों की उपस्थिति में इलेक्ट्रॉनों के अपने पथ से विचलन की मात्रा निम्नलिखित बातों पर निर्भर करती है–

(i) कण पर ऋणावेश का मान अधिक होने पर विद्युत् तथा चुंबकीय क्षेत्रों के साथ अन्योन्य क्रिया बढ़ जाती है इस प्रकार विचलन अधिक होता है।

(ii) कण का द्रव्यमान-कण के हल्का होने से विचलन अधिक होता है।

(iii) विद्युत् अथवा चुंबकीय क्षेत्र की प्रबलता इलेक्ट्रोडों पर वोल्टता अथवा चुम्बकीय क्षेत्र की प्रबलता बढ़ाने से इलेक्ट्रॉनों का मूल पथ से विचलन बढ़ जाता है।

जब केवल विद्युत् क्षेत्र लगाया जाता है, तब इलेक्ट्रॉन अपने पथ से विचलित होकर बिंदु A पर कैथोड किरण नलिका से टकराते हैं। इसी प्रकार जब केवल चुंबकीय क्षेत्र लागू किया जाता है, तब इलेक्ट्रॉन बिंदु C पर कैथोड किरण-नलिका से टकराते हैं। विद्युत् और चुंबकीय क्षेत्र की प्रबलता के सावधानी- पूर्वक संतुलन से इन क्षेत्रों की अनुपस्थिति में अनुपालित पथ पर इलेक्ट्रॉनों को वापस लाया जा सकता है। यह पर्दे पर बिंदु B से टकराता है।

विद्युत् क्षेत्र की प्रबलता या चुंबकीय क्षेत्र की प्रबलता में से किसी एक की उपस्थिति में इलेक्ट्रॉनों के विचलन की मात्रा का सही-सही माप करके और उसके प्रेक्षण से थॉमसन, e/m_e के मान का निर्धारण कर सके–

$$\frac{e}{m_e} = 1.758820 \ \ 10^{11} \text{ C kg}^{-1} \qquad (2.1)$$

जहाँ m_e इलेक्ट्रॉन का द्रव्यमान kg में और उस पर आवेश कूलॉम (C) में है। चूँकि इलेक्ट्रॉन ऋणावेशित होते हैं, अत: इलेक्ट्रॉन पर वास्तविक (ऋण) आवेश $-e$ है।

2.1.3 इलेक्ट्रॉनों पर आवेश

आर.ए. मिलिकन (1868-1953) ने इलेक्ट्रॉन पर आवेश के निर्धारण के लिए एक विधि तैयार की, जो **तेल बूँद प्रयोग** (1906-14) कहलाता है।

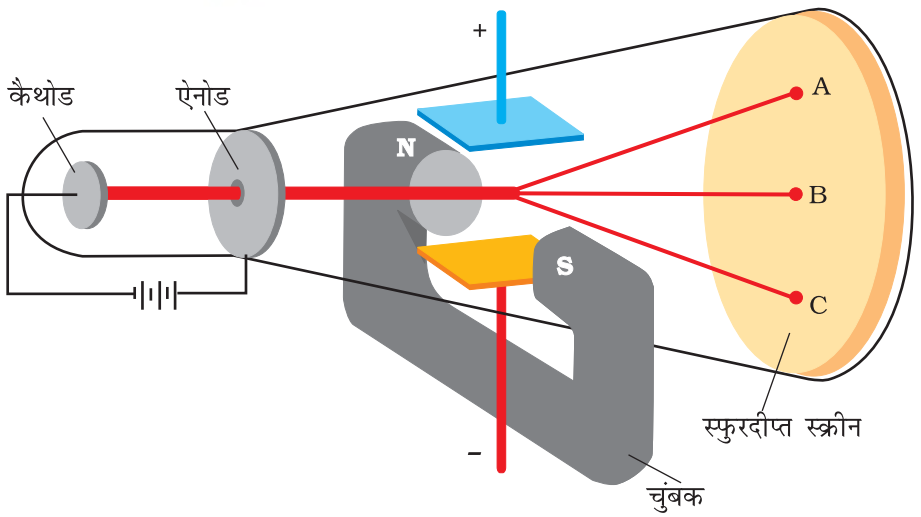

चित्र 2.2 इलेक्ट्रॉन के आवेश और द्रव्यमान के बीच अनुपात का निर्धारण करने का उपकरण

© NCERT NOT TO BE REPUBLISHED

मिलिकन की तेल की बूँद विधि

इस विधि में कणित्र (atomizer) द्वारा उत्पन्न कुहासे के रूप में तेल की बूँदों को विद्युत् संघनित्र (condenser) के ऊपर की प्लेट में उपस्थित छोटे से छिद्र से गुजारा जाता है। इन बूँदों के नीचे की ओर गति को माइक्रोमीटरयुक्त दूरबीन के द्वारा देखा गया। इन बूँदों के गिरने की दर को मापकर मिलिकन तेल की बूँदों के द्रव्यमान को मापा सके। कक्षक के अंदर की वायु को X-किरणपुंज प्रवाहित करके आयनित किया गया। गैसीय आयनों तथा तेल बूँदों के संघट्ट से तेल बूँदों पर विद्युत् आवेश उत्पन्न हुआ। तेल की इन बूँदों पर विद्युत् आवेश X-किरणों द्वारा उत्पन्न अधिशोषण वाले आयनों द्वारा अपनाया गया। इन आवेशित तेल की बूँदों का गिरना रोका जा सकता है, त्वरित किया जा सकता है अथवा स्थिर किया जा सकता है। ये बूँदों पर आवेश और प्लेट पर लागू वोल्टता की धुव्रणता तथा प्रबलता पर निर्भर करता है। तेल की बूँदों की गति पर विद्युत् क्षेत्र प्रबलता के प्रभाव को ध्यानपूर्वक माप कर मिलिकन ने यह निष्कर्ष निकाला कि बूँदों पर विद्युत् आवेश (q) का परिमाण हमेशा विद्युत् आवेश, (e) का गुणांक होता है, अर्थात् $q = ne$, जहाँ $n = 1, 2, 3...$

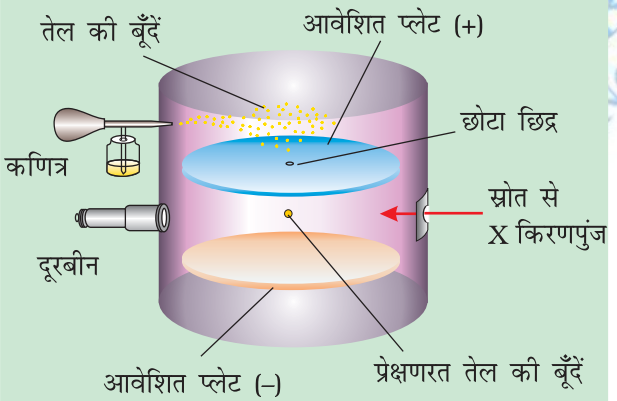

चित्र 2.3 आवेश 'e' मापन के लिए मिलिकन का तेल की बूँद उपकरण। कक्षक में गतिमान तेल की बूँद पर कार्यकारी बल: गुरुत्वाकर्षण, विद्युत् क्षेत्र के कारण वैद्युत्स्थैतिक तथा श्यानता तलकर्षण बल

उन्होंने पाया कि इलेक्ट्रान पर आवेश $-1.6\ 10^{-19}$ C, विद्युत् आवेश का नवीनतम मान $1.6022\ 10^{-19}$C है। थॉमसन के e/m_e अनुपात के मान से इन परिणामों को संयुक्त करके इलेक्ट्रॉन का द्रव्यमान (m_e) निर्धारित किया।

$$m_e = \frac{e}{e/m_e} = \frac{1.6022 \times 10^{-19}\text{C}}{1.758820 \times 10^{11}\text{C kg}^{-1}}$$

$$= 9.109410^{-31}\text{ kg} \qquad (2.2)$$

2.1.4 प्रोटॉन तथा न्यूट्रॉन की खोज

परिवर्तित कैथोड किरण नलिका में किए गए विद्युत् विसर्जन से धनावेशित कणों की खोज हुई, जिन्हें **कैनाल किरणें** भी कहा जाता है। इन धनावेशित कणों के अभिलक्षण निम्नलिखित हैं–

(i) कैथोड किरणों के विपरीत, धनावेशित कण कैथोड किरण नलिका में उपस्थित गैस की प्रकृति पर निर्भर करते हैं। ये साधारण धनावेशित गैसीय आयन होते हैं।

(ii) कणों के आवेश और द्रव्यमान का अनुपात उस गैस पर निर्भर करता है, जिससे ये उत्पन्न होते हैं।

(iii) कुछ धनावेशित कण विद्युत् आवेश की मूल इकाई के गुणक होते हैं।

(iv) चुंबकीय तथा विद्युत् क्षेत्रों में इन कणों का व्यवहार इलेक्ट्रॉन अथवा कैथोड किरण के लिए प्रेक्षित व्यवहार के विपरीत है।

सबसे छोटा और हल्का धन आयन हाइड्रोजन से प्राप्त हुआ था इसे **प्रोटॉन** कहते हैं। इस धनावेशित कण का पृथक्करण और लक्षण की पुष्टि सन् 1919 में हुई थी। बाद में परमाणु में एक वैद्युत उदासीन कण की आवश्यक्ता महसूस की गई। इस कण की खोज सन् 1932 में चैडविक ने बेरीलियम पर $\propto$ कणों के प्रहार से की। जब प्रोटॉन के भार से कुछ अधिक भार वाले विद्युत् उदासीन कण निगर्मित हुए। उन्होंने इन कणों को **न्यूट्रॉन** कहा। इन मूल कणों के महत्त्वपूर्ण गुण सारणी 2.1 में दिए गए हैं।

2.2 परमाणु मॉडल

पूर्व भागों में बताए गए प्रयोगों से प्राप्त प्रेक्षणों से यह सुझाव मिला कि डाल्टन के अविभाज्य परमाणु में धनात्मक तथा ऋणात्मक आवेशों वाले अव-परमाणु (sub-atomic) कण होते हैं। इन आवेशित परमाणुओं के वितरण की व्याख्या करने के लिए विभिन्न परमाणु मॉडल प्रस्तावित किए गए। यद्यपि इनमें से हर मॉडल द्वारा कणों के स्थायित्व की व्याख्या नहीं की जा सकी। इनमें से दो मॉडल जे.जे. थॉमसन और अर्नेस्ट रदरफोर्ड द्वारा प्रस्तावित किए गए थे, जो इस प्रकार हैं–

2.2.1 परमाणु का थॉमसन मॉडल

सन् 1898 में जे.जे. थॉमसन ने प्रस्तावित किया कि परमाणु एक समान आवेशित गोला (त्रिज्या लगभग 10^{-10}m) होता है, जिसमें धनावेश समान रूप से वितरित रहता है। इसके ऊपर इलेक्ट्रॉन इस प्रकार स्थित होते हैं कि उससे स्थायी स्थिर वैद्युत व्यवस्था प्राप्त हो जाती है (चित्र 2.4)। इस मॉडल को विभिन्न

© NCERT NOT TO BE REPUBLISHED

सारणी 2.1 मूल कणों के गुण

नाम	चिह्न	परम आवेश C	सापेक्ष आवेश	द्रव्यमान	द्रव्यमान	लगभग द्रव्यमान/u
इलेक्ट्रॉन	e	-1.6022×10^{-19}	−1	9.10939×10^{-31}	0.00054	0
प्रोटॉन	p	$+1.6022\times10^{-19}$	+1	1.67262×10^{-27}	1.00727	1
न्यूट्रॉन	n	0	0	1.67493×10^{-27}	1.00867	1

प्रकार के नाम दिए गए हैं। उदाहरणार्थ– प्लम पुडिंग (plum pudding)] रेज़िन पुडिंग (raisin pudding) अथवा तरबूज (watermelon) मॉडल। इस मॉडल में परमाणु के धनावेश को पुडिंग अथवा तरबूज के समान माना गया है, जिसमें इलेक्ट्रॉन क्रमशः प्लम अथवा बीज की तरह उपस्थित हैं। इस मॉडल का एक महत्त्वपूर्ण लक्षण यह है कि इसमें परमाणु का द्रव्यमान पूरे परमाणु पर समान रूप से बँटा हुआ माना गया है। यद्यपि यह मॉडल परमाणु की विद्युत् उदासीनता को स्पष्ट करता था, किंतु यह भविष्य के प्रयोगों के परिणामों के संगत नहीं पाया गया। थॉमसन को सन् 1906 में भौतिकी में गैसों की विद्युत् चालकता पर सैद्धांतिक एवं प्रायोगिक जाँच के लिए नोबेल पुरस्कार से सम्मानित किया गया।

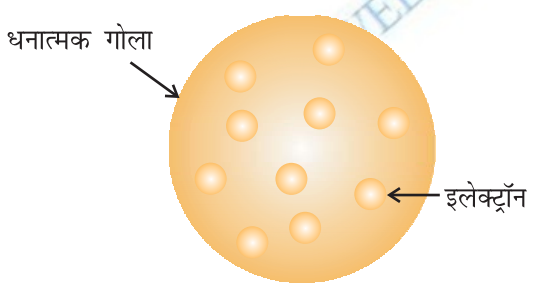

चित्र 2.4 परमाणु का थॉमसन मॉडल

19वीं सदी के दूसरे अर्धांश में विभिन्न प्रकार की किरणों की खोज हुई। विल्हेम रॉन्टजेन (Wilhem Roentgen, 1845-1923) ने सन् 1895 में दर्शाया कि कैथोड किरण नली में उपस्थित पदार्थ से टकराने पर इलेक्ट्रॉन ऐसी किरणें उत्पन्न करते हैं, जो कैथोड किरण नली के बाहर रखे प्रतिदीप्त (fluorescent) पदार्थ में प्रतिदीप्ति उत्पन्न कर सकते हैं। चूँकि रॉन्टजेन को इन किरणों की प्रकृति का पता नहीं था, अतः उन्होंने इन्हें X- किरणों का नाम दिया, जो आज भी प्रचलित है। ऐसा देखा गया कि इलेक्ट्रॉनों के अधिक घनत्व वाले धातु ऐनोड लक्ष्य से टकराने के कारण प्रभावी X-किरणें उत्पन्न होती हैं। X-किरणें विद्युत् तथा चुंबकीय क्षेत्रों से विक्षेपित (deflect) नहीं होती हैं। इन किरणों के पदार्थ में अति उच्च भेदनशक्ति (penetrating power) होती है। यही कारण है कि वस्तुओं के आंतरिक अध्ययन में इन किरणों का उपयोग होता है। इन किरणों की तरंग-दैर्ध्य (wavelength) बहुत कम होती है (0.1 nm) और वैद्युत-चुंबकीय व्यवहार दर्शाती हैं (खंड 2.3.1)।

हेनरी बैकुरल (Henri Becqueral 1852 –1908) ने देखा कि कुछ तत्त्व विकिरण का उत्सर्जन स्वयं करते हैं। उन्होंने इस परिघटना को **रेडियोऐक्टिवता** (radioactivity) कहा तथा बताया कि ऐसे तत्त्व **रेडियोऐक्टिव तत्त्व** कहलाते हैं। इस क्षेत्र को मेरी क्यूरी, पियरे क्यूरी रदरफोर्ड तथा फ्रेडरिक सोडी ने विकसित किया। इसमें तीन प्रकार की किरणों, $\propto$, β तथा γ का उत्सर्जन देखा गया। रदरफोर्ड ने पाया कि α किरणों में दो इकाई धनात्मक आवेश और चार इकाई परमाणु द्रव्यमान वाले उच्च ऊर्जा कण होते हैं। उन्होंने यह निष्कर्ष निकाला कि α कण हीलियम नाभिक होते हैं, क्योंकि दो इलेक्ट्रॉनों के साथ मिलकर α कण हीलियम गैस प्रदान करते हैं। β किरणें इलेक्ट्रॉनों के समान ऋणात्मक आवेश वाले कण होते हैं। γ किरणें X-किरणों के समान उच्च ऊर्जा विकिरण होती हैं, जिनकी प्रकृति उदासीन होती है और जिनका कोई कण नहीं होता। भेदन क्षमता सबसे कम α किरणों की, उसके बाद β किरणों (α कणों से 100 गुना अधिक) तथा सबसे अधिक γ किरणों की (α कणों से 1000 गुना अधिक) होती है।

2.2.2 रदरफोर्ड का नाभिकीय परमाणु मॉडल

रदरफोर्ड और उसके विद्यार्थियों ने (हेंस गीगर और अर्नेस्ट मार्सडेन) ने बहुत सोने की पतली पन्नी (gold foil) पर α-कणों की बौछार की। रदरफोर्ड के प्रसिद्ध α-कण प्रकीर्णन प्रयोग को चित्र 2.5 में दिखाया गया है।

सोने की पतली पन्नी (100 nm मोटाई) पर एक रेडियोऐक्टिव स्रोत से उच्च ऊर्जा वाले अल्फा कणों को डाला गया। इस पतली पन्नी के आसपास वृत्ताकर प्रतिदीप्तिशील (fluorescent) जिंक सल्फाइड से बना स्क्रीन होता है। जब कोई अल्फा कण इस स्क्रीन से टकराता है, तो प्रकाश की स्फुरक्षणीदीप्ति (flash) उत्पन्न होती है।

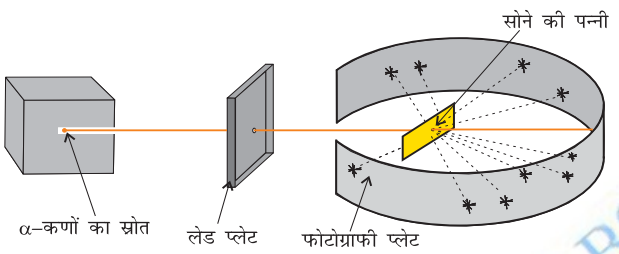

(क) *रदरफोर्ड का प्रकीर्णन प्रयोग*

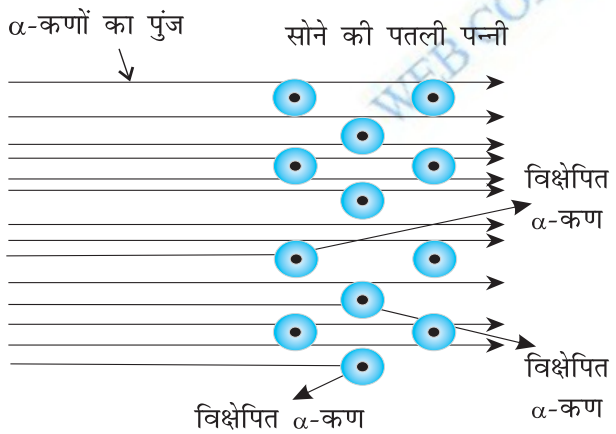

(ख) सोने की पन्नी का व्यवस्थात्मक चित्र

चित्र 2.5 *रदरफोर्ड के प्रकीर्णन प्रयोग का रेखांकित चित्र। जब सोने की एक पतली पन्नी पर अल्फा (α) कणों की बौछार (shot) की जाती है, तो उसमें से अधिकांश कण प्रभावित हुए बिना पत्ती को पार कर जाते हैं, जबकि कुछ का विक्षेपण हो जाता है।*

प्रकीर्णन अनुप्रयोग के परिणाम काफी अनपेक्षित थे। थॉमसन के परमाणु मॉडल के अनुसार पत्ती में उपस्थित सोने के प्रत्येक परमाणु का द्रव्यमान पूरे परमाणु पर एक समान रूप से बँटा हुआ होना चाहिए। अल्फा कणों में ऊर्जा इतनी अधिक होती है कि वे द्रव्यमान के ऐसे समान वितरण से भी सीधे पार कर जाएँगे। उन्हें अपेक्षा थी कि पत्ती से टकराने के बाद कणों की गति धीमी हो जाएगी और उनकी दिशा बहुत कम कोण से बदल जाएगी। उन्होंने देखा कि–

(i) अधिकांश अल्फा कण सोने की पत्ती से विक्षेपित हुए बिना निकल गए।

(ii) अल्फा कणों का कम अंश बहुत कम कोण से विक्षेपित हुआ।

(iii) बहुत ही थोड़े कण (20000 में से 1) पीछे की ओर लौटे अर्थात् लगभग 180° के कोण से उनका विक्षेपण हुआ।

इन प्रेक्षणों के आधार पर रदरफोर्ड ने परमाणु की संरचना के बारे में निम्नलिखित निष्कर्ष निकाले–

(i) परमाणु के अंदर अधिकांश स्थान रिक्त होता है, क्योंकि अधिकांश अल्फा कण सोने की पन्नी को पार कर जाते हैं।

(ii) कुछ ही धनावेशित α कण विक्षेपित होते हैं। यह विक्षेपण अवश्य ही अत्यधिक प्रतिकर्षण बल (repulsive force) के कारण होगा। इससे यह पता चलता है कि थॉमसन के विचार के विपरीत परमाणु के अंदर धनावेश समान रूप से बँटा हुआ नहीं है। धनावेश बहुत कम आयतन के अंदर संकेंद्रित होना चाहिए, जिससे धनावेशित अल्फा कणों का प्रतिकर्षण और विक्षेपण हुआ हो।

(iii) रदरफोर्ड ने गणना करके दिखाया कि नाभिक का आयतन, परमाणु के कुल आयतन की तुलना में अत्यंत कम (नगण्य) होता है। परमाणु की त्रिज्या लगभग 10^{-10} m होती है, जबकि नाभिक की त्रिज्या लगभग 10^{-15} m होती है। आकार के इस अंतर का अंदाज इस बात से लगाया जा सकता है कि यदि नाभिक को क्रिकेट की गेंद जितना माना जाए, तो परमाणु की त्रिज्या लगभग 5 km होगी।

ऊपर दिए गए प्रेक्षणों और परिणामों के आधार पर रदरफोर्ड ने परमाणु का नाभिकीय मॉडल प्रस्तुत किया। इस मॉडल के अनुसार–

(i) परमाणु का धनावेश तथा अधिकांश द्रव्यमान एक अति अल्प क्षेत्र में केंद्रित था। परमाणु के इस अति अल्प भाग को रदरफोर्ड ने 'नाभिक' कहा।

© BSTBPC WEB COPY NOT TO BE PUBLISHED

(ii) नाभिक के चारों ओर इलेक्ट्रॉन वृत्ताकार पथों, जिन्हें **कक्षा** (orbit) कहा जाता है, में बहुत तेजी से घूमते हैं। अत: रदरफोर्ड का परमाणु मॉडल सौरमंडल से मिलता-जुलता है, जिसमें सूर्य नाभिक के समान होता है और ग्रह गतिमान इलेक्ट्रॉन के समान होते हैं।

(iii) इलेक्ट्रॉन और नाभिक आपस में आकर्षण के स्थिर वैद्युत् बलों के द्वारा बँधे रहते हैं।

2.2.3 परमाणु संख्या तथा द्रव्यमान संख्या

नाभिक का धनावेश उसके प्रोटॉनों के कारण होता है। जैसा पहले स्थापित हो चुका है, प्रोटॉन पर आवेश इलेक्ट्रॉन के आवेश के बराबर, लेकिन विपरीत चिह्न का होता है। इसका अर्थ यह है कि नाभिक में उपस्थित प्रोटॉनों की संख्या परमाणु संख्या (Z) के बराबर होती है अर्थात् प्रोटॉनों की संख्या हाइड्रोजन नाभिक में 1 और सोडियम में 11 होती है, अत: इनका परमाणु क्रमांक क्रमश: 1 तथा 11 होगा। परमाणु को उदासीन बनाए रखने के लिए उसमें इलेक्ट्रॉनों की संख्या, प्रोटॉनों की संख्या (परमाणु संख्या Z) के बराबर होगी। उदाहरणार्थ– हाइड्रोजन तथा सोडियम परमाणु में इलेक्ट्रॉनों की संख्या क्रमश: 1 तथा 11 होती है।

***परमाणु संख्या* (Z)** = **परमाणु के नाभिक में प्रोटॉनों की संख्या**
= **उदासीन परमाणु में इलेक्ट्रॉनों की संख्या** (2.3)

नाभिक का धनावेश उसके प्रोटॉनों के कारण होता है, परंतु नाभिक का द्रव्यमान प्रोटॉनों तथा कुछ अन्य उदासीन कणों (जिसमें प्रत्येक का द्रव्यमान प्रोटॉन के द्रव्यमान के लगभग बराबर होता है) के कारण होता है। इस उदासीन कण को **न्यूट्रॉन** (n) कहते हैं। नाभिक में उपस्थित प्रोटॉनों और न्यूट्रॉनों को **न्यूक्लिऑन्स** (nucleons) कहते हैं। न्यूक्लिऑनों की कुल संख्या को परमाणु की द्रव्यमान संख्या (A) कहते हैं।

द्रव्यमान संख्या (A) = **प्रोटॉन की संख्या (Z)+ न्यूट्रॉन की संख्या** (n) 2.4)

2.2.4 समस्थानिक एवं समभारिक

किसी भी परमाणु के संघटन को तत्त्व के प्रतीक (X) द्वारा दर्शाया जा सकता है, जिसमें बाईं ओर एक पूर्व-लग्न लिखा जाता है, जो परमाणु द्रव्यमान संख्या (A) होती है। बाईं ओर ही अनुलग्नक के रूप में परमाणु संख्या (Z) लिखी जाती है, अर्थात् ${}^{A}_{Z}X$ समभारिक समान द्रव्यमान संख्या, परंतु भिन्न परमाणु संख्या के परमाणु होंगे; उदाहरणार्थ– ${}^{14}_{6}C$ तथा ${}^{14}_{7}N$। समस्थानिक वह परमाणु होते हैं, जिनकी परमाणु संख्या (Z) समान एवं द्रव्यमान संख्या (A) भिन्न होती है। दूसरे शब्दों में, समीकरण 2.4 के अनुसार, यह स्पष्ट है कि समस्थानिकों में अंतर का कारण नाभिक में उपस्थित भिन्न-भिन्न न्यूट्रॉनों की संख्या है। उदाहरण के लिए फिर से हाइड्रोजन परमाणु को लें। 99.985% हाइड्रोजन परमाणुओं में केवल एक प्रोटॉन होता है, जिसे **प्रोटियम** (${}^{1}_{1}H$) कहते हैं। शेष हाइड्रोजन परमाणु में दो समस्थानिक होते हैं– **ड्यूटीरियम** (**${}^{2}_{1}D$, 0.015%**), जिसमें 1 प्रोटॉन तथा 1 न्यूट्रॉन होता है और **ट्राइटियम (Tritium, ${}^{3}_{1}T$)**, जिसमें 1 प्रोटॉन तथा 2 न्यूट्रॉन होते हैं। ट्राइटियम पृथ्वी में लेश मात्रा में पाया जाता है। समस्थानिकों के कुछ अन्य उदाहरण भी हैं; जैसे– कार्बन, जिसमें 6 प्रोटॉनों के अलावा 6,7 तथा 8 न्यूट्रॉन (${}^{12}_{6}C, {}^{13}_{6}C, {}^{14}_{6}C$) होते हैं; क्लोरीन परमाणु, जिसमें 17 प्रोटॉनों के अलावा 18 तथा 20 न्यूट्रॉन (${}^{35}_{17}Cl, {}^{37}_{17}Cl$) होते हैं।

समस्थानिकों के विषय में अंतिम महत्त्वपूर्ण बात यह है कि परमाणुओं के रासायनिक गुण इलेक्ट्रॉनों की संख्या द्वारा नियंत्रित होते हैं, जो नाभिक में प्रोटॉनों की संख्या द्वारा निर्धारित होती है। नाभिक में रासायनिक गुणों पर न्यूट्रॉनों की संख्या का प्रभाव बहुत कम होता है। अत: रासायनिक अभिक्रियाओं में सभी समस्थानिक एक सा व्यवहार दर्शाते हैं।

उदाहरण 2.1

${}^{80}_{35}Br$ में प्रोटॉनों, न्यूट्रॉनों तथा इलेक्ट्रॉनों की संख्या का परिकलन कीजिए।

हल

यहाँ ${}^{80}_{35}Br$, Z = 35, A = 80, स्पीशीज़ उदासीन हैं।
प्रोटॉनों की संख्या = इलेक्ट्रॉनों की संख्या = Z = 35
न्यूट्रॉनों की संख्या = 80 – 35 = 45 (समीकरण 2.4)

उदाहरण 2.2

किसी स्पीशीज़ में इलेक्ट्रॉन, प्रोटॉन तथा न्यूट्रॉनों की संख्या क्रमश: 18, 16 तथा 16 है। इसका प्रयुक्त प्रतीक लिखिए।

हल

परमाणु संख्या-प्रोटॉनों की संख्या = 16
यह तत्त्व सल्फर (S) है।

© BSTBPC WEB COPY NOT TO BE PUBLISHED

परमाणु द्रव्यमान संख्या = प्रोटॉनों की संख्या
+ न्यूट्रॉनों की संख्या
= 16 + 16 = 32

यह स्पीशीज़ उदासीन नहीं है, क्योंकि प्रोटॉनों की संख्या इलेक्ट्रॉनों की संख्या के बराबर नहीं है। यह एक ऋणायन (ऋणावेशित) है, जिसका आवेश इलेक्ट्रॉनों के आधिक्य के बराबर है = (18 – 16 = 2) इसका प्रतीक $^{32}_{16}S^{2-}$ है।

नोट : $^{A}_{Z}X$ संकेत का प्रयोग करने से पहले यह पता कर लें कि ये स्पीशीज़ उदासीन परमाणु हैं अथवा धनायन या ऋणायन हैं। यदि यह उदासीन परमाणु है, तो समीकरण (2.3) मान्य है, जिसमें

प्रोटॉनों की संख्या = इलेक्ट्रॉनों की संख्या = परमाणु संख्या

होती है। यदि स्पीशीज़ एक आयन है, तो यह निर्धारित कीजिए कि प्रोटॉनों की संख्या इलेक्ट्रॉनों की संख्या से अधिक है तो केटायन (धनायन) और कम है, तो ऐनायन (ऋणायन) होगा। न्यूट्रॉनों की संख्या हमेशा A – Z से दी जाती है, चाहे स्पीशीज़ उदासीन हो अथवा आयन हो।

2.2.5 रदरफोर्ड मॉडल के दोष

रदरफोर्ड का नाभिकीय मॉडल सौरमंडल का एक छोटा रूप था, जिसमें नाभिक को भारी सूर्य की तरह और इलेक्ट्रॉनों को हल्के ग्रहों की तरह सोचा गया था तथा यह माना गया था कि इलेक्ट्रॉन और नाभिक के बीच कूलॉम बल (kq_1q_2/r^2) होता है, जहाँ q_1 और q_2 आवेश, r उन आवेशों के मध्य की दूरी और k आनुपातिकता स्थिरांक है। कूलॉम बल गणितीय रूप में गुरुत्वाकर्षण बल $\left(G.\frac{m_1m_2}{r^2}\right)$ के समान होता है, जहाँ m_1 और m_2 द्रव्यमान, r उन द्रव्यमानों के बीच की दूरी और G गुरुत्वाकर्षण स्थिरांक होता है। जब सौरमंडल पर चिरसम्मत यांत्रिकी* को लागू किया जाता है तो पता चलता है कि ग्रह सूर्य के चारों ओर निश्चित कक्षाओं में घूमते हैं। इस सिद्धांत से ग्रहों की कक्षाओं के बारे में सही-सही गणना की जा सकती है, जो प्रायोगिक मापन से मेल खाती है। सौरमंडल और नाभिकीय मॉडल में समानता से यह पता चलता है कि इलेक्ट्रॉन नाभिक के चारों ओर निश्चित कक्षाओं में गति करते हैं, परंतु जब कोई पिंड किसी कक्षा में गति करता है, तो इसमें त्वरण (acceleration) होना चाहिए (यदि पिंड स्थिर वेग से किसी कक्षा में गति कर रहा हो, तो भी दिशा परिवर्तन के कारण उसमें त्वरण होना चाहिए)। अतः नाभिकीय मॉडल में कक्षाओं में घूमते ग्रहों की तरह इलेक्ट्रॉन का भी त्वरण होना चाहिए। मैक्सवेल के विद्युत् चुंबकीय सिद्धांत के अनुसार, त्वरित आवेशित कणों को विद्युत्-चुंबकीय विकिरण का उत्सर्जन करना चाहिए (ग्रहों के साथ ऐसा इसलिए नहीं होता है, क्योंकि वे आवेशित नहीं होते हैं)। इसलिए किसी कक्षा में उपस्थित इलेक्ट्रॉन से विकिरण उत्सर्जित होगा। इस विकिरण के लिए ऊर्जा इलेक्ट्रॉनिक गति से प्राप्त होगी। इस प्रकार कक्षा (orbit) छोटी होती जाएगी। गणनाओं से यह पता चलता है कि इलेक्ट्रॉन को सर्पिल (spiral) करते हुए नाभिक में पहुँचने में $10^{-8}s$ लगेंगे, किंतु वास्तव में ऐसा नहीं होता है। इस प्रकार यदि इलेक्ट्रॉन की गति का चिरसम्मत यांत्रिकी तथा विद्युत्-चुंबकीय सिद्धांत के अनुसार वर्णन किया जाए, तो रदरफोर्ड का परमाणु मॉडल किसी परमाणु के स्थायित्व की व्याख्या नहीं कर पाता है। आप यह पूछ सकते हैं कि यदि कक्षाओं में इलेक्ट्रॉनों की गति से परमाणु अस्थायी हो जाता है, तो क्यों नहीं हम इलेक्ट्रॉनों को नाभिक के चारों ओर स्थिर मान लेते हैं? यदि इलेक्ट्रॉनों को स्थिर माना जाता है, तो अत्यधिक घनत्व वाले नाभिक और इलेक्ट्रॉनों के बीच स्थिर वैद्युत आकर्षण इन इलेक्ट्रॉनों को नाभिक की ओर खींच लेगा, जिससे थॉमसन परमाणु मॉडल का एक लघु रूप प्राप्त होगा।

रदरफोर्ड के परमाणु मॉडल का एक दूसरा गंभीर दोष यह है कि यह परमाणुओं की इलेक्ट्रॉनिक संरचना के बारे में कुछ भी वर्णन नहीं करता है, अर्थात् इससे यह पता नहीं चलता है कि ये इलेक्ट्रॉन नाभिक के चारों ओर किस प्रकार विद्यमान हैं और इनकी ऊर्जा क्या है?

2.3 बोर के परमाणु मॉडल के विकास की पृष्ठभूमि

ऐतिहासिक रूप में द्रव्य के साथ विकिरण की अन्योन्य क्रियाओं के अध्ययन से प्राप्त परिणामों से परमाणुओं एवं अणुओं की संरचना के संबंध में अत्यधिक सूचना प्राप्त हुई। नील बोर ने इन परिणामों का उपयोग करके रदरफोर्ड द्वारा प्रतिपादित मॉडल में सुधार किया। बोर के परमाणु मॉडल के विकास में दो बिंदुओं की अहम भूमिका रही है।

(i) विद्युत्-चुंबकीय विकिरण का द्वैत व्यवहार होना, जिसका

*चिरसम्मत यांत्रिकी सैद्धांतिक विज्ञान है, जो न्यूटन के 'गति के नियमों' पर आधारित है। यह स्थूल वस्तुओं के 'गति के नियमों' को समझाती है।

© NCERT NOT TO BE REPUBLISHED

अर्थ यह है कि विकिरण तरंग तथा कण दोनों के गुण प्रदर्शित करते हैं।

(ii) परमाणु स्पेक्ट्रम से संबंधित प्रायोगिक परिणाम, जिनकी व्याख्या यह मान लेने से की जा सकी कि परमाणुओं में इलेक्ट्रॉनिक ऊर्जा के स्तर क्वांटित होते हैं। (खंड 2.4)

2.3.1 विद्युत्-चुंबकीय विकिरण की तरंग प्रकृति

जेम्स मैक्सवेल (सन् 1870) ने सबसे पहले आवेशित पिंडों के बीच अन्योन्य क्रियाओं और स्थूल स्तर पर विद्युत् तथा चुंबकीय क्षेत्रों के व्यवहार की व्याख्या की। उसने यह सुझाव दिया कि विद्युत् आवेशित कणों को जब त्वरित किया जाता है, तो एकांतर विद्युत् एवं चुंबकीय क्षेत्र उत्पन्न होते हैं, जो विद्युत् एवं चुंबकीय क्षेत्र तरंगों (waves) के रूप में संचरित होते हैं, **जिन्हें विद्युत्-चुंबकीय तरंग अथवा विद्युत्-चुंबकीय विकिरण** कहते हैं।

प्रकाश विकिरण का एक रूप है, जिसकी जानकारी वर्षों पूर्व से है और पुरातन काल से इसकी प्रकृति के बारे में समझने की कोशिश की गई है। पूर्व में (न्यूटन) प्रकाश को कणों (कणिकाएँ, corpuscles) का बना हुआ माना जाता था। केवल 19वीं शताब्दी में प्रकाश की तरंग-प्रकृति प्रतिपादित हुई।

पहली बार मैक्सवेल ने बताया कि प्रकाश तरंगें दोलायमान विद्युत् तथा चुंबकीय व्यवहार से संबंधित होती हैं (चित्र 2.6), यद्यपि वैद्युत-चुंबकीय तरंग की गति की प्रकृति जटिल होती है, लेकिन हम यहाँ कुछ सामान्य गुणों पर विचार करेंगे।

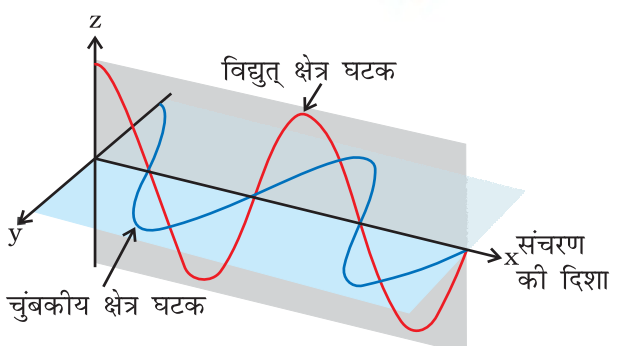

चित्र 2.6 *विद्युत्-चुंबकीय तरंग के विद्युत् तथा चुंबकीय क्षेत्र घटक। ये घटक समान तरंग-दैर्घ्य, आवृत्ति, गति तथा आयाम वाले होते हैं, किंतु वे एक दूसरे के लंबवत तलों में कंपन करते हैं।*

(i) दोलायमान आवेशित कणों द्वारा उत्पन्न विद्युत् तथा चुंबकीय क्षेत्र एक दूसरे के लंबवत होते हैं। ये दोनों तरंग के संचरण की दिशा के भी लंबवत् होते हैं। विद्युत्-चुंबकीय तरंग का एक सरल रूप चित्र 2.6 में दिखाया गया।

(ii) ध्वनि अथवा जल-तरंगों के विपरीत विद्युत्-चुंबकीय तरंगों को किसी माधयम की आवश्यकता नहीं होती और ये निर्वात में गति कर सकती हैं।

(iii) अब यह तथ्य अच्छी तरह स्थापित हो चुका है कि विद्युत्-चुंबकीय विकिरण कई प्रकार की होती हैं, जिनकी तरंग-दैर्घ्य या आवृत्ति एक दूसरे से भिन्न होती है। ये एक साथ मिलकर विद्युत्-चुंबकीय स्पेक्ट्रम बनाती हैं (चित्र 2.7)। स्पेक्ट्रम के भिन्न-भिन्न क्षेत्रों के भिन्न-भिन्न नाम हैं। कुछ उदाहरण हैं: रेडियो-आवृत्ति (radiofrequency) क्षेत्र, (10^6 Hz के लगभग), जिसका उपयोग प्रसारण में किया जाता है; सूक्ष्म तरंग (microwave) क्षेत्र, (10^2 Hz के लगभग), जिसका उपयोग रडार में किया जाता है; अवरक्त (infrared) क्षेत्र, (10^{13}Hz के लगभग), जिसका उपयोग गरम करने में होता है तथा पराबैंगनी (ultraviolet) क्षेत्र, 10^{16} Hz के लगभग, जो सूर्य की विकिरण का एक भाग होता है। लगभग 10^{15} Hz के थोड़े से क्षेत्र को साधारणतया दृश्य (visible) प्रकाश कहते हैं। केवल यही वह क्षेत्र है, जिसे हमारी आँखें देख (संसूचित कर) सकती हैं, अदृश्य क्षेत्रों को पहचानने के लिए विशेष प्रकार के यंत्रों की आवश्यकता होती है।

(iv) विद्युत्-चुंबकीय विकिरण को दर्शाने के लिए विभिन्न प्रकार के मात्रकों का उपयोग किया जाता है। इन विकिरणों को आवृत्ति (ν) तथा तरंग-दैर्घ्य (λ) द्वारा चारित्रित किया जाता है। आवृत्ति (ν) का SI मात्रक हेनरिक हर्ट्स के नाम पर हर्ट्स है (Hz,s^{-1})। इसको तरंगों की उस संख्या के रूप में परिभाषित किया जाता है, जो किसी बिंदु से प्रति सेकंड गुजरती है।

तरंग-दैर्घ्य के मात्रक लंबाई के मात्रक होने चाहिए। सामान्यत: इसकी माप मीटर (m) में होती है। चूँकि विद्युत्-चुंबकीय विकिरण में छोटी तरंग-दैर्घ्य की तरंगें होती हैं। इसके लिए छोटे मात्रकों की आवश्यकता होती है अत: चित्र 2.7 में विभिन्न तरंग-दैर्घ्यों अथवा आवृत्तियों वाली भिन्न-भिन्न प्रकार की विद्युत्-चुंबकीय विकिरणों को दिखाया गया है।

निर्वात में सभी प्रकार के विद्युत्-चुंबकीय विकिरण, चाहे उनकी तरंग-दैर्घ्य कुछ भी हो, एक समान गति, अर्थात् 3.0 10^8 m s^{-1} (2.997925 10^8 m s^{-1}) से चलते हैं।

© BSTBPC WEB COPY NOT TO BE PUBLISHED

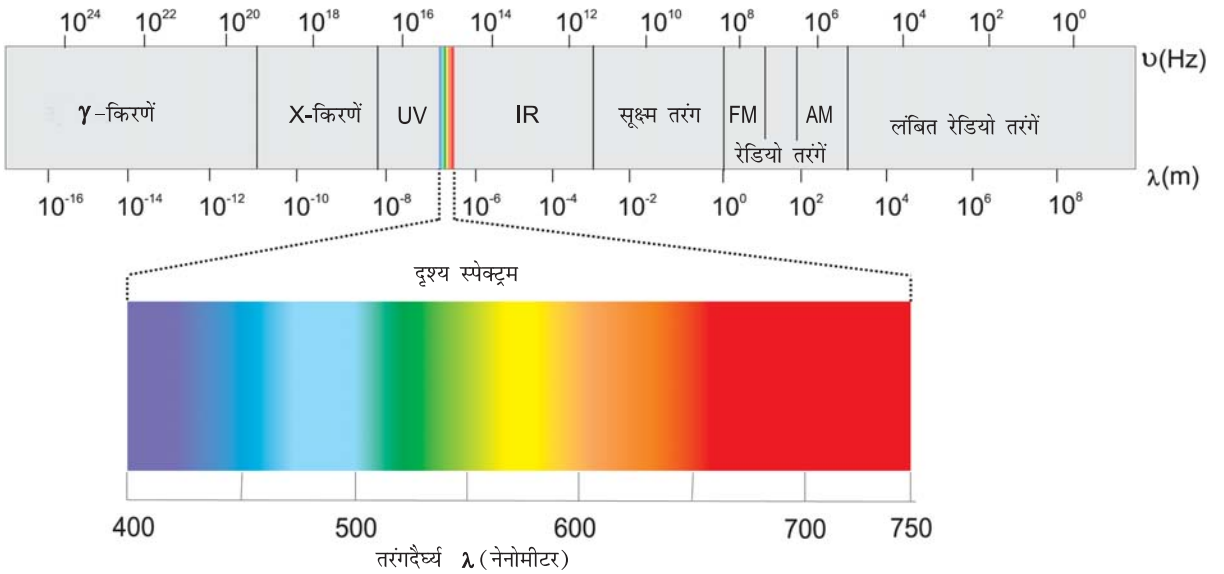

चित्र 2.7 (क) *विद्युत्-चुंबकीय विकिरण का स्पेक्ट्रम (ख) दृश्य स्पेक्ट्रम। पूरे स्पेक्ट्रम का एक छोटा सा भाग दृश्यक्षेत्र होता है*

इस गति को **प्रकाश की गति** (speed of light) कहते हैं और c चिह्न से दर्शाते हैं। आवृत्ति (ν) तरंग-दैर्घ्य (λ) तथा प्रकाश के वेग (c) को निम्नलिखित समीकरण (2.5) द्वारा संबंधित करते हैं-

$$c = \nu\lambda \qquad (2.5)$$

तरंगों को बताने के लिए एक दूसरी राशि, तरंग-संख्या ($\bar{\nu}$) का उपयोग किया जाता है। प्रति इकाई लंबाई में, तरंग-दैर्घ्य की संख्या को **तरंग-संख्या** (wave number) कहते हैं। इसका मात्रक तरंग-दैर्घ्य के मात्रक का व्युत्क्रम अर्थात् m^{-1} होता है, लेकिन सामान्यत: प्रयोग होने वाला मात्रक cm^{-1} (SI मात्रक नहीं) है।

उदाहरण 2.3

ऑल इंडिया रेडियो (दिल्ली) का विविध भारती स्टेशन 1,368 KHz (किलो हर्ट्ज) की आवृत्ति पर प्रसारण करता है। संचारक (transmitter) द्वारा उत्सर्जित विद्युत्-चुंबकीय विकिरण की तरंग-दैर्घ्य ज्ञात कीजिए। यह विद्युत्-चुंबकीय स्पेक्ट्रम के किस क्षेत्र से संबंधित है?

हल

तरंग-दैर्घ्य, $\lambda = \frac{c}{\upsilon}$

जहाँ c निर्वात् में विद्युत्-चुंबकीय विकिरण का वेग और υ आवृत्ति है। दिए गए मानों को प्रतिस्थापित करने पर

$$\lambda = \frac{c}{\nu}$$

$$= \frac{3.00 \times 10^{8}\,m\,s^{-1}}{1368\ kHz}$$

$$= \frac{3.00 \times 10^{8}\,m\,s^{-1}}{1368 \times 10^{3}\,s^{-1}}$$

$$= 219.3\,m$$

यह रेडियो तरंग की अभिलाक्षणिक तरंग-दैर्घ्य है।

उदाहरण 2.4

दृश्य स्पेक्ट्रम के तरंग-दैर्घ्य का परास बैगनी (400 nm) से लाल (750 nm) तक है। इन तरंग-दैर्घ्यों को आवृत्तियों (Hz) में प्रकट कीजिए (1nm = 10^{-9} m)।

हल

समीकरण 2.5 के अनुसार, बैगनी प्रकाश की आवृत्ति

$$\nu = \frac{c}{\lambda} = \frac{3.00 \times 10^{8}\,m\,s^{-1}}{400 \times 10^{-9}\,m}$$

$$= 7.50 \quad 10^{14}\ Hz$$

लाल प्रकाश की आवृत्ति

$$\nu = \frac{c}{\lambda} = \frac{3.00 \times 10^{8}\,ms^{-1}}{750 \times 10^{-9}\,m} = 4.00 \quad 10^{14}\ Hz$$

दृश्य स्पेक्ट्रम का परास आवृत्ति के रूप में 4.0 10^{14} से 7.0 10^{14} Hz तक है।

उदाहरण 2.5

5800 A° तरंग-दैर्घ्य वाले पीले विकिरण की (क) तरंग-संख्या और (ख) आवृत्ति की गणना कीजिए।

हल

(क) तरंग-संख्या ($\bar{\nu}$) की गणना

$$\lambda = 5800 \text{Å} = 5800 \times 10^{-8} \text{ cm}$$
$$= 5800 \times 10^{-10} \text{ m}$$

$$\bar{\nu} = \frac{1}{\lambda} = \frac{1}{5800 \times 10^{-10} \text{ m}}$$
$$= 1.724 \times 10^{6} \text{ m}^{-1}$$
$$= 1.724 \times 10^{4} \text{ cm}^{-1}$$

(ख) आवृत्ति ( ) की गणना

$$\nu = \frac{c}{\lambda} = \frac{3 \times 10^{8} \text{ m s}^{-1}}{5800 \times 10^{-10} \text{ m}} = 5.172 \times 10^{14} \text{ s}^{-1}$$

2.3.2 विद्युत्-चुंबकीय विकिरण की कणीय प्रकृति : प्लांक का क्वांटम सिद्धांत

विवर्तन* (diffraction) तथा व्यतिकरण ** (interference) जैसी कुछ प्रायोगिक परिघटनाओं को विद्युत्-चुंबकीय विकिरण की तरंग प्रकृति द्वारा समझाया जा सकता है, लेकिन कुछ प्रेक्षणों को 19वीं शताब्दी के भौतिक विज्ञान (जो 'पारंपरिक भौतिकी' कहलाती है) के विद्युत्-चुंबकीय सिद्धांत की सहायता से भी वर्णित नहीं किया जा सकता है।

ये प्रेक्षण निम्नलिखित हैं–

(i) गरम पिंड से विकिरण का उत्सर्जन (कृष्णिका विकिरण black body radiation);

(ii) धातु की सतह से विकिरण के टकराने पर इलेक्ट्रॉनों का निष्कासन (प्रकाश-विद्युत् प्रभाव);

(iii) ठोसों में तापमान के फलन के रूप में ऊष्माधारिता का परिवर्तन;

(iv) विशेषकर हाइड्रोजन के संदर्भ में परमाणुओं में देखे गए रेखा स्पेक्ट्रम।

यह ध्यान देने वाली बात है कि सन् 1900 में मैक्स प्लांक द्वारा सबसे पहले कृष्णिका विकरण की कोई ठोस व्याख्या की गई। यह निम्नलिखित है–

जब किसी ठोस पदार्थ को गरम किया जाता है, तब उससे विस्तृत परास वाले तरंग-दैर्घ्यों के विकिरण उत्सर्जित होते हैं। उदाहरण के लिए जब किसी लोहे की छड़ को भट्ठी में गरम करते हैं, तब इसका रंग पहले हल्का लाल होता है। जैसे-जैसे ताप बढ़ता जाता है, वैसे-वैसे वह अधिक लाल होता जाता है। जब इसे और गरम किया जाता है, तब इससे निकलने वाली विकिरण का रंग सफेद हो जाता है और जब ताप बहुत अधिक होता है, तब यह नीला हो जाता है। इसका अर्थ है कि ताप में वृद्धि के साथ-साथ उत्सर्जित विकिरण की आवृत्ति निम्न से उच्च होती जाती है। विद्युत्- चुंबकीय स्पेक्ट्रम में लाल रंग कम आवृत्ति वाले और नीला रंग अधिक आवृत्ति वाले क्षेत्र में होता है। एक ऐसा आदर्श पिंड जो हर प्रकार की आवृत्ति के विकिरणों को उत्सर्जित तथा अवशोषित करता है, कृष्णिका (black body) तथा इस पिंड से उत्सर्जित विकिरण को **कृष्णिका विकिरण** कहते हैं। कृष्णिका से उत्सर्जित विकिरण का यथार्थ (exact) आवृत्ति वितरण (आवृत्ति और तीव्रता के बीच विकिरण का आरेख) उसके ताप पर निर्भर करता है। दिए गए तापमान पर, उत्सर्जित विकिरण की तीव्रता तरंग-दैर्घ्य के कम होने के साथ बढ़ती है। यह एक तरंग-दैर्घ्य पर अधिकतम होती है, उसके बाद तरंग-दैर्घ्य के और कम होने पर वह घटती शुरू होती है, जैसा चित्र 2.8 में दिखाया गया है।

प्रकाश के तरंग सिद्धांत के आधार पर उपरोक्त परिणामों की संतोषजनक व्याख्या नहीं की जा सकती। मैक्स प्लांक ने इसके लिए सुझाया कि परमाणु और अणु केवल विविक्त (discrete) मात्राओं में ऊर्जा उत्सर्जित (या अवशोषित) करते हैं, न कि अनवरत रूप में, जैसा पहले माना जाता था। विद्युत्-चुंबकीय विकिरण के रूप में ऊर्जा की जिस न्यूनतम मात्रा का उत्सर्जन (या अवशोषण) होता है, उसे प्लांक द्वारा **क्वांटम** (quantum) नाम दिया गया। विकिरण के एक क्वांटम की ऊर्जा (E) उसकी आवृत्ति (ν) के समानुपाती होती है। इसे समीकरण (2.6) द्वारा व्यक्त किया जाता है–

$$E = h\nu \qquad (2.6)$$

* किसी बाधा के आसपास तरंग के मुड़ने को **विवर्तन** कहते हैं।

** एक समान आवृत्ति वाली दो तरंगें मिलकर एक ऐसी तरंग देती हैं, जिसका त्रिविम में प्रत्येक बिंदु पर विक्षोभ, प्रत्येक तरंग के उस बिंदु पर विक्षोभ का बीजगणितीय या सदिश योग होता है। तरंगों का इस प्रकार का संयोजन **व्यतिकरण** कहलाता है।

© NCERT NOT TO BE REPUBLISHED

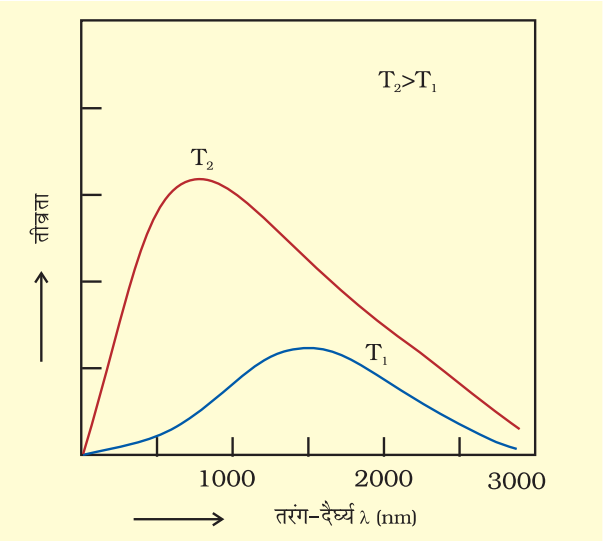

चित्र 2.8 तरंग-दैर्घ्य तीव्रता संबंध



मैक्स प्लांक
(1858-1947)

मैक्स प्लांक एक जर्मन भौतिकी वैज्ञानिक थे। उन्होंने सन् 1879 में म्युनिख विश्वविद्यालय से सैद्धांतिक भौतिकी में पी.एच.डी. की उपाधि ग्रहण की। वे सन् 1888 में बर्लिन विश्वविद्यालय के इंस्टिच्यूट ऑफ थियोरेटिकल फिजिक्स (Institute of theoretical Physics) में निदेशक नियुक्त किए गए। उनके द्वारा दिए गए क्वांटम सिद्धांत के लिए उन्हें सन् 1918 में भौतिकी में नोबेल पुरस्कार से सम्मानित किया गया। उन्होंने ऊष्मा-गतिकी और भौतिकी के अन्य क्षेत्रों में भी महत्त्वपूर्ण योगदान दिया।

आनुपातिकता स्थिरांक, h, को **प्लांक स्थिरांक** कहा जाता है और उसका मान 6.62610^{-34} Js होता है।

इस सिद्धांत के अनुसार, प्लांक कृष्णिका से विभिन्न तापों पर उत्सर्जित विकिरण के तीव्रता-वितरण की आवृत्ति अथवा तरंग-दैर्घ्य के फलन के रूप में व्याख्या कर सके।

प्रकाश-विद्युत् प्रभाव

सन् 1887 में एच. हर्ट्स ने एक बहुत ही दिलचस्प प्रयोग किया, जिसमें कुछ धातुओं (जैसे– पोटैशियम, रूबीडियम, सीजियम, इत्यादि) की सतह पर उपयुक्त आवृत्ति वाला प्रकाश डालने पर जैसा चित्र 2.9 में दिखाया गया है, इलेक्ट्रॉन निकलते हैं। इस परिघटना को **प्रकाश विद्युत् प्रभाव** कहते हैं। इस प्रयोग से प्राप्त परिणाम इस प्रकार हैं–

(i) धातु की सतह से प्रकाशपुंज के टकराते ही उस सतह से इलेक्ट्रॉन निकलते हैं, अर्थात् धातु की सतह से इलेक्ट्रॉन निष्कासन तथा सतह पर प्रकाशपुंज के टकराने के बीच कोई समय-अंतराल (time lag) नहीं होता।

(ii) निष्कासित इलेक्ट्रॉनों की संख्या प्रकाश की तीव्रता के समानुपाती होती है।

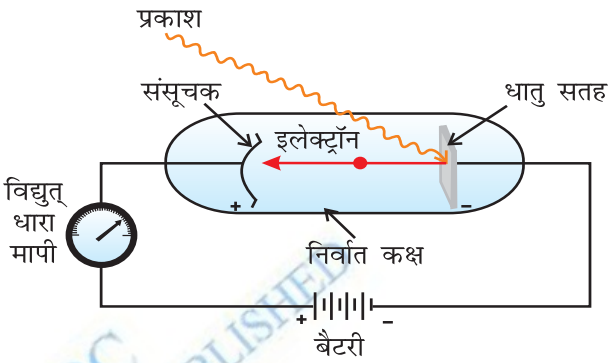

चित्र 2.9 प्रकाश विद्युत्-प्रभाव के अध्ययन के लिए उपकरण। एक निर्वात् कक्ष में एक धातु की साफ सतह पर एक निश्चित आवृत्ति वाली प्रकाश की किरण टकराती है। धातु से इलेक्ट्रॉन निष्कासित होते हैं। ये एक संसूचक द्वारा गिने जाते हैं, जो उनकी गतिज ऊर्जा का मापन करता है

(iii) प्रत्येक धातु के लिए एक अभिलाक्षणिक न्यूनतम आवृत्ति होती है, जिसे देहली आवृत्ति (threshold frequency) कहते हैं और जिससे कम आवृत्ति पर प्रकाश-विद्युत् प्रभाव प्रदर्शित नहीं होता है। $\nu > \nu_0$ आवृत्ति पर निष्कासित इलेक्ट्रॉनों की कुछ गतिज ऊर्जा होती है। गतिज ऊर्जा प्रयुक्त प्रकाश की आवृत्ति के बढ़ने के साथ बढ़ती है।

उपरोक्त सारे परिणामों की व्याख्या पारंपरिक भौतिकी के नियमों के आधार पर नहीं की जा सकी। उन नियमों के अनुसार, प्रकाश की किरण की ऊर्जा की मात्रा प्रकाश की तीव्रता पर निर्भर करती है। दूसरे शब्दों में, निष्कासित इलेक्ट्रॉनों की संख्या और उनसे संबंधित गतिज ऊर्जा की व्याख्या प्रकाश की तीव्रता से की जा सकती है। यद्यपि ऐसा देखा गया है कि निष्कासित इलेक्ट्रॉनों की संख्या प्रकाश की तीव्रता पर निर्भर करती है, लेकिन इन इलेक्ट्रॉनों की गतिज ऊर्जा तीव्रता पर निर्भर नहीं करती है। उदाहरण के लिए, पोटैशियम के टुकड़े पर यदि किसी भी तीव्रता का लाल रंग का प्रकाश [ν = (4.3 से 4.6) 10^{14} Hz] कई घंटों तक डाला जाए, तो भी कोई प्रकाशिक इलेक्ट्रॉनों का निष्कासन नहीं होता है, परंतु जैसे ही पीले रंग का कम तीव्रता का प्रकाश ν = 5.1 से 5.2 10^{14} Hz पोटैशियम पर डाला जाता है, तो प्रकाश-विद्युत् प्रभाव दिखाई देता है। पोटैशियम धातु के लिए देहली आवृत्ति (ν_0) 5.010^{14} Hz है।

विद्युत्-चुंबकीय विकिरण के प्लांक के क्वांटम सिद्धांत का उपयोग करते हुए आइंस्टीन (1905) प्रकाश-विद्युत् प्रभाव को समझने में सफल हुए।



अल्बर्ट आइंस्टीन
(1879-1955)

जर्मनी में पैदा हुए अमेरिकी भौतिकी वैज्ञानिक अल्बर्ट आइंस्टीन विश्व के दो महान भौतिकी वैज्ञानिकों में से एक माने जाते हैं। (दूसरे वैज्ञानिक ईज़ाक न्यूटन थे)। सन् 1905 में, जब वे बर्ने में एक स्विस पेटेंट आफिस में तकनीकी सहायक थे, तब विशेष आपेक्षकीयता, ब्राउनी गति और प्रकाश-विद्युत् प्रभाव पर छपे उनके तीन शोध-पत्रों ने भौतिकी के विकास को बहुत प्रभावित किया। उन्हें सन् 1921 में प्रकाश-विद्युत् प्रभाव की व्याख्या के लिए भौतिकी में नोबेल पुरस्कार से सम्मानित किया गया।

धातु की सतह पर प्रकाश पुंज के टकराने को कणों (फोटॉनों) के पुंज का टकराना समझा जा सकता है। जब कोई पर्याप्त ऊर्जा वाला फोटॉन धातु के परमाणु के इलेक्ट्रॉन से टकराता है, तो वह इलेक्ट्रॉन को परमाणु से तुरंत बाहर निकाल देता है। फोटॉन की ऊर्जा जितनी अधिक होगी, उतनी ही ऊर्जा वह इलेक्ट्रॉन को देगा और निष्कासित इलेक्ट्रॉन की गतिज ऊर्जा उतनी ही अधिक होगी। दूसरे शब्दों में, निष्कासित इलेक्ट्रॉन की गतिज ऊर्जा विद्युत्-चुंबकीय विकिरण की आवृत्ति के समानुपाती होगी। चूँकि टकराने वाले फोटॉन की ऊर्जा $h\nu$ है और इलेक्ट्रॉन को निष्कासित करने के लिए आवश्यक न्यूनतम ऊर्जा $h\nu_0$ (जिसे **कार्यफलन**, W_0 भी कहते हैं) ऊर्जा में अंतर $(h\nu - h\nu_0)$ फोटोइलेक्ट्रॉन की गतिज ऊर्जा में स्थानांतरित हो जाती है। ऊर्जा के संरक्षण (conservation of energy) के नियम का अनुसरण करते हुए निष्कासित इलेक्ट्रॉन की गतिज ऊर्जा समीकरण 2.7 द्वारा दी जाती है।

$$h\nu \quad h\nu \quad \frac{1}{2}m_e v^2 \qquad (2.7)$$

जहाँ m_e इलेक्ट्रॉन का द्रव्यमान है और v इसका वेग है। अंत में, अधिक तीव्रता वाले प्रकाश में फोटॉनों की संख्या अधिक होगी और परिणामस्वरूप निष्कासित इलेक्ट्रॉनों की संख्या भी उस प्रयोग की तुलना में अधिक होगी, जिसमें कम तीव्रता के प्रकाश का उपयोग किया गया है।

विद्युत्-चुंबकीय विकिरण का द्वैत व्यवहार

प्रकाश की कण समान प्रकृति ने वैज्ञानिकों के सामने असमंजस की स्थिति पैदा कर दी। एक तरफ तो इसने कृष्णिका विकिरण और प्रकाश-विद्युत् प्रभाव की संतोषजनक व्याख्या की, परंतु दूसरी तरफ यह प्रकाश की तरंग जैसे व्यवहार, जिससे विवर्तन, व्यतिकरण आदि परिघटनाओं की व्याख्या की जा सकती थी, के साथ युक्तिसंगत नहीं था। इस दुविधा को हल करने का एक ही उपाय था कि यह मान लिया जाए कि प्रकाश के कण और तरंग दोनों जैसे गुण होते हैं– अर्थात् प्रकाश का द्वैत व्यवहार होता है। प्रयोगों के आधार पर हम पाते हैं कि प्रकाश तरंग या कण के समान व्यवहार करता है। जब द्रव्य के साथ विकिरण की अन्योन्य क्रिया होती है, तब यह कण जैसे गुण प्रदर्शित करता है। जब विकिरण का संचरण होता है, तब यह तरंग जैसे गुण (व्यतिकरण और विवर्तन) दर्शाता है। द्रव्य और विकिरण की प्रचलित धाराओं को देखते हुए यह संकल्पना एकदम नई थी। लोगों को इसे स्वीकार करने में काफी समय लगा। जैसा आप आगे देखेंगे, कुछ सूक्ष्म कण (जैसे–इलेक्ट्रॉन) भी तरंगकण वाला द्वैत व्यवहार प्रदर्शित करते हैं

उदाहरण 2.6

5×10^{14} Hz आवृत्ति वाले विकिरण के एक मोल फोटॉन की ऊर्जा की गणना कीजिए।

हल

एक फोटॉन की ऊर्जा (E) निम्नलिखित समीकरण द्वारा दी जाती है–

$E = h$

$h = 6.626\ 10^{-34}$ J s

$= 510^{14}\ s^{-1}$ (दिया गया)

$E = (6.626\ 10^{-34}\ J\ s)\ \ (5\ 10^{14}\ s^{-1})$

$= 3.313\ 10^{-19}$ J

एक मोल फोटॉनों की ऊर्जा

सारणी 2.2 कुछ धातुओं के लिए कार्यफलन के मान

धातु	Li	Na	K	Mg	Cu	Ag
W_0 /eV	2.42	2.3	2.25	3.7	4.8	4.3

© BSTBPC NOT TO BE PUBLISHED

$= (3.313\ 10^{-19}\ J)\ \ (6.022\ \ 10^{23}\ mol^{-1})$
$= 199.51\ kJ\ mol^{-1}$

उदाहरण 2.7

100 वॉट का एक बल्ब 400 nm वाली तरंग-दैर्घ्य का एकवर्णी प्रकाश उत्सर्जित करता है। बल्ब द्वारा प्रति सेकंड उत्सर्जित फोटॉनों की संख्या की गणना कीजिए।

हल

बल्ब की विद्युत्-शक्ति = 100 वॉट = $100\ Js^{-1}$
एक फोटॉन की ऊर्जा = $E = h\nu = hc/\lambda$

$$= \frac{6.626\times10^{-34}\ J\ s\times3\times10^{8}\ m\ s^{-1}}{400\times10^{-9}m}$$

$$= 4.969\times10^{-19}J$$

उत्सर्जित फोटॉनों की संख्या

$$\frac{100\ J\ s^{-1}}{4.969\times10^{-19}J} = 2.012\times10^{20}s^{-1}$$

उदाहरण 2.8

जब 300 nm तरंग-दैर्घ्य का विकिरण सोडियम धातु की सतह पर टकराता है, तो $1.68\times10^{5}J\ mol^{-1}$ गतिज ऊर्जा वाले इलेक्ट्रॉन उत्सर्जित होते हैं। सोडियम के इलेक्ट्रॉन के निष्कासन के लिए कम से कम कितनी ऊर्जा आवश्यक होगी? किसी प्रकाशिक इलेक्ट्रॉन के उत्सर्जन के लिए अधिकतम तरंग-दैर्घ्य क्या होगी?

हल

300 nm फोटॉन की ऊर्जा (E) इस प्रकार दी जाती है–

$$h\nu = hc/\lambda$$

$$= \frac{6.626\times10^{-34}\ J\ s\times3.0\times10^{8}m\ s^{-1}}{300\times10^{-9}m}$$

$$= 6.626\times10^{-19}J$$

एक मोल फोटॉनों की ऊर्जा

$$= 6.626\times10^{-19}\ J\times6.022\times10^{23}\ mol^{-1}$$

$$= 3.99\times10^{5}\ J\ mol^{-1}$$

सोडियम से एक मोल इलेक्ट्रॉनों के निष्कासन के लिए आवश्यक न्यूनतम ऊर्जा

$= (3.99 - 1.68)\ 10^{5}\ J\ mol^{-1}$
$= 2.31\times10^{5}\ J\ mol^{-1}$

एक इलेक्ट्रॉन के लिए आवश्यक न्यूनतम ऊर्जा

$$= \frac{2.31\times10^{5}J\ mol^{-1}}{6.022\times10^{23}\ electrons\ mol^{-1}}$$

$$= 3.84\times10^{-19}J$$

इसकी संगत तरंग-दैर्घ्य इस प्रकार होगी–

$$\therefore \lambda = \frac{hc}{E}$$

$$= \frac{6.626\times10^{-34}J\ s\times3.0\times10^{8}m\ s^{-1}}{3.84\times10^{-19}J}$$

= 517nm (यह हरे रंग के प्रकाश से संबंधित है।)

उदाहरण 2.9

किसी धातु की देहली आवृत्ति $\nu_0, 7.0\times10^{14}\ s^{-1}$ है। यदि $\nu = 1.0\times10^{15}\ s^{-1}$ आवृत्ति वाला विकिरण धातु की सतह से टकराता है, तो उत्सर्जित इलेक्ट्रॉन की गतिज ऊर्जा की गणना कीजिए।

हल

आइन्स्टीन के समीकरण के अनुसार गतिज ऊर्जा

$= \square\ m_e v^2 = h(\nu - \nu_0)$
$= (6.626\times10^{-34}\ J\ s)$
$(1.0\times10^{15}\ s^{-1} - 7.0\times10^{14}\ s^{-1})$
$= (6.626\times10^{-34}\ J\ s)$
$(10.0\times10^{14}\ s^{-1} - 7.0\times10^{14}\ s^{-1})$
$= (6.626\times10^{-34}\ J\ s)\ \ (3.0\times10^{14}\ s^{-1})$
$= 1.988\times10^{-19}\ J$

2.3.3 क्वांटित* इलेक्ट्रॉनिक ऊर्जा स्तरों के लिए प्रमाण : परमाण्विक स्पेक्ट्रा

प्रकाश की गति उस माध्यम की प्रकृति पर निर्भर करती है जिससे यह गुजरती है। एक माध्यम से दूसरे तक जाने पर प्रकाश की किरण अपने मूल पथ से मुड़ जाती है अथवा अपवर्तित (refract) हो जाती है।

प्रिज़्म में से सफेद प्रकाश की किरण को गुजारने से यह देखा गया कि कम तरंग-दैर्घ्य की तरंग लंबी तरंग-दैर्घ्य की तरंग की तुलना में अधिक झुक जाती है, क्योंकि साधारण सफेद प्रकाश में दृश्य परास में सभी तरंग-दैर्घ्यों वाली तरंगें होती हैं। सफेद प्रकाश की किरण रंगीन पट्टियों की एक शृंखला

* किसी गुणधर्म के लिए विविक्त (discreat) मानों के प्रतिबंध को **क्वांटीकरण** कहते हैं।

में फैल जाती है, जिसे **स्पेक्ट्रम** (spectrum) कहते हैं। लाल रंग, जिसकी तरंग-दैर्ध्य सबसे अधिक होती है, का विचलन सबसे कम और सबसे कम तरंग-दैर्ध्य वाले बैगनी रंग का विचलन सबसे अधिक होता है। सफेद रंग का प्रकाश, जो हमें दिखाई देता है, के स्पेक्ट्रम का परास 7.50×10^{14}Hz के बैगनी रंग से लेकर 4×10^{14}Hz के लाल रंग तक होता है। इस स्पेक्ट्रम को सतत स्पेक्ट्रम (continuous spectrum) कहते हैं– सतत इसलिए, क्योंकि बैगनी रंग नीले रंग में और नीला रंग हरे रंग में मिलता है। अन्य रंगों के साथ भी ऐसा ही होता है। जब आकाश में इंद्रधनुष बनता है, तब भी ऐसा ही स्पेक्ट्रम दिखाई देता है। याद रखिए कि दृश्य प्रकाश विद्युत्-चुंबकीय विकिरण का एक बहुत छोटा भाग होता है (चित्र 2.7)। जब विद्युत्-चुंबकीय विकिरण द्रव्य के साथ अन्योन्य क्रिया करता है, तो परमाणु और अणु इस ऊर्जा का अवशोषण कर सकते हैं एवं उच्च ऊर्जा स्तर पर पहुँच जाते हैं। उच्च ऊर्जा स्तर पर ये अस्थायी अवस्था में होते हैं। ये जब कम ऊर्जा वाली अधिक स्थायी तलस्थ अवस्था में लौटते हैं, तो वे विद्युत्-चुंबकीय स्पेक्ट्रम के विभिन्न क्षेत्रों में विकिरण उत्सर्जित करते हैं।

उत्सर्जन तथा अवशोषण स्पेक्ट्रा

किसी पदार्थ से ऊर्जा अवशोषण के बाद उत्सर्जित विकिरण का स्पेक्ट्रम 'उत्सर्जन स्पेक्ट्रा' कहलाता है। परमाणु अणु या आयन विकिरण के अवशोषण पर उत्तेजित हो जाते हैं। उत्सर्जन स्पेक्ट्रम प्राप्त करने के लिए किसी प्रतिदर्श को गरम करके अथवा विकिरणित करके ऊर्जा दी जाती है और जब प्रतिदर्श अवशोषित ऊर्जा को निष्कासित करता है, तो उत्सर्जित विकिरण की तरंग-दैर्ध्य (या आवृत्ति) को रिकॉर्ड कर लिया जाता है।

अवशोषण स्पेक्ट्रम उत्सर्जन स्पेक्ट्रम के फोटोग्राफीय निगेटिव की तरह होता है। जब एक सतत विकिरण को प्रतिदर्श पर डाला जाता है, तो वह विकिरण की कुछ तरंग-दैर्ध्य का अवशोषण कर लेता है। द्रव्य द्वारा अवशोषित विकिरण की संगत लुप्त तरंग-दैर्ध्य चमकीले सतत स्पेक्ट्रम में गहरे रंग की रेखाओं के रूप में प्रदर्शित होती है।

उत्सर्जन या अवशोषण स्पेक्ट्रम के अध्ययन को स्पेक्ट्रोमिती (spectroscopy) कहते हैं। जैसा ऊपर बताया गया है, दृश्य प्रकाश का स्पेक्ट्रम सतत होता है, क्योंकि उसमें दृश्य प्रकाश

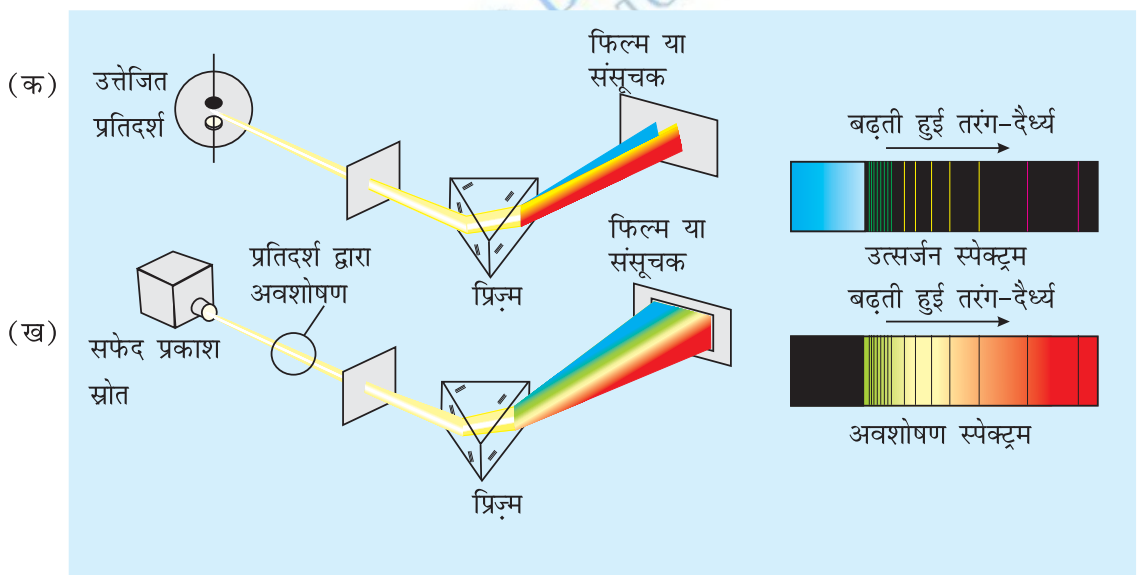

चित्र 2.10 (क) परमाण्वीय उत्सर्जन : *हाइड्रोजन परमाणुओं (या किसी और तत्त्व) के उत्तेजित प्रतिदर्श द्वारा उत्सर्जित प्रकाश को एक प्रिज़्म से गुज़ारकर विविक्त तरंग-दैर्ध्यों की रेखाओं में पृथक किया जाता है। अत: उत्सर्जन स्पेक्ट्रम, जो पृथक तरंग-दैर्ध्यों का फोटोग्राफीय संसूचन होता है, को 'रेखा स्पेक्ट्रम' कहा जाता है। किसी निश्चित आकार के प्रतिदर्श में बहुत अधिक संख्या में परमाणु होते हैं। हालाँकि कोई एक परमाणु किसी एक समय पर एक ही उत्तेजित अवस्था में हो सकता है, किंतु परमाणुओं के समूह में सभी संभव उत्तेजित अवस्थाएं होती हैं, जब ये परमाणु निम्न ऊर्जा-स्तर पर जाते हैं, तो उत्सर्जित प्रकाश से स्पेक्ट्रम प्राप्त होता है।* ***(ख) परमाण्वीय अवशोषण:*** *जब सफेद प्रकाश को अनुत्तेजित हाइड्रोजन परमाणु से किसी रेखाछिद्र (slit) और फिर प्रिज़्म से गुजारा जाता है, तो प्राप्त प्रकाश में कुछ तरंग-दैर्ध्यों (जो चित्र 2.10 क में उत्सर्जित हुई थीं) की तीव्रता का अभाव हो जाता है। यह संसूचित स्पेक्ट्रम भी एक रेखा स्पेक्ट्रम होता है और उत्सर्जन स्पेक्ट्रम का फोटोग्राफीय निगेटिव होता है*

की लाल से बैगनी तक सभी तरंग-दैर्घ्य उपस्थित होती हैं। इसके विपरीत गैस अवस्था में परमाणुओं का उत्सर्जन स्पेक्ट्रम लाल से बैगनी तरंग-दैर्घ्यों में सतत् रूप से प्रदर्शित नहीं करता है, परंतु उनसे केवल विशेष तरंग-दैर्घ्यों वाला प्रकाश उत्सर्जित होता है, जिनके बीच में काले स्थान रहते हैं। ऐसे स्पेक्ट्रम को **रेखा स्पेक्ट्रम** अथवा **परमाण्वीय स्पेक्ट्रम** कहते हैं, क्योंकि उत्सर्जित विकिरण स्पेक्ट्रम में चमकीली रेखाओं के रूप में प्रदर्शित होता है (चित्र 2.10)।

इलेक्ट्रॉनिक संरचना के अध्ययन में रेखा-उत्सर्जन स्पेक्ट्रम का विशेष महत्त्व होता है। प्रत्येक तत्त्व का अपना एक विशेष रेखा-उत्सर्जन स्पेक्ट्रम होता है। रासायनिक विश्लेषणों में परमाणु स्पेक्ट्रम की अभिलाक्षणिक रेखाएँ अज्ञात परमाणुओं को पहचानने के लिए उसी प्रकार उपयोग में लाई जाती हैं, जिस प्रकार अंगुलियों के निशान मनुष्यों को पहचानने के लिए उपयोग में लाए जाते हैं। ज्ञात तत्त्व के परमाणुओं के उत्सर्जन स्पेक्ट्रम की रेखाओं का यथार्थ मिलान अज्ञात प्रतिदर्श की रेखाओं से तत्त्वों को पहचानने के लिए रॉबर्ट बुन्सेन (1811-1899) ने सर्वप्रथम किया।

रूबीडियम (Rb), सीज़ियम (Cs), थैलियम (Tl), इंडियम (In), गैलियम (Ga), और स्कैंडियम (Sc) आदि तत्त्वों की खोज तब हुई थी, जब उनके खनिजों का स्पेक्ट्रमी विश्लेषण किया गया था। सूर्य में हीलियम (He) तत्त्व की उपस्थिति भी स्पेक्ट्रमी विधि द्वारा ज्ञात की गई थी।

हाइड्रोजन का रेखीय स्पेक्ट्रम

जब हाइड्रोजन गैस में विद्युत् विसर्जन प्रवाहित किया जाता है, तब H_2 अणु वियोजित होकर उच्च ऊर्जा वाले हाइड्रोजन परमाणु देते हैं, जो विविक्त आवृत्तियों वाला विद्युत्-चुंबकीय विकिरण उत्सर्जित करते हैं। हाइड्रोजन स्पेक्ट्रम में रेखाओं की कई श्रेणियाँ होती हैं, जिन्हें उनके आविष्कारकों के नाम से जाना जाता है। बामर ने सन् 1885 में प्रायोगिक प्रेक्षणों के आधार पर बताया कि यदि स्पेक्ट्रमी रेखाओं को तरंग-संख्या ($\bar{\nu}$) के रूप में में व्यक्त किया जाए, तो हाइड्रोजन स्पेक्ट्रम की दृश्य-क्षेत्र की रेखाओं को निम्नलिखित सूत्र द्वारा दर्शाया जा सकता है–

$$\bar{\nu} = 109,677 \left(\frac{1}{2^2} - \frac{1}{n^2}\right) \text{cm}^{-1} \qquad (2.8)$$

जहाँ n एक पूर्णांक है, जिसका मान 3 या 3 से अधिक होता है, अर्थात् $n = 3, 4, 5 \ldots$ होता है।

इस सूत्र द्वारा वर्णित रेखाओं को 'बामर श्रेणी' (Balmer series) कहा जाता है। हाइड्रोजन स्पेक्ट्रम में केवल इसी श्रेणी की रेखाएँ विद्युत्-चुंबकीय स्पेक्ट्रम के दृश्य क्षेत्र में प्राप्त होती है। स्वीडन के एक स्पेक्ट्रमी वैज्ञानिक जोहान्स रिड्बर्ग ने बताया कि हाइड्रोजन स्पेक्ट्रम की सभी श्रेणियों की रेखाए निम्नलिखित सूत्र द्वारा दर्शाई जा सकती है–

$$\bar{\nu} = 109,677 \left(\frac{1}{n_1^2} - \frac{1}{n_2^2}\right) \text{cm}^{-1} \qquad (2.9)$$

जहाँ n_1=1,2.....है और $n_2 = n_1 + 1, n_1 + 2$.....

109,677 cm^{-1} के नाम को हाइड्रोजन का रिड्बर्ग स्थिरांक (Rydberg constant) कहते हैं $n_1 = 1, 2, 3, 4$ और 5 वाली रेखाओं की पाँच श्रेणियाँ क्रमशः लाइमैन (Lyman), बामर (Balmer), पाशन (Pashen), ब्रेकेट (Bracket) तथा फंड (Fund) श्रेणियाँ कहलाती हैं।

सारणी 2.3 में हाइड्रोजन स्पेक्ट्रम की ये श्रेणियाँ दिखाई गई हैं। चित्र 2.11 में हाइड्रोजन परमाणु की लाइमैन, बामर और पाशन श्रेणियों के संक्रमणों को दिखाया गया है।

सारणी 2.3 परमाणु हाइड्रोजन की स्पेक्ट्रमी रेखाएँ

श्रेणी	n_1	n_2	स्पेक्ट्रमी क्षेत्र
लाइमैन	1	2,3....	पराबैगनी
बामर	2	3,4....	दृश्य
पाशन	3	4,5....	अवरक्त
ब्रेकेट	4	5,6....	अवरक्त
फंड	5	6,7....	अवरक्त

हाइड्रोजन का रेखा स्पेक्ट्रम सभी तत्त्वों के रेखा स्पेक्ट्रम की तुलना में सबसे सरल होता है। भारी परमाणुओं का रेखा स्पेक्ट्रम अधिक जटिल होता है, परंतु सभी रेखा स्पेक्ट्रमों के कुछ लक्षण समान होते हैं। जैसे– (i) प्रत्येक तत्त्व का रेखा स्पेक्ट्रम विशेष प्रकार का होता है। (ii) प्रत्येक तत्त्व के रेखा स्पेक्ट्रम में नियमितता होती है।

अब यह प्रश्न उठता है कि एक जैसे इन लक्षणों का क्या कारण हो सकता है? क्या इनका संबंध इन तत्त्वों के परमाणुओं की इलेक्ट्रॉनिक संरचना से होता है? इस प्रकार के प्रश्नों के उत्तर जानना ज़रूरी है। हम आगे देखेंगे कि इन प्रश्नों के उत्तरों से हमें इन तत्त्वों के परमाणुओं की इलेक्ट्रॉनिक संरचना को समझने में सुविधा हुई।

© BSTBPC WEB COPY NOT TO BE PUBLISHED

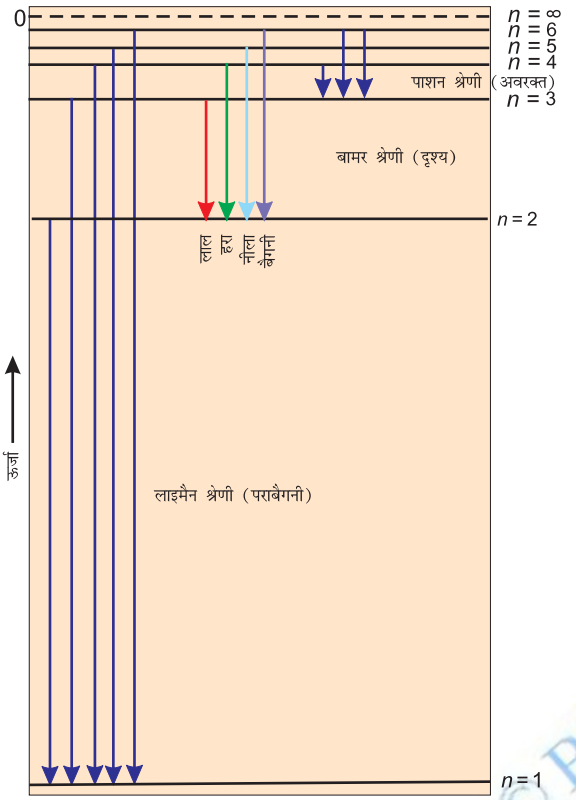

चित्र 2.11 हाइड्रोजन परमाणु में इलेक्ट्रॉन के संक्रमण। (यहाँ संक्रमण की लाइमैन, बामर और पाशन श्रेणियाँ दिखाई गई हैं।

2.4 हाइड्रोजन परमाणु के लिए बोर मॉडल

हाइड्रोजन परमाणु की संरचना तथा इसके स्पेक्ट्रम के सामान्य लक्षणों की पहली मात्रात्मक व्याख्या नील्स बोर ने सन् 1913 में की। यद्यपि यह सिद्धांत आधुनिक क्वांटम यांत्रिकी नहीं था, तथापि परमाणु संरचना तथा स्पेक्ट्रा में कई बातों को तर्कसंगत रूप से समझाने में इसका उपयोग किया जा सकता है। बोर का मॉडल निम्नलिखित अभिगृहीतों पर आधारित है–



नील बोर
(1885-1962)

डेनिश भौतिकी वैज्ञानिक नील बोर ने सन् 1911 में कोपेनहेगेन विश्वविद्यालय से पीएच.डी. की उपाधि ग्रहण की। उसके बाद उन्होंने जे.जे टॉमसन और अर्नेस्ट रदरफोर्ड के साथ एक वर्ष बिताया। सन् 1913 में वे कोपेनहेगेन लौटे, जहाँ वे जीवनपर्यंत रहे। यहाँ 1920 में इंस्टिच्यूट ऑफ थियोरेटिकल फिज़िक्स के निदेशक बने। प्रथम विश्वयुद्ध के बाद बोर ने परमाणु ऊर्जा के शांतिपूर्ण उपयोगों के लिए उत्साहपूर्वक कार्य किया। उन्हें सन् 1957 में 'Atoms for Peace' सम्मान प्राप्त हुआ। सन् 1922 में बोर को भौतिकी में नोबेल पुरस्कार से सम्मानित किया गया।

(i) हाइड्रोजन परमाणु में इलेक्ट्रॉन, नाभिक के चारों तरफ निश्चित त्रिज्या और ऊर्जा वाले वृत्ताकार पथों में घूम सकता है। इन वृत्ताकार पथों को हम कक्षा या स्थायी अवस्था या अनुमत ऊर्जा स्तर कहते हैं। ये कक्षाएँ नाभिक के चारों ओर संकेंद्रीय रूप में व्यवस्थित होती हैं।

(ii) कक्षा में इलेक्ट्रॉन की ऊर्जा समय के साथ नहीं परिवर्तित होती है, तथापि कोई इलेक्ट्रॉन निम्न स्थायी स्तर से उच्च स्थायी स्तर पर तब जाएगा, जब वह आवश्यक ऊर्जा का अवशोषण करेगा अथवा इलेक्ट्रॉन के उच्च स्थायी स्तर से निम्न स्तर पर आने के बाद ऊर्जा का उत्सर्जन होगा (समीकरण 2.16)। ऊर्जा-परिवर्तन सतत् तरीके से नहीं होता है।

कोणीय संवेग

जिस प्रकार द्रव्यमान (m) और रैखिक वेग (v) का गुणनफल रैखिक संवेग होता है, उसी प्रकार कोणीय संवेग (angular momentum) जड़त्व आघूर्ण (I) ओर कोणीय वेग (ω) का गुणनफल होता है। m_e द्रव्यमान वाले इलेक्ट्रॉन के लिए, जो नाभिक के चारों ओर (r) त्रिज्या की वृत्ताकार कक्षा में घूम रहा है।

कोणीय संवेग $= I \times \omega$

क्योंकि $I = m_e r^2$ और $\omega = v/r$ जहाँ v रैखिक वेग है

अत: कोणीय संवेग $= m_e r^2 \times v/r = m_e vr$

(iii) ΔE के अंतर वाली दो स्थायी अवस्थाओं के संक्रमण के समय अवशोषित अथवा उत्सर्जित विकिरण को निम्नलिखित रूप में दिया जा सकता है–

$$\nu = \frac{\Delta E}{h} = \frac{E_2 - E_1}{h} \qquad (2.10)$$

जहाँ E_1 तथा E_2 क्रमश: निम्न और उच्च अनुमत ऊर्जा अवस्थाएँ हैं। इस समीकरण को **बोर का आवृत्ति का नियम** कहा जाता है।

(iv) एक इलेक्ट्रॉन का कोणीय संवेग दी हुई स्थायी अवस्था में इस समीकरण के द्वारा दर्शाया जा सकता है–

$$m_e vr \quad \frac{nh}{2} \qquad n = 1,2,3..... \qquad (2.11)$$

अत: एक इलेक्ट्रॉन केवल उन्हीं कक्षों में घूम सकता है, जिनमें कोणीय संवेग का मान $h/2\pi$ का पूर्णांक गुणक होगा। यही कारण है कि कुछ निश्चित कक्ष ही अनुमत होते हैं। बोर

की स्थायी अवस्थाओं की ऊर्जाओं के विचलन के विषय में दी गई विस्तृत जानकारी काफी जटिल है। अत: उसे आगे की कक्षाओं में समझाया जाएगा। बोर सिद्धांत के अनुसार हाइड्रोजन परमाणु के लिए–

(क) इलेक्ट्रॉन के लिए स्थायी अवस्थाओं को $n = 1,2,3...$ के द्वारा व्यक्त किया गया है। इन पूर्णांकों को **मुख्य क्वांटम संख्या** (principal quantum number) कहा जाता है (खंड 2.6.2)।

(ख) स्थायी अवस्थाओं की त्रिज्याओं को निम्नलिखित रूप में प्रदर्शित किया जाता है–

$$r_n = n^2 a_0 \qquad (2.12)$$

जहाँ $a_0 = 52.9$ pm इस प्रकार पहली स्थायी अवस्था, जिसे 'बोर कक्षा' कहा जाता है, की त्रिज्या 52.9 pm होती है। साधारणतया हाइड्रोजन परमाणु में इलेक्ट्रॉन इसी कक्षा ($n = 1$) में पाया जाता है। n के बढ़ने के साथ r का मान बढ़ता है। दूसरे शब्दों में, इलेक्ट्रॉन नाभिक से दूर उपस्थित होता है।

(ग) इलेक्ट्रॉन से संबंधित सबसे महत्त्वपूर्ण गुण स्थायी अवस्था की ऊर्जा है। इसे निम्नलिखित सूत्र द्वारा दिया जाता है–

$$E_n = -R_H\left(\frac{1}{n^2}\right) \qquad \text{जहाँ } n = 1,2,3.... \qquad (2.13)$$

जहाँ R_H को रिड़बर्ग स्थिरांक, (Rydberg constant) कहते हैं। इसका मान $2.18\ \ 10^{-18}$J होता है। निम्नतम अवस्था, जिसे 'तलस्थ अवस्था' (ground state) भी कहते हैं, की ऊर्जा $E_1 = -2.18\ 10^{-18}\ (\frac{1}{1^2}) = -2.18\ 10^{-18}$ J है। $n = 2$ वाली स्थायी अवस्था के लिए ऊर्जा $E_2 = -2.18\ 10^{-18}$J $(\frac{1}{2^2}) = -0.545\ \ 10^{-18}$ J. होगी। चित्र 2.11 में हाइड्रोजन परमाणु की विभिन्न स्थायी अवस्थाओं में ऊर्जा-स्तरों की ऊर्जाओं को दिखाया गया है। इसको 'ऊर्जा स्तर आरेख' कहा जाता है।

जब इलेक्ट्रॉन नाभिक के प्रभाव से मुक्त होता है, तब ऊर्जा का मान शून्य लिया जाता है। ऐसी स्थिति में इलेक्ट्रॉन मुख्य संख्या $n = \infty$ की स्थायी अवस्था से संबंधित होता है तथा **आयनित हाइड्रोजन परमाणु** कहलाता है। जब इलेक्ट्रॉन नाभिक द्वारा आकर्षित होता है तथा n कक्षा में उपस्थित होता है, तब ऊर्जा का उत्सर्जन होता है और इसकी ऊर्जा निम्न हो जाती है। समीकरण (2.13) में ऋण चिह्न इसी कारण होता है और इसकी शून्य ऊर्जा की संदर्भ अवस्था तथा $n = \infty$ के संबंध में इसके स्थायित्व को दर्शाता है।

हाइड्रोजन परमाणु के लिए ऋणात्मक इलेक्ट्रॉनिक ऊर्जा (E_n) का क्या अर्थ है?

हाइड्रोजन परमाणु में हर संभव कक्षा में इलेक्ट्रॉन के मान में ऋण चिह्न होता है (समीकरण 2.13)। यह ऋण चिह्न क्या दर्शाता है? इस ऋण चिह्न का अर्थ यह है कि परमाणु में इलेक्ट्रॉन की ऊर्जा स्थिर अवस्था में स्वतंत्र इलेक्ट्रॉन से कम है। स्थिर (rest) अवस्था में स्वतंत्र इलेक्ट्रॉन वह इलेक्ट्रॉन होता है, जो नाभिक से अनंत दूरी पर हो। इसकी ऊर्जा को शून्य मान लिया जाता है। गणित में इसका अर्थ यह है कि समीकरण (2.13) में $n = \infty$ रखा जाए, जिससे $E_\infty = 0$ प्राप्त होता है। जैसे ही इलेक्ट्रॉन नाभिक के पास आता है (जैसे– n घटता है), वैसे ही E_n का निरपेक्ष मान बढ़ता जाता है और यह अधिक ऋणात्मक होता जाता है। जब $n = 1$ हो, तब ऊर्जा का मान सबसे अधिक ऋणात्मक होता है और यह कक्षा सबसे अधिक स्थायी होती है। हम इसे 'तलस्थ अवस्था' कहते हैं।

(घ) हाइड्रोजन परमाणु में उपस्थित एक इलेक्ट्रॉन के समान, उन आयनों, जिनमें केवल एक इलेक्ट्रॉन होता है, पर भी बोर के सिद्धांत को लागू किया जा सकता है। उदाहरणार्थ– He^+ Li^{2+}, Be^{3+} इत्यादि। इस प्रकार के आयनों (हाइड्रोजन के समान स्पीशीज़ कहलाते हैं) से संबंधित स्थानीय अवस्थाओं की ऊर्जाएँ निम्नलिखित समीकरण द्वारा दी जा सकती हैं :

$$E_n = -2.18 \times 10^{-18}\left(\frac{Z^2}{n^2}\right)\text{J} \qquad (2.14)$$

त्रिज्या को निम्नलिखित समीकरण द्वारा दिया जाता है–

$$r_n = \frac{52.9(n^2)}{Z}\text{pm} \qquad (2.15)$$

जहाँ Z परमाणु संख्या है। हीलियम और लीथियम परमाणुओं के लिए इसका मान क्रमश: 2 और 3 है। उपरोक्त समीकरणों से यह विदित है कि Z के बढ़ने के साथ ऊर्जा का मान अधिक ऋणात्मक हो जाता है तथा त्रिज्या कम हो जाती है। इसका अर्थ यह है कि इलेक्ट्रॉन नाभिक से दृढ़तापूर्वक बँधा होता है।

(ङ) इन कक्षाओं में गति करते हुए इलेक्ट्रॉनों के वेगों की गणना करना भी संभव है, यद्यपि इसके लिए एक सटीक समीकरण यहाँ नहीं दिया गया है। गुणात्मक रूप से नाभिक पर धनावेश के बढ़ने के साथ इलेक्ट्रॉन का वेग बढ़ता है तथा मुख्य क्वांटम संख्या के बढ़ने के साथ यह घटता है।

© BSTBE WEB COPY NOT TO BE

2.4.1 हाइड्रोजन के रेखा स्पेक्ट्रम की व्याख्या

बोर के मॉडल का उपयोग करके खंड 2.3.3 में बताए गए हाइड्रोजन परमाणु के रेखा स्पेक्ट्रम की व्याख्या मात्रात्मक रूप में की जा सकती है। बोर के अभीगृहीत (ii) के अनुसार, निम्न से उच्च मुख्य क्वांटम संख्या की कक्षा में गमन करने पर विकिरण (ऊर्जा) का अवशोषण होता है, जबकि विकिरण (ऊर्जा) का उत्सर्जन इलेक्ट्रॉन के उच्च से निम्न कक्षा की ओर इलेक्ट्रॉन का गमन करने पर होता है। दो कक्षाओं के बीच के ऊर्जा के अंतर को इस समीकरण द्वारा दिया जा सकता है।

$$\Delta E = E_f - E_i \qquad (2.16)$$

समीकरण 2.13 और 2.16 को जोड़ने पर $\Delta E = \left(-\frac{R_H}{n_f^2}\right) - \left(-\frac{R_H}{n_i^2}\right)$ (जहाँ n_i तथा n_f क्रमशः आरंभिक और अंतिम कक्षा को प्रदर्शित करते हैं)

$$\Delta E = R_H\left(\frac{1}{n_i^2} - \frac{1}{n_f^2}\right) = 2.18\times10^{-18}\,J\left(\frac{1}{n_i^2} - \frac{1}{n_f^2}\right) \qquad (2.17)$$

समीकरण (2.18) का उपयोग करके फोटॉन के अवशोषण तथा उत्सर्जन से संबंधित आवृत्ति (ν) का मूल्यांकन किया जा सकता है।

$$\nu = \frac{\Delta E}{h} = \frac{R_H}{h}\left(\frac{1}{n_i^2} - \frac{1}{n_f^2}\right)$$

$$= \frac{2.18\times10^{-18}\,J}{6.626\times10^{-34}\,J\,s}\left(\frac{1}{n_i^2} - \frac{1}{n_f^2}\right) \qquad (2.18)$$

$$= 3.29\times10^{15}\left(\frac{1}{n_i^2} - \frac{1}{n_f^2}\right) Hz \qquad (2.19)$$

संगत तरंग-संख्या ($\bar{\nu}$) यह

$$\bar{\nu} = \frac{R_H}{hc}\left(\frac{1}{n_i^2} - \frac{1}{n_f^2}\right) \qquad (2.20)$$

$$= \frac{3.29\times10^{15}\,s^{-1}}{3\times10^{8}\,m\,s^{-s}}\left(\frac{1}{n_i^2} - \frac{1}{n_f^2}\right)$$

$$= 1.09677\times10^{7}\left(\frac{1}{n_i^2} - \frac{1}{n_f^2}\right) m^{-1} \qquad (2.21)$$

अवशोषण स्पेक्ट्रम में $n_f > n_i$ और कोष्ठक में दी गई मात्राएँ धनात्मक होती हैं तथा ऊर्जा का अवशोषण होता है। दूसरी ओर उत्सर्जन स्पेक्ट्रम में $n_i > n_f$ होता है, ΔE ऋणात्मक होता है तथा ऊर्जा मुक्त होती है।

समीकरण 2.17 रिड़बर्ग समीकरण 2.9 के जैसा है, जिसे उस समय पर उपलब्ध प्रायोगिक आँकड़ों द्वारा प्राप्त किया गया था। इसके अलावा हाइड्रोजन परमाणु के अवशोषण तथा उत्सर्जन स्पेक्ट्रम में प्रत्येक स्पेक्ट्रमी रेखा एक विशेष संक्रमण के संगत होती है। कई हाइड्रोजन परमाणुओं के स्पेक्ट्रमी अध्ययन में कई संभव संक्रमण देखे जा सकते हैं और उनसे कई स्पेक्ट्रमी रेखाएँ प्राप्त होती हैं। किसी स्पेक्ट्रमी रेखा की तीव्रता इस बात पर निर्भर करती है कि एक समान तरंग-दैर्घ्य या आवृत्ति वाले कितने फोटॉन अवशोषित या उत्सर्जित होते हैं।

उदाहरण 2.10

हाइड्रोजन परमाणु में $n = 5$ अवस्था से $n = 2$ अवस्था वाले संक्रमण के दौरान उत्सर्जित फोटॉन की आवृत्ति और तरंग-दैर्घ्य क्या होगी?

हल

क्योंकि $n_i = 5$ और $n_f = 2$,

अतः इस संक्रमण से बामर श्रेणी में एक स्पेक्ट्रमी रेखा प्राप्त होती है।

समीकरण (2.17) से

$$\Delta E = 2.18\times10^{-18}\,J\left[\frac{1}{5^2} - \frac{1}{2^2}\right]$$

$$= -4.58\times10^{-19}\,J$$

यह उत्सर्जन ऊर्जा है।

फोटॉन की आवृत्ति (ऊर्जा को परिमाण के रूप से लेते हुए) इस प्रकार दी जा सकती है–

$$\nu = \frac{\Delta E}{h}$$

$$= \frac{4.58\times10^{-19}\,J}{6.626\times10^{-34}\,J\,s}$$

$$= 6.9110^{14}\ Hz$$

$$\lambda = \frac{c}{\nu} = \frac{3.0\times10^{8}\,m\,s^{-1}}{6.91\times10^{14}\,Hz} = 434\ nm$$

© BSE WEB COPY NOT

उदाहरण 2.11

He^+ की प्रथम कक्षा से संबंधित ऊर्जा की गणना। कीजिए। और बताइए कि इस कक्षा की त्रिज्या क्या होगी?

हल

$$E_n = -\frac{(2.18\times10^{-18}\,J)Z^2}{n^2}\ \text{atom}^{-1}$$

He^+ के लिए, $n = 1, Z = 2$

$$E_1 \quad \frac{(2.18 \quad 10^{-18}\,J)(2^2)}{1^2} \quad 8.72 \quad 10^{-18}\,J$$

समीकरण 2.15 से कक्षा की त्रिज्या दी जाती है।

$$r_n = \frac{(0.0529\ \text{nm})n^2}{Z}$$

चूँकि $n = 1$ और $Z = 2$

$$r_n = \frac{(0.0529\ \text{nm})1^2}{2} = 0.02645\ \text{nm}$$

2.4.2 बोर मॉडल की सीमाएँ

इसमें कोई संदेह नहीं कि हाइड्रोजन परमाणु का बोर मॉडल रदरफोर्ड के नाभिकीय मॉडल से बेहतर था। हाइड्रोजन परमाणु तथा इसके जैसे अन्य आयनों (जैसे– He^+, Li^{2+}, Be^{3+} इत्यादि) के रेखा स्पेक्ट्रम और स्थायित्व की व्याख्या कर सकता था, लेकिन बोर का मॉडल निम्नलिखित बिंदुओं की व्याख्या नहीं कर सका।

(i) परिष्कृत स्पेक्ट्रमी तकनीकों द्वारा प्राप्त हाइड्रोजन स्पेक्ट्रम में सूक्ष्म संरचना [द्विक (doublet), अर्थात् पास-पास स्थित दो रेखाएँ] की व्याख्या करने में विफल रहा। यह मॉडल हाइड्रोजन के अलावा अन्य परमाणुओं के स्पेक्ट्रम की व्याख्या करने में असमर्थ रहा। उदाहरण के लिए, हीलियम परमाणु, जिसमें केवल दो इलेक्ट्रॉन होते हैं, बोर का सिद्धांत चुंबकीय क्षेत्र में स्पेक्ट्रमी रेखाओं के विपाटन (जीमन प्रभाव) या विद्युत् क्षेत्र की उपस्थिति में स्पेक्ट्रमी रेखाओं के विपाटन (स्टार्क-प्रभाव) को स्पष्ट करने में भी विफल रहा।

(ii) अंत में, यह परमाणुओं के रासायनिक आबंधों द्वारा अणु बनाने की योग्यता की व्याख्या नहीं कर सका।

दूसरे शब्दों में, उपरोक्त सारी सीमाओं को ध्यान में रखते हुए एक ऐसे सिद्धांत की आवश्यकता है, जो जटिल परमाणुओं की संरचना के मुख्य लक्षणों की व्याख्या कर सके।

2.5 परमाणु के क्वांटम यांत्रिकीय मॉडल की ओर

बोर मॉडल की कमियों को ध्यान में रखते हुए परमाणुओं के लिए अधिक उपयुक्त और साधारण मॉडल के विकास के प्रयास किए गए। इस प्रकार के मॉडल के निर्माण में जिन दो महत्त्वपूर्ण तथ्यों का अधिक योगदान रहा, वे निम्नलिखित हैं–

(क) द्रव्य का द्वैत व्यवहार

(ख) हाइजैनबर्ग का अनिश्चितता का सिद्धांत

लुई दे ब्रॉग्ली

(1892-1987)



फ्रांसीसी भौतिक वैज्ञानिक लुई दे ब्रॉग्ली ने सन् 1910 के शुरू में स्नातक स्तर पर इतिहास पढ़ा। प्रथम विश्वयद्ध के दौरान रेडियो-प्रसारण के लिए उनकी नियुक्ति हुई। उसके बाद विज्ञान के प्रति उनकी रुचि जागृत हो गई। सन् 1924 में उन्होंने पेरिस विश्वविद्यालय से डी.एस-सी. की उपाधि प्राप्त की। सन् 1932 से अपनी अवकाश प्राप्ति से सन् 1962 तक वे पेरिस विश्वविद्यालय में आचार्य रहे।

सन् 1929 में उन्हें भौतिकी में नोबेल पुरस्कार प्रदान कर के सम्मानित किया गया।

2.5.1 द्रव्य का द्वैत व्यवहार

फ्रांसीसी भौतिक वैज्ञानिक दे ब्रॉग्ली ने सन् 1924 में प्रतिपादित किया कि विकिरण की तरह द्रव्य को भी द्वैत व्यवहार प्रदर्शित करना चाहिए, अर्थात् द्रव्य में कण तथा तरंग– दोनों तरह के गुण होने चाहिए। इसका अर्थ यह है कि जिस तरह फोटॉन का संवेग एवं तरंग-दैर्ध्य होते हैं, उसी तरह इलेक्ट्रॉन का भी संवेग और तरंग-दैर्ध्य होना चाहिए। ब्रॉग्ली ने इस तर्क के आधार पर किसी पदार्थ के कण के लिए तरंग-दैर्ध्य (λ) तथा संवेग (p) के बीच निम्नलिखित संबंध बताया–

$$\frac{h}{mv} \quad \frac{h}{p} \qquad (2.22)$$

जहाँ m कण का द्रव्यमान, v उसका वेग और p उसका संवेग है। दे ब्रॉग्ली के इन विचारों की पुष्टि प्रयोगों द्वारा तब हुई, जब यह देखा गया कि इलेक्ट्रॉनों के पुंज का विवर्तन होता है, जो तरंगों का लक्षण है। इस सिद्धांत के आधार पर इलेक्ट्रॉन

सूक्ष्मदर्शी की रचना की गई, जो इलेक्ट्रॉनों के तरंग जैसे व्यवहार पर उसी प्रकार आधारित है, जिस प्रकार साधारण सूक्ष्मदर्शी की रचना प्रकाश की तरंग प्रकृति पर आधारित है। आधुनिक वैज्ञानिक शोध-कार्यों में इलेक्ट्रॉन सूक्ष्मदर्शी एक महत्त्वपूर्ण उपकरण है, क्योंकि इससे किसी अतिसूक्ष्म वस्तु को 150 लाख गुना बड़ा करके देखा जा सकता है।

यह ध्यान देने योग्य बात है कि दे ब्रॉग्ली के अनुसार प्रत्येक गतिशील वस्तु में तरंग के लक्षण होते हैं। साधारण वस्तुओं का अधिक द्रव्यमान होने के कारण उनसे संबंधित तरंग-दैर्ध्य इतनी कम होती है कि उनके तरंग जैसे गुणों का पता नहीं चल पाता, परंतु इलेक्ट्रॉनों और अन्य अवपरमाणुक कणों, जिनका द्रव्यमान बहुत कम होता है, से संबंधित तरंग-दैर्ध्यों को प्रयोगों द्वारा पहचाना जाता है। प्रश्नों में दिए गए परिणाम इसे गुणात्मक रूप से सिद्ध करते हैं।

उदाहरण 2.12

0.1 kg द्रव्यमान और 10 ms^{-1} वेग से गति कर रही एक गेंद की तरंग-दैर्ध्य क्या होगी?

हल

दे ब्रॉग्ली समीकरण (2.22) के अनुसार

$$\frac{h}{mv} \quad \frac{(6.626 \quad 10^{34}\,Js)}{(0.1\,kg)(10\,m\,s^{1})}$$

= 6.626 10^{-34} m (J = kg m^2 s^{-2})

उदाहरण 2.13

एक इलेक्ट्रॉन का द्रव्यमान 9.1 10^{-25}kg है। यदि इसकी गतिज ऊर्जा 3.0 10^{-25}J है, तो इसका तरंग-दैर्ध्य क्या होगा?

हल

चूँकि गतिज ऊर्जा = $\frac{1}{2}mv^2$

$$v = \left(\frac{2 \times \text{गतिज ऊर्जा}}{m}\right)^{1/2}$$

$$= \left(\frac{2 \times 3.0 \times 10^{-25}\,kg\,m^2 s^{-2}}{9.1 \times 10^{-31}\,kg}\right)^{1/2}$$

$$= 812\,ms^{-1}$$

$$\lambda = \frac{h}{mv}$$

$$= \frac{6.626 \times 10^{-34}\,Js}{(9.1 \times 10^{-31}\,kg)(812\,ms^{-1})}$$

$$= 8967 \times 10^{-10}\,m$$

$$= 896.7\,nm$$

उदाहरण 2.14

3.6 A° तरंग-दैर्ध्य लंबाई वाले एक फोटॉन के द्रव्यमान की गणना कीजिए।

हल

$\lambda = 3.6\ Å = 3.6 \times 10^{-10}$m

फोटॉन का वेग = प्रकाश का वेग

$$m = \frac{h}{\lambda\nu} = \frac{6.626 \times 10^{-34}\,Js}{(3.6 \times 10^{-10}\,m)(3 \times 10^{8}\ m\,s^{-1})}$$

= 6.135 10^{-29} kg

2.5.2 हाइज़ेनबर्ग का अनिश्चितता सिद्धांत

द्रव्य और विकिरण के दोहरे व्यवहार के फलस्वरूप एक जर्मन भौतिक वैज्ञानिक वर्नर हाइज़ेनबर्ग ने सन् 1927 में **अनिश्चितता का सिद्धांत** दिया। इसके अनुसार, किसी इलेक्ट्रॉन की सही स्थिति और सही वेग का निर्धारण एक साथ करना असंभव है।

$$\Delta x \times \Delta p_x \geq \frac{h}{4\pi} \qquad (2.23)$$

अथवा $\Delta x \times \Delta(mv_x) \geq \frac{h}{4\pi}$ और $\Delta x \times \Delta v_x \geq \frac{h}{4\pi m}$

जहाँ Δx कण की स्थिति में अनिश्चितता और Δp_x (Δp_x) संवेग (अथवा वेग) में अनिश्चितता है। इसके अनुसार, किसी इलेक्ट्रॉन की यथार्थ स्थिति और यथार्थ वेग का निर्धारण एक साथ करना असंभव है। दूसरे शब्दों में, यदि इलेक्ट्रॉन की बिल्कुल सही स्थिति ज्ञात है (Δx कम है), तब इलेक्ट्रॉन के वेग में अनिश्चिता (Δv_x) अधिक होगी। दूसरी तरफ, यदि इलेक्ट्रॉन का वेग बिलकुल सही ज्ञात है (Δv_x कम है) तो इलेक्ट्रॉन की स्थिति (Δx अधिक) ज्ञात नहीं होगी। इस प्रकार

यदि इलेक्ट्रॉन की स्थिति अथवा वेग पर कुछ भौतिक माप लिए जाएँ, तो इसके परिणाम हमेशा कुछ अस्पष्ट ही प्राप्त होंगे। अनिश्चितता सिद्धांत को एक उदाहरण के द्वारा बहुत अच्छी तरह समझा जा सकता है। मान लीजिए कि मीटर के किसी अचिह्नित पैमाने से किसी कागज की मोटाई मापने के लिए आपसे कहा जाता है। तब प्राप्त परिणाम सही नहीं होगा कागज की मोटाई को सही-सही मापने के लिए आपको कागज की मोटाई से कम इकाई वाले चिह्नित उपकरण का उपयोग करना होगा। इसी प्रकार इलेक्ट्रॉन की स्थिति को निर्धारित करने के लिए आपको एक ऐसे पैमाने की आवश्यकता होगी, जिसका अंशाकन इलेक्ट्रॉन की विमाओं से छोटे मात्रकों में हो। इलेक्ट्रॉन की स्थिति ज्ञात करने के लिए हमें इसे प्रकाश या विद्युत्-चुंबकीय विकिरण द्वारा प्रदीप्त करना होगा। प्रयुक्त प्रकाश की तरंग-दैर्घ्य, इलेक्ट्रॉन की विमाओं से कम होनी चाहिए, परंतु ऐसे प्रकाश के फोटॉन की ऊर्जा बहुत अधिक होगी। ऐसे प्रकाश का उच्च संवेग $\left(p=\frac{h}{\lambda}\right)$ वाला फोटॉन इलेक्ट्रॉन से टकराने पर उसकी ऊर्जा में परिवर्तन कर देगा। निस्संदेह इस प्रक्रिया से हम इलेक्ट्रॉन की स्थिति तो ठीक-ठीक निर्धारित कर लेंगे, परंतु टकराने की प्रक्रिया के पश्चात् हमें उसके वेग के बारे में बहुत कम जानकारी होगी।

अनिश्चितता सिद्धांत का महत्त्व

हाइज़ेनबर्ग के अनिश्चितता नियम का एक महत्त्वपूर्ण निहितार्थ यह है कि यह नियम निश्चित मार्ग या प्रक्षेप पथ (trajectories) के अस्तितव का खंडन करता है। किसी पिंड का प्रक्षेप पथ भिन्न-भिन्न कोणों पर उसकी स्थिति एवं वेग से निर्धारित किया जाता है। यदि हमें किसी विशेष क्षण पर एक पिंड की स्थिति एवं वेग तथा उस पर उस क्षण कार्य कर रहे बलों की जानकारी हो, तो यह बता सकते हैं कि बाद के किसी समय में पिंड कहाँ पर होगा। अत: हम यह निष्कर्ष निकालते हैं कि किसी पिंड की स्थिति एवं वेग से उसका प्रक्षेप-पथ निश्चित हो जाता है। चूँकि इलेक्ट्रॉन जैसे किसी अव-परमाणवीय पिंड के लिए एक साथ उसकी स्थिति एवं वेग का निर्धारण किसी क्षण यथार्थता के किसी वांछित हद तक संभव नहीं है। इसलिए इलेक्ट्रॉन के प्रक्षेप-पथ के बारे में बात करना संभव नहीं है।

हाइज़ेनबर्ग अनिश्चितता सिद्धांत का प्रभाव केवल सूक्ष्म पिंडों की गति के लिए है; स्थूल पिंडों के लिए यह प्रभाव अतिन्यून होता है। इस उदाहरण से यह समझा जा सकता है–

यदि एक मिलीग्राम (10^{-6} kg) द्रव्यमान वाले पिंड पर अनिश्चितता सिद्धांत लागू किया जाए, तो

$$\Delta v.\Delta x = \frac{h}{4\pi.m}$$

$$\Delta v.\Delta x = \frac{6.626\times10^{-34}\ \text{J s}}{4\times3.1416\times10^{-6}\ \text{kg}} \approx 10^{-28}\text{m}^2\text{s}^{-1}$$

प्राप्त $\Delta v.\Delta x$ का मान अत्यधिक कम एवं नगण्य है। इसलिए यह कहा जा सकता है कि मिलीग्राम आकार के पिंडों (या उससे बड़े पिंडों) के लिए विचार करते समय संबद्ध अनिश्चितताएँ किसी वास्तविक परिणाम की नहीं होती।

दूसरी तरफ इलेक्ट्रॉन के समान सूक्ष्म पिंड के लिए प्राप्त मान काफी अधिक होता है। ऐसी अनिश्चितताएँ वास्तविक परिणाम की होती हैं। उदाहरणार्थ– एक 9.11 10^{-31}kg द्रव्यमान वाले इलेक्ट्रॉन के लिए हाइजेनबर्ग अनिश्चितता सिद्धांत के अनुसार–

$$\Delta v.\Delta x = \frac{h}{4\pi.m}$$

$$= \frac{6.626\times10^{-34}\ \text{Js}}{4\times3.1416\times9.11\times10^{-31}\ \text{kg}}$$

$$= 10^{-4}\text{m}^2\text{s}^{-1}$$

इसका अभिप्राय यह है कि यदि इलेक्ट्रॉन की सही स्थिति 10^{-8}m की अनिश्चितता तक जानने का प्रयास कोई करता है, तो वेग में अनिश्चितता Δv होगी।



वर्नर हाइज़ेनबर्ग (1901-1976)
वर्नर हाइज़ेनबर्ग ने म्यूनिख विश्वविद्यालय से सन् 1923 में भौतिकी में पीएच.डी. की उपाधि प्राप्त की। उन्होंने तब एक वर्ष मैक्स बार्न के साथ म्यूनिख में तथा तीन वर्ष को पेन हेगन में नील बोर के साथ कार्य किया। वे सन् 1927 से 1941 तक लीप सिफ में भौतिकी के प्रोफेसर रहे। द्वितीय विश्वयुद्ध के दौरान वे परमाणु बम पर जर्मन अनुसंधान के प्रभारी थे। युद्ध के बाद उन्हें ग्वेटिंगजन में भौतिकी के मैक्स प्लांक संस्थान का निदेशक नामित किया गया। वे एक जाने-माने पर्वतारोही थे। सन् 1932 में उन्हें भौतिकी में नोबेल पुरस्कार प्रदान किया गया।

© BSTBPC COPY NOT TO BE PUBLISHED

$$\frac{10^{-4}\,m^2 s^{-1}}{10^{-8}\,m} \quad 10^4 m\,s^{-1}$$

जो इतनी अधिक है कि इलेक्ट्रॉन को बोर कक्षाओं में गति करता हुआ मानने की चिरसम्मत अवधारणा को अप्रामाणिक साबित कर सके। **अतः इसका अर्थ यह है कि इलेक्ट्रॉन की स्थिति एवं संवेग के परिशुद्ध कथन को प्रायिकता कथन से प्रतिस्थापित करना होगा, जो एक इलेक्ट्रॉन दिए गए स्थान एवं संवेग पर रखता है।** ऐसा ही परमाणु के क्वांटम यांत्रिकी मॉडल में होता है।

उदाहरण 2.15

एक सूक्ष्मदर्शी उपयुक्त फोटॉनों का उपयोग करके किसी परमाणु में इलेक्ट्रॉन को 0.1 Å दूरी के अंतर्गत उसकी स्थिति जानने के लिए प्रयुक्त होता है। इसके वेग मापन में अंतर्निहित अनिश्चितता क्या है?

हल

$$\Delta x.\,\Delta p = \frac{h}{4\pi} \text{ or } \Delta x.\,m\Delta v = \frac{h}{4\pi}$$

$$\Delta v = \frac{h}{4\pi.\Delta x.m}$$

$$\Delta v = \frac{6.626\times10^{-34}\ Js}{4\times3.14\times0.1\times10^{-10} m\times9.11\times10^{-31} kg}$$

$= 0.57910^7\ m\ s^{-1}$ $(1J = 1\ kg\ m^2\ s^{-2})$

$= 5.7910^6\ m\ s^{-1}$

उदाहरण 2.16

एक गोल्फ की गेंद का द्रव्यमान 40g तथा गति 45m/s है। यदि गति को 2% यथार्थता के अंदर मापा जा सकता हो, तो स्थिति में अनिश्चितता की गणना कीजिए।

हल

गति में 2% की अनिश्चितता है, अर्थात्

$$45 \times \frac{2}{100} = 0.9\,m\,s^{-1}$$

समीकरण 2.23 का उपयोग करके

$$.\Delta x = \frac{h}{4\pi m}$$

$$= \frac{6.626\times10^{-34}\ Js}{4\times3.14\times40g\times10^{-31}\ kg\ g^{-1}(0.9ms^{-1})}$$

$= 1.46\times10^{-3}\ m$

जो प्ररूपी परमाणु नाभिक के व्यास का लगभग 10^{18} वाँ भाग है। जैसा पहले बताया जा चुका है बड़े कणों के लिए अनिश्चितता सिद्धांत परिशुद्ध मापन की कोई अर्थपूर्ण सीमा निर्धारित नहीं करता है।

बोर मॉडल की विफलता के कारण

अब बोर मॉडल की विफलता के कारण को आप समझ सकते हैं। बोर मॉडल में एक इलेक्ट्रॉन को एक आवेशित कण के रूप में नाभिक के चारों ओर निश्चित वृत्ताकार कक्षाओं में घूमता हुआ माना जाता है। इस मॉडल में इलेक्ट्रॉन के तरंग-लक्षण पर कोई विचार नहीं किया गया है। इस पथ को पूरी तरह तभी परिभाषित किया जा सकता है, जब इलेक्ट्रॉन की सही स्थिति और सही वेग– दोनों एक साथ ज्ञात हों। **हाइज़ेनबर्ग के सिद्धांत** के अनुसार, ऐसा संभव नहीं है। इस प्रकार हाइड्रोजन परमाणु का बोर मॉडल न केवल द्रव्य के दोहरे व्यवहार की अनदेखी करता है, बल्कि 'हाइज़ेनबर्ग' अनिश्चितता सिद्धांत के विपरीत भी है।

इस प्रकार की सहज कमजोरियों के कारण बोर मॉडल को अन्य परमाणुओं पर लागू नहीं किया जा सका। अतः परमाणु संरचना के बारे में ऐसे विचारों की आवश्यकता थी, जिनसे प्राप्त परमाणु मॉडल द्रव्य के तरंग-कण वाले दोहरे व्यवहार को ध्यान में रखें और 'हाइज़ेनबर्ग अनिश्चितता सिद्धांत' के अनुरूप हों। ऐसा क्वांटम यांत्रिकी के उद्गम द्वारा संभव हुआ।

2.6 परमाणु का क्वांटम यांत्रिकीय मॉडल

जैसा पूर्व खंड में बतलाया गया है, न्यूटन के 'गति के नियमों' के आधार पर विकसित चिरसम्मत यांत्रिकी द्वारा स्थूल पदार्थों (जैसे– गिरते हुए पत्थर, चक्कर लगाते हुए ग्रहों आदि), जिनका व्यवहार कण जैसा होता है, की गति का सफलतापूर्वक वर्णन किया जा सकता है, किंतु जब इसे अति सूक्ष्म कणों (जैसे– इलेक्ट्रॉनों, अणुओं और परमाणुओं) पर लागू किया जाता है, तो यह विफल हो जाता है। ऐसा होने का कारण यह है कि चिरसम्मत यांत्रिकी द्रव्य रूप से अवपरमाणुक कणों के दोहरे व्यवहार की संकल्पना तथा अनिश्चितता नियम की उपेक्षा करती है। द्रव्य के दोहरे व्यवहार को ध्यान में रखकर विकसित विज्ञान को **क्वांटम यांत्रिकी** (quantum machanics) कहते हैं।

क्वांटम यांत्रिकी एक सैद्धांतिक विज्ञान है, जिसमें उन अति सूक्ष्म वस्तुओं की गतियों का अध्ययन किया जाता है, जो तरंग और कण दोनों के गुण दर्शाती हैं। यह ऐसी वस्तुओं की गति के नियमों को निश्चित करती है। जब क्वांटम यांत्रिकी को स्थूल वस्तुओं (जिनके लिए तरंगीय गुण अतिन्यून होते हैं) पर लागू किया जाता हैं, तब चिरसम्मत यांत्रिकी के परिणामों जैसे ही परिणाम प्राप्त होते हैं।

सन् 1926 में वर्नर हाइज़ेनबर्ग और इर्विन श्रोडिंजर द्वारा अलग-अलग क्वांटम यांत्रिकी का विकास किया गया। यहाँ पर हम श्रोडिंजर द्वारा विकसित 'क्वांटम यांत्रिकी' पर ही चर्चा करेंगे, जो तरंगों की गति के विचारों पर आधारित है।

क्वांटम यांत्रिकी का मूल समीकरण श्रोडिंजर द्वारा प्रतिपादित किया गया। इसके लिए उन्हें सन् 1933 में भौतिकी का नोबेल पुरस्कार प्रदान किया गया। यह समीकरण, जो दे ब्राग्ली द्वारा बताए गए पदार्थ के कण और तरंग वाले दोहरे व्यवहार को ध्यान में रखता है, काफी जटिल है। इसका हल करने के लिए उच्च गणित का परिपक्व ज्ञान होना आवश्यक है। इस समीकरण को विभिन्न निकायों पर लागू करने के बाद प्राप्त हलों के बारे में आप आगे की कक्षाओं में पढ़ेंगे।

ऐसे निकाय (जैसे– एक परमाणु या अणु, जिसकी ऊर्जा समय के साथ परिवर्तित नहीं होती है) के लिए श्रोडिंजर समीकरण को इस प्रकार लिखा जाता है–

$$\hat{H}\psi = E\psi$$

जहाँ $\hat{H}$ एक गणितीय संकारक (operator) है, जिसे 'हेमिल्टोनियन' कहते हैं। श्रोडिंजर ने बताया कि निकाय की कुल ऊर्जा के व्यंजक से इस संकारक को कैसे लिखा जा सकता है। किसी निकाय की कुल ऊर्जा, उसके अवपरमाणविक कणों (इलेक्ट्रॉन और नाभिक) की गतिज ऊर्जा इलेक्ट्रॉनों तथा नाभिकों के बीच आकर्षण एवं प्रतिकर्षण विभव से संबंधित है। इस समीकरण के हल से E तथा ψ के मान प्राप्त होते हैं।

हाइड्रोजन परमाणु तथा श्रोडिंजर समीकरण

जब श्रोडिंजर समीकरण को हाइड्रोजन परमाणु के लिए हल किया जाता है, तब उससे इलेक्ट्रॉन के संभव ऊर्जा-स्तर और उनके संगत तरंग-फलन (ψ) प्राप्त होते हैं। ये क्वांटित ऊर्जा-स्तर तथा उनके संगत तरंग-फलन श्रोडिंजर-समीकरण के हल के फलस्वरूप प्राप्त होते हैं। इन्हें तीन क्वांटम-संख्याओं– [मुख्य क्वांटम-संख्या n (principal quantum number) बिगंशी क्वांटम संख्या l (azimuthal quantum number) तथा चुंबकीय क्वांटम संख्या, m_l (magnetic quantum number)] द्वारा निर्दिष्ट किया जाता है, जो श्रोडिंजर समीकरण के प्राकृतिक हल से प्राप्त होती हैं। जब इलेक्ट्रॉन किसी ऊर्जा स्तर में रहता है, तो उसके संगत तरंग-फलन में इलेक्ट्रॉन के बारे में सही जानकारी विद्यमान होती है। तरंग-फलन एक गणितीय फलन है, जिसका मान परमाणु में इलेक्ट्रॉन के निर्देशांकों पर निर्भर करता है। इसका कोई भौतिक अर्थ नहीं होता है। हाइड्रोजन और उसके समान स्पीशीज़ के ऐसे एक इलेक्ट्रॉन तरंग-फलन को 'परमाणु कक्षक' (atomic orbitals) कहते हैं। इस प्रकार के एक इलेक्ट्रॉन स्पीशीज़ के तरंग-फलन एक इलेक्ट्रॉनी निकाय कहलाते हैं। एक परमाणु में किसी बिंदु पर इलेक्ट्रॉन पाए जाने की प्रायिकता उस बिंदु पर $|\psi|^2$ के समानुपाती होती है। हाइड्रोजन परमाणु के लिए क्वांटम यांत्रिकी द्वारा प्राप्त परिणाम हाइड्रोजन परमाणु के स्पेक्ट्रम के सभी पहलुओं की सफलतापूर्वक प्रागुक्ति (predict) करते हैं। इसके अतिरिक्त यह उन कुछ परिघटनाओं की भी व्याख्या करता है, जो बोर मॉडल द्वारा स्पष्ट नहीं की जा सकीं।

श्रोडिंजर समीकरण को बहु-इलेक्ट्रॉन परमाणुओं पर लागू करने पर प्रायः कुछ कठिनाइयाँ सामने आती हैं। बहु-इलेक्ट्रॉन परमाणुओं के लिए श्रोडिंजर समीकरण का यथार्थ (exact) हल नहीं दिया जा सकता था। इस कठिनाई को सन्निकटन विधि के उपयोग द्वारा दूर किया गया। कंप्यूटर से गणना करने पर पता चलता है कि हाइड्रोजन के अतिरिक्त अन्य परमाणुओं के कक्षक हाइड्रोजन परमाणु के कक्षकों से बहुत अधिक



इर्विन श्रोडिंजर ऑस्ट्रिया के भौतिकी के वैज्ञानिक थे। उन्होंने सन् 1910 में सैद्धांतिक भौतिकी में वियना विश्वविद्यालय से पी एच.डी. की उपाधि प्राप्त की। प्लांक के कहने पर सन् 1927 में उन्होंने बर्लिन विश्वविद्यालय में प्लांक के बाद कार्यभार सँभाला। सन् 1933 में हिटलर और नाजी की नीतियों के विरोध करने के कारण बर्लिन छोड़कर सन् 1936 में वापस ऑस्ट्रिया लौट गए। ऑस्ट्रिया पर जर्मनी के आक्रमण के बाद जब उन्हें आचार्य के पद से हटा दिया गया तब, वे आयरलैंड (डबलिन) चले गए, जहाँ वे सत्रह साल तक रहे। सन् 1933 में उन्हें पी.ए.एम. डिराक के साथ संयुक्त रूप से भौतिकी में नोबेल पुरस्कार से सम्मानित किया गया।

© BSTBPC WEB COPY NOT TO BE PUBLISHED

भिन्न नहीं हैं। इनमें मुख्य भिन्नता नाभिक में आवेश बढ़ने के कारण होती है। फलतः कक्षक कुछ छोटे हो जाते हैं। आप आगे के उपखंडों 2.6.4 तथा 2.6.5 में पढ़ेंगे कि बहु-इलेक्ट्रॉन परमाणुओं के कक्षकों की ऊर्जाएँ n और l क्वांटम संख्याओं पर निर्भर करती है, जबकि हाइड्रोजन परमाणु के कक्षकों की ऊर्जा केवल n क्वांटम संख्या पर निर्भर करती है।

परमाणु के क्वांटम यांत्रिकीय मॉडल के प्रमुख लक्षण

परमाणु का क्वांटम यांत्रिकीय मॉडल परमाणु-संरचना का वह चित्र है जो परमाणुओं पर श्रोडिंजर समीकरण लागू करने से प्राप्त होता है, परमाणु के क्वांटम यांत्रिकीय मॉडल के महत्त्वपूर्ण लक्षण निम्नलिखित हैं–

1. परमाणुओं में इलेक्ट्रॉनों की ऊर्जा क्वांटित होती है (अर्थात् इसके केवल कुछ विशेष मान ही हो सकते हैं)। उदाहरण के लिए–जब परमाणुओं में इलेक्ट्रॉन नाभिक से बंधे होते हैं।
2. इलेक्ट्रॉनों के तरंग जैसे गुणों के कारण क्वांटित इलेक्ट्रॉनिक ऊर्जा-स्तरों का अस्तित्व होता है और श्रोडिंजर तरंग समीकरण के अनुमत हल होते हैं।
3. किसी परमाणु में इलेक्ट्रॉन की सही स्थिति तथा सही वेग को एक साथ ज्ञात नहीं किया जा सकता है (हाइज़ेनबर्ग अनिश्चितता सिद्धांत) अतः किसी परमाणु में इलेक्ट्रॉन के पथ को सुनिश्चित ज्ञात नहीं किया जा सकता है। इसीलिए हम परमाणु के विभिन्न बिंदुओं पर इलेक्ट्रॉन के होने की प्रायिकता (probability) की संकल्पना के बारे में बात करते हैं। इसके बारे में आप आगे पढ़ेंगे।
4. **किसी परमाणु में इलेक्ट्रॉन के तरंग-फलन को 'परमाणु कक्षक' कहते हैं।** जब एक तरंग-फलन द्वारा किसी इलेक्ट्रॉन की व्याख्या की जाती है, तो हम यह कहते हैं कि इलेक्ट्रॉन उस कक्षक में उपस्थित है। चूँकि किसी इलेक्ट्रॉन के लिए बहुत से तरंग-फलन हो सकते हैं, अतः परमाणु में कई परमाणु कक्षक होते हैं। परमाणुओं की इलेक्ट्रॉनिक संरचना, इन 'एक इलेक्ट्रॉन कक्षक तरंग-फलनों' या कक्षकों पर ही आधारित है। प्रत्येक कक्षक में इलेक्ट्रॉन की ऊर्जा निश्चित होती है। किसी भी कक्षक में दो से अधिक इलेक्ट्रॉन नहीं रह सकते हैं। किसी बहु-इलेक्ट्रॉन परमाणु में ऊर्जा के बढ़ते हुए क्रम में विभिन्न कक्षकों में इलेक्ट्रॉन भरे जाते हैं। अतः बहु इलेक्ट्रॉन परमाणु में प्रत्येक इलेक्ट्रॉन के लिए एक कक्षक तरंग-फलन होता है, जो उस कक्षक का अभिलाक्षणिक होता है, जिसमें इलेक्ट्रॉन उपस्थित होता है। परमाणु में इलेक्ट्रॉन के बारे में सारी जानकारियाँ उसके कक्षक तरंग-फलन में उपस्थित होती है तथा क्वांटम यांत्रिकी के द्वारा से इस जानकारी को प्राप्त करना संभव हो पाता है।
5. किसी परमाणु में किसी बिंदु पर इलेक्ट्रॉन के उपस्थित होने की प्रायिकता उस बिंदु पर कक्षक तरंग-फलन के वर्ग के समानुपाती होती है, अर्थात् उस बिंदु पर $|\ ^2|$ **को प्रायिकता घनत्व** (probability density) कहा जाता है। यह हमेशा धनात्मक होता है। **किसी परमाणु के विभिन्न बिंदुओं पर $|\ ^2|$ के मान से नाभिक के चारों ओर उस क्षेत्र का पता लगाना संभव है, जहाँ पर इलेक्ट्रॉन के पाए जाने की संभावना अधिक होगी।**

2.6.1 कक्षक और क्वांटम संख्या

किसी परमाणु में कई कक्षक संभव होते हैं। गुणात्मक रूप में इन कक्षकों में उनके आकार, आकृति और अभिविन्यास के आधार पर अंतर किया जा सकता है। छोटे आकार के कक्षक का अर्थ यह है कि नाभिक के पास इलेक्ट्रॉन के पाए जाने की प्रायिकता अधिक है। इसी प्रकार, आकृति और अभिविन्यास यह बताते हैं कि इलेक्ट्रॉन पाए जाने की प्रायिकता किसी दूसरी दिशा की अपेक्षा एक दिशा में अधिक है। क्वांटम संख्याओं द्वारा परमाणु कक्षकों में अंतर किया जा सकता है। प्रत्येक कक्षक को तीन क्वांटम संख्याओं n, l और m_l द्वारा दर्शाया जाता है।

मुख्य क्वांटम संख्या 'n', एक धनात्मक पूर्णांक होती है। इसका मान 1,2,3..... आदि हो सकता है। मुख्य क्वांटम संख्या से कक्षक के आकार और काफी हद तक उसकी ऊर्जा के बारे में पता चलता है। हाइड्रोजन और उस जैसे निकायों (He^+, Li^{2+} आदि) के लिए यह अकेले ही कक्षक के आकार तथा ऊर्जा को निर्धारित करता है। मुख्य क्वांटम संख्या से कोश (shell) का भी पता चलता है। n का मान बढ़ने के साथ अनुमत कक्षकों की संख्या भी बढ़ती है। इसे 'n^2' द्वारा दिया जाता है। n के निश्चित दिए गए मान के लिए सभी कक्षक परमाणु का एक कोश बनाते हैं। उन्हें निम्नलिखित अक्षरों द्वारा दर्शाया जाता है–

n	= 1	2	3	4	.....
कोश	= K	L	M	N	.....

मुख्य क्वांटम संख्या भी बढ़ने के साथ कक्षा का आकार बढ़ता है। दूसरे शब्दों में, इलेक्ट्रॉन नाभिक से दूर स्थित होते हैं। चूँकि एक ऋणावेशित इलेक्ट्रॉन को धनावेशित नाभिक से दूर होने के लिए ऊर्जा की आवश्यकता होती है, अतः n के बढ़ने से कक्षक की ऊर्जा बढ़ेगी।

कक्षा, कक्षक एवं इनका महत्त्व

'कक्षा' तथा 'कक्षक' का अर्थ समान नहीं है। कक्षा (जिसे बोर ने प्रतिपादित किया) नाभिक के चारों ओर एक वृत्ताकार पथ होता है, जिसमें इलेक्ट्रॉन गति करता है। 'हाइज़ेनबर्ग के अनिश्चितता सिद्धांत' के अनुसार, इलेक्ट्रॉन के इस पथ का सही निर्धारण करना असंभव है। अत: बोर की कक्षाओं का कोई वास्तविक अर्थ नहीं है। इनके अस्तित्व को कभी भी प्रयोगों द्वारा दर्शाया नहीं जा सकता। इसके विपरीत कक्षक एक क्वांटम यांत्रिकीय धारणा है। यह परमाणु में किसी एक इलेक्ट्रॉन के तरंग-फलन का वर्णन करता है। इसे तीन क्वांटम संख्याओं (n, l, m_l) द्वारा प्रदर्शित किया जा सकता है। इसका मान इलेक्ट्रॉन के निर्देशांकों पर निर्भर करता है। वैसे तो ψ का कोई भौतिक अर्थ नहीं होता है, परंतु तरंग-फलन के वर्ग, अर्थात् $|\ |^2$ का भौतिक अर्थ होता है, किसी परमाणु के किसी बिंदु पर $|\ |^2$ उस बिंदु पर प्रायिकता घनत्व का मान देता है, प्रायिकता घनत्व $|\ |^2$ प्रति इकाई आयतन प्रायिकता का मान होता है। $|\ |^2$ और एक छोटे आयतन (जिसे आयतन अवयव कहा जाता है) का गुणनफल इलेक्ट्रॉन के उस आयतन के पाए जाने की प्रायिकता को व्यक्त करता है। (यहाँ कम आयतन लेने का एक कारण यह है कि $|\ |^2$ का मान त्रिविम में एक क्षेत्र से दूसरे क्षेत्र में बदला रहता है, परंतु एक छोटे आयन अवयव में इसके मान को स्थिर माना जा सकता है)। किसी दिए गए निश्चित आयतन में इलेक्ट्रॉन के पाए जाने की कुल प्रायिकता $|\ |^2$ और संगत आयतन अवयवों के समस्त गुणनफलों को जोड़कर प्राप्त की जा सकती है। इस प्रकार किसी कक्षक में संभावित इलेक्ट्रॉन वितरण का पता लगाना संभव है।

दिगंशीय क्वांटम संख्या *'l'* को कक्षक कोणीय संवेग (orbital angular momentum) या भौम क्वांटम संख्या (subsidiary quantum number) भी कहते हैं। यह कक्षक के त्रिविमीय आकार को परिभाषित करती है। n के दिए गए मान के लिए l के 0 से $n-1$ तक n मान हो सकते हैं। अर्थात् n के दिए गए मान के लिए l के मान $0,1,2,....(n-1)$ हो सकते हैं।

उदाहरणार्थ– जब $n=1$ होता है, तो l का केवल एक मान 0 होता है, $n=2$ के लिए l के संभव मान 0 तथा 1 हो सकते हैं $n=2$ के लिए l के संभव मान 0,1 और 2 होंगे।

प्रत्येक कोश में एक या अधिक उपकोश (sub-shells) या उप-स्तर (sub-levels) होते हैं। किसी मुख्य कोश में उपकोशों की संख्या n के बराबर होती है। उदाहरणार्थ– पहले कोश ($n=1$) में केवल एक उप-कोश होता है, जो $l=0$ के संगत होता है। इसी प्रकार ($n=2$) कोश में दो उप-कोश ($l=0, 1$) $n=3$ में तीन उप-कोश ($l=0, 1, 2$) होते हैं। n के अन्य मानों के लिए भी ऐसा लिखा जा सकता है। किसी कोश के उप-कोशों को दिगंशीय क्वांटम संख्या (l) द्वारा प्रदर्शित करते हैं। l के विभिन्न मानों के संगत उप-कोशों को निम्नलिखित चिह्नों द्वारा दर्शाया जाता है–

l के मान : 0 1 2 3 4 5 .....

उप-कोश के लिए

संकेतन (notation) s p d f g h .....

सारणी 2.4 में दी गई मुख्य क्वांटम संख्या के लिए l के संभव मान और संगत उप-कोशों के संकेतन दिए गए हैं।

सारणी 2.4 उप-कोश संकेतन

n	l	उपकोश संकेतन
1	0	1s
2	0	2s
2	1	2p
3	0	3s
3	1	3p
3	2	3d
4	0	4s
4	1	4p
4	2	4d
4	3	4f

चुंबकीय कक्षक क्वांटम संख्या (magnetic orbital quantum number) 'm_l' समन्वय अक्ष के संगत कक्षकों के त्रिविम अभिविन्यास के बारे में जानकारी देती है। किसी उप-कोश के लिए m_l के $2l+1$ मान संभव हैं। इन मानों को इस प्रकार दिया जाता है–

$m_l = -l, -(l-1), -(l-2) .... 0, 1 .... (l-2), (l-1), l$

अत: $l=0$ के लिए m_l का एक ही स्वीकृत मान 0 होता है, अर्थात् $2(0)+1=1$, एक s कक्षक होता है। $l=1$ के लिए m_l=–1,0,+1 हो सकता है [2[1]+1=3p

कक्षक]। $l = 2$ के लिए $m_l = -2, -1, 0, +1$ एवं $+2$ (पाँच d कक्षक) हो सकता है। स्मरणीय है कि m_l के मान l से और l के मान n से प्राप्त होते हैं।

किसी परमाणु में प्रत्येक कक्षक n,l और m_l मानों के समुच्चय द्वारा परिभाषित किया जाता है। अत: क्वांटम संख्याओं $n_l = 2, l = 1, m_l = 0$ द्वारा वर्णित कक्षक ऐसा कक्षक होता है, जो दूसरे कोश के p उपकोश में होता है। यहाँ दी जा रही तालिका में उप-कोश और उससे संबंधित कक्षकों की संख्या का संबंध दिया गया है–

l का मान	0	1	2	3	4	5
उप-कोश संकेतन	s	p	d	f	g	h
कक्षकों की संख्या	1	3	5	7	9	11

इलेक्ट्रॉन प्रचक्रण *'s'*: किसी परमाणु कक्षक के लिए चिह्नित तीनों क्वांटम संख्याओं को उसकी ऊर्जा, आकार और अभिविन्यास को परिभाषित करने में प्रयुक्त किया जा सकता है, लेकिन बहु-इलेक्ट्रॉन परमाणुओं में देखे गए रेखा-स्पेक्ट्रा की व्याख्या करने में ये क्वांटम संख्याएँ पर्याप्त नहीं हैं। इनमें कुछ रेखाएँ द्विक (दो रेखाएँ पास-पास) तथा कुछ रेखाएँ त्रिक (तीन रेखाएँ पास-पास) होती हैं। तीनों क्वांटम संख्याओं द्वारा अनुमानित ऊर्जा के अलावा यह कुछ और ऊर्जा-स्तरों की उपस्थिति का संकेत करता है।

सन् 1925 में जॉर्ज उहलेनबैक (George Uhlenback) और सैमुअल गाउटस्मिट (Samuel Goudsmit) ने एक चौथी क्वांटम संख्या की उपस्थिति प्रतिपादित की, जो 'इलेक्ट्रॉन-प्रचक्रण क्वांटम संख्या' ***(m_s)*** कहलाती है। एक इलेक्ट्रॉन अपने अक्ष पर ठीक वैसे ही प्रचक्रण करता है, जैसे सूर्य के चारों ओर चक्कर काटते समय पृथ्वी अपने अक्ष पर प्रचक्रण करती है। दूसरे शब्दों में– इलेक्ट्रॉन में आवेश और द्रव्यमान के अतिरिक्त नैज (intrinsic) प्रचक्रण कोणीय संवेग होता है। इलेक्ट्रॉन का कोणीय संवेग एक सदिश (vector) राशि है। इसके किसी चुने हुए अक्ष के सापेक्ष दो अभिविन्यास हो सकते हैं, जिन में प्रचक्रण क्वांटम संख्या ***m_s*** के द्वारा भेद किया जा सकता है। m_s का मान $+1/2$ या $-1/2$ हो सकता है। इन्हें इलेक्ट्रॉन की दो प्रचक्रण अवस्थाएं (spin states) भी कहते हैं। आम तौर पर वे तीरों ↑ (ऊपरी प्रचक्रण, spin up) और ↓ (निचला प्रचक्रण, spin down) द्वारा दर्शाए जाते हैं। विभिन्न m_s मान वाले दो इलेक्ट्रॉन (एक $+1/2$ और दूसरा $-1/2$) विपरीत प्रचक्रण वाले कहलाते हैं। किसी कक्षक में दो से अधिक इलेक्ट्रॉन नहीं हो सकते हैं; इन दोनों इलेक्ट्रॉनों का विपरीत प्रचक्रण होना चाहिए।

संक्षेप में हम यह कह सकते हैं कि चारों क्वांटम संख्याए निम्नलिखित जानकारियाँ देती हैं–

(i) ***n*** से कोश का बोध होता है। यह कक्षक का आकार और काफी हद तक ऊर्जा निर्धारित करता है।

(ii) n^{th} कोश में n उप-कोश होते हैं। ***l***, कक्षक की आकृति बताता है। प्रत्येक प्रकार के उप-कोश में $(2l+1)$ कक्षक होते हैं, अर्थात् प्रत्येक उप-कोश में एक s कक्षक ($l = 0$), तीन p कक्षक ($l = 1$) और $5d$ कक्षक ($l = 2$) हो सकते हैं। l कुछ हद तक बहु-इलेक्ट्रॉन परमाणु के कक्षक की ऊर्जा का भी निर्धारण करता है।

(iii) ***m_l*** कक्षक के अभिविन्यास को प्रदर्शित करता है। l के दिए गए किसी मान के लिए m_l के $(2l+1)$ मान होते हैं। इतनी ही संख्या प्रत्येक उप-कोश में कक्षकों की होती है। इसका अर्थ यह है कि कक्षकों की संख्या उनके अभिविन्यासों के तरीकों के बराबर होती है।

(iv) इलेक्ट्रॉन के प्रचक्रण के अभिविन्यास को m_s बताता है।

उदाहरण 2.17

मुख्य क्वांटम संख्या ($n = 3$) से संबंधित कक्षकों की कुल संख्या क्या होती है?

हल

$n = 3$ के लिए, l के 0, 1 तथा 2 मान संभव है। इसलिए एक 3s कक्षक होता है, जिसके लिए, $n = 3$, $l = 0$ और $m_l = 0$) होते हैं; तीन $3p$ कक्षक होते हैं, जिनके लिए ($n = 3$, $l = 1$ और $m_l = -1, 0, +1$) होते हैं। इसी प्रकार पाँच $3d$ कक्षक होते हैं, जिनके लिए $n = 3$, $l = 2$ और $m_l = -2, -1, 0, +1, +2$ हो सकता है। इसलिए कक्षकों की कुल संख्या $= 1 + 3 + 5 = 9$ कक्षकों की संख्या $= n^2$, अर्थात् $3^2 = 9$ संबंध का उपयोग करके भी समान मान प्राप्त किए जा सकते हैं।

उदाहरण 2.18

s, p, d, f संकेतन का प्रयोग करके निम्नलिखित क्वांटम संख्याओं वाले कक्षक के बारे में बताइए–

(क) $n = 2, l = 1$ (ख) $n = 4, l = 0,$

(ग) $n = 5, l = 3,$ (घ) $n = 3, l = 2$

© BSTBPC NOT TO BE PUBLISHED

हल

	n	l	कक्षक
(क)	2	1	$2p$
(ख)	4	0	$4s$
(ग)	5	3	$5f$
(घ)	3	2	$3d$

2.6.2 परमाणु कक्षकों की आकृतियाँ

किसी परमाणु में इलेक्ट्रॉन के कक्षक तरंग-फलन अथवा ψ का अपने आपमें कोई भौतिक अर्थ नहीं होता है। यह केवल इलेक्ट्रॉन के निर्देशांकों (coordinates) का गणितीय फलन होता है। यद्यपि विभिन्न कक्षकों के लिए r (नाभिक से दूरी) के फलन के रूप में संगत तरंग-फलन आरेख भिन्न होते हैं। [चित्र 2.12 (क) 1s (n = 1, l = 0) तथा 2s (n = 2, l = 0) कक्षकों के इस प्रकार के आरेख को व्यक्त करता है।]

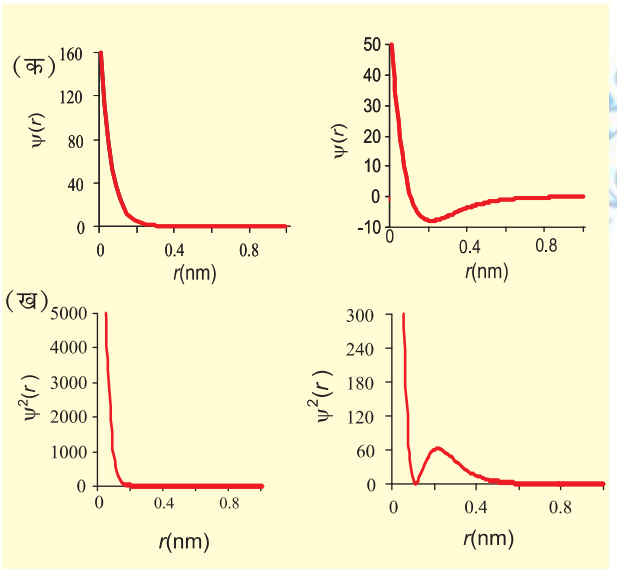

चित्र 2.12 *(क) कक्षकीय तरंग-फलन $\psi(r)$ के आरेख (ख) 1s एवं 2s कक्षकों के लिए r के फलन के रूप में प्रायिकता घनत्व $\psi^2(r)$ में परिवर्तन के आरेख।*

जर्मन भौतिक विज्ञानी मेक्स बोर्न ने बताया कि किसी बिंदु पर तरंग-फलन का वर्ग (अर्थात् ψ^2) उस बिंदु पर इलेक्ट्रॉन के घनत्व की प्रायिकता को दर्शाता है। [चित्र 2.12 (ख) में 1s तथा 2s कक्षक के लिए ψ^2 के परिवर्तन को r के फलन के रूप में दर्शाया गया है। यहाँ आप देख सकते हैं कि 1s तथा 2s के वक्र भिन्न हैं। यह देखा जा सकता है कि 1s कक्षक के लिए प्रायिकता घनत्व नाभिक पर अधिकतम है, जो नाभिक से दूर जाने पर घटता जाता है। दूसरी ओर, 2s कक्षक के लिए प्रायिकता घनत्व पहले तेजी से शून्य तक घटता है, फिर बढ़ना प्रारंभ होता है। जैसे-जैसे r का मान बढ़ता है, वैसे-वैसे एक लघु अधिकतम (small maxima) के पश्चात् यह पुनः शून्य के निकट तक घटता है। वह क्षेत्र, जहाँ यह प्रायिकता घनत्व शून्य हो जाता है, 'नोडल सतह' या 'नोड' कहलाता है। सामान्यतः ns कक्षक के (n –1) नोड होते हैं, अर्थात् मुख्य क्वांटम संख्या n के साथ नोडों की संख्या बढ़ जाती है। दूसरे शब्दों में, 2s कक्षक के लिए नोडों की संख्या एक तथा 3s के लिए दो होती है। आगे के कक्षकों के लिए भी यह इसी प्रकार बढ़ती है। ये प्रायिकता घनत्व परिवर्तन आवेश अभ्र के पदों में समझे जा सकते हैं (चित्र 2.13 क)। इन चित्रों में बिंदुओं (dots) का घनत्व उस क्षेत्र में इलेक्ट्रॉन प्रायिकता घनत्व दर्शाता है।

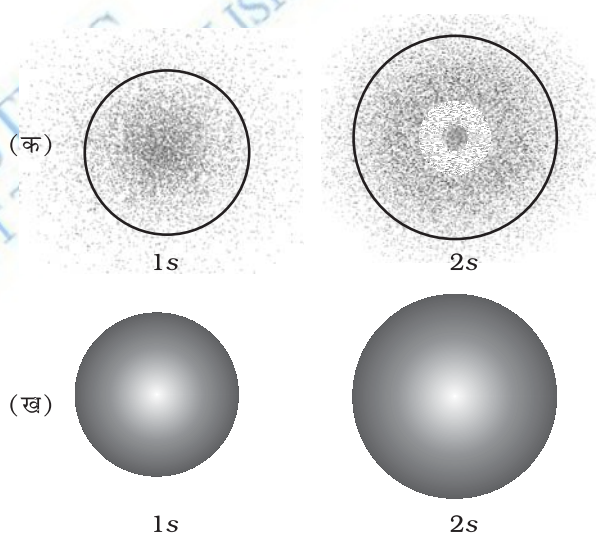

चित्र 2.13 *(क) 1s एवं 2s परमाणु कक्षकों के लिए प्रायिकता घनत्त्व आरेख बिंदुओं का घनत्व उस क्षेत्र में इलेक्ट्रॉन पाए जाने के प्रायिकता-घनत्व को दर्शाता है। (ख) 1s एवं 2s कक्षकों के लिए परिसीमा-सतह आरेख*

कक्षकों की आकृति को विभिन्न कक्षकों के लिए स्थिर प्रायिकता घनत्व वाले सीमा-सतह आरेखों (boundary surface diagrams) द्वारा काफी सही ढंग से प्रदर्शित किया जा सकता है। इस निरूपण में किसी कक्षक के लिए एक ऐसी परिसीमा-सतह या परिपृष्ठ (contour surface) को आरेखित किया जाता है, जिसपर प्रयिकता घनत्व $|\psi|^2$ का मान स्थिर है। सैद्धांतिक रूप में, किसी कक्षक के लिए ऐसे कई

परिसीमा-सतह आरेख संभव होते हैं, परंतु किसी दिए गए कक्षक के लिए स्थिर प्रायिकता घनत्व* वाले केवल वे परिसीमा-सतह आरेख ही कक्षक की आकृति के अच्छे निरूपण माने जाते हैं, जिनके द्वारा निर्धारित क्षेत्र या आयतन में इलेक्ट्रॉन के पाए जाने की प्रायिकता काफी अधिक (जैसे 90%) होती है। $1s$ एवं $2s$ कक्षकों के लिए परिसीमा-सतह आरेखों को चित्र 2.13(ख) में दर्शाया गया है। आप पूछ सकते हैं कि हम ऐसा परिपृष्ठ आरेख क्यों नहीं बनाते हैं, जिसमें इलेक्ट्रॉन पाए जाने की प्रायिकता 100% हो? इसका उत्तर यह है कि नाभिक से किसी निश्चित दूरी पर भी इलेक्ट्रॉन के पाए जाने की कुछ प्रायिकता अवश्य होती है, भले ही उसका मान बहुत कम क्यों न हो। इसलिए निश्चित आकार के ऐसे परिसीमा-सतह आरेखों को बनाना संभव नहीं है, जिनके अंदर इलेक्ट्रॉन के पाए जाने की प्रायिकता 100% हो। s कक्षक के लिए परिसीमा सतह का आरेख गोलीय होता है, जिसके केंद्र में नाभिक है।

दो विमाओं में यह गोला एक वृत्त की तरह दिखाई देता है। इस गोले की परिसीमा के अंदर इलेक्ट्रॉन के पाए जाने की प्रायिकता 90% होती है।

इस प्रकार $1s$ तथा $2s$ कक्षक गोलीय आकृति के हैं। वास्तव में सभी s– कक्षक गोलीय सममिति के होते हैं। ऐसा भी देखा गया है कि n बढ़ने के साथ s कक्षक का आकार भी बढ़ जाता है, अर्थात् $4s > 3s > 2s > 1s$ और मुख्य क्वांटम संख्या के बढ़ने के साथ इलेक्ट्रॉन नाभिक से दूर हो जाता है।

चित्र 2.14 में तीन $2p$ कक्षकों $(l = 1)$ के परिसीमा-सतह आरेख दिखाए गए हैं। इन आरेखों में नाभिक मूल बिंदु पर होता है यहाँ s कक्षकों के विपरीत, परिसीमा- सतह आरेख गोलाकार नहीं होते हैं। इसकी अपेक्षा प्रत्येक p- के दो भाग होते हैं, जिन्हें 'पालियाँ' (lobes) कहा जाता है। ये नाभिक से गुज़रने वाले तल के दोनों ओर स्थित हैं। जहाँ दोनों पालियाँ एक दूसरे को स्पर्श करती हैं, उस तल पर प्रायिकता घनत्व फलन शून्य होता है। तीनों p कक्षकों की आकृति और ऊर्जा एक समान होती है। ये कक्षक केवल पालियों के अभिविन्यासों में आपस में भिन्न होते हैं, क्योंकि ये पालियाँ x, y या z अक्षों की ओर निर्दिष्ट मानी जा सकती हैं, इसलिए उन्हें $2p_x$ $2p_y$ तथा $2p_z$ द्वारा दर्शाया जाता है। यहाँ यह उल्लेखनीय है कि m_l को मानों (−1, 0 और +1) तथा x, y और z अक्षों के बीच कोई संबंध नहीं है। हमारे लिए यह याद रखना पर्याप्त है कि चूँकि m_l के तीन संभव मान होते हैं, अत: तीन p कक्षक होंगे, जिनके अक्ष आपस में एक दूसरे के लंबवत होते हैं। s कक्षकों की तरह, p कक्षकों के लिए भी मुख्य क्वांटम संख्या के बढ़ने के साथ कक्षकों का आकार और ऊर्जा बढ़ते हैं। अत: विभिन्न p कक्षकों का आकार और ऊर्जा $4p > 3p > 2p$ क्रम में होते हैं। इसके अतिरिक्त s कक्षकों के समान, p कक्षकों के प्रायिकता- घनत्व फलन भी शून्य से गुजरते हैं। नोडों की संख्या $n-2$ द्वारा दी जाती है, अर्थात् $3p$ कक्षक के लिए त्रिज्य नोड एक, $4p$ के लिए दो और इससे आगे भी इसी क्रम में होते हैं।

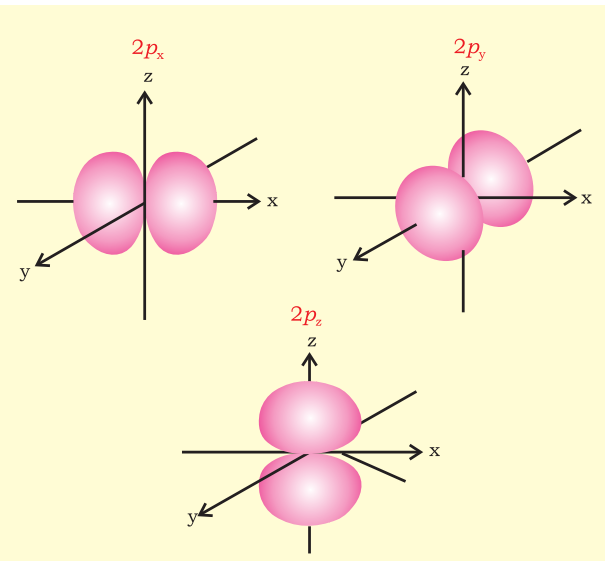

चित्र 2.14 तीन 2p कक्षकों के परिसीमा-सतह आरेख

$l = 2$ के लिए कक्षक, d कक्षक कहलाता है और मुख्य क्वांटम संख्या (n) का मान 3 होता है, क्योंकि l का मान $n - 1$ से अधिक नहीं हो सकता है। इसमें m_l के पाँच मान होते हैं (−2, −1, 0 + 1 और +2) और इस प्रकार पाँच d कक्षक होते हैं। d कक्षकों के परिसीमा-सतह आरेख चित्र 2.15 में दिखाए गए हैं।

पाँच d कक्षकों को d_{xy}, d_{yz}, d_{xz}, $d_{x^2-y^2}$ तथा d_{z^2} कहा जाता है। पहले चार d कक्षकों की आकृति एक जैसी होती है और पाँचवें d_z^2 की भिन्न होती है, लेकिन पाँचों कक्षकों की ऊर्जा बराबर होती है। $n > 3$ वाले d कक्षकों $(4d, 5d, ---)$ की समान आकृतियाँ होती हैं, लेकिन ऊर्जा तथा आकार भिन्न होते हैं।

*यदि प्रायिकता घनत्व $|\ |^2$ एक दी हुई सतह पर स्थायी है। तो उस सतह पर $|\ |$ भी स्थायी होगा। $|\ |^2$ और $|\ |$ के लिए परिसीमा-सतहें एक समान होंगी।

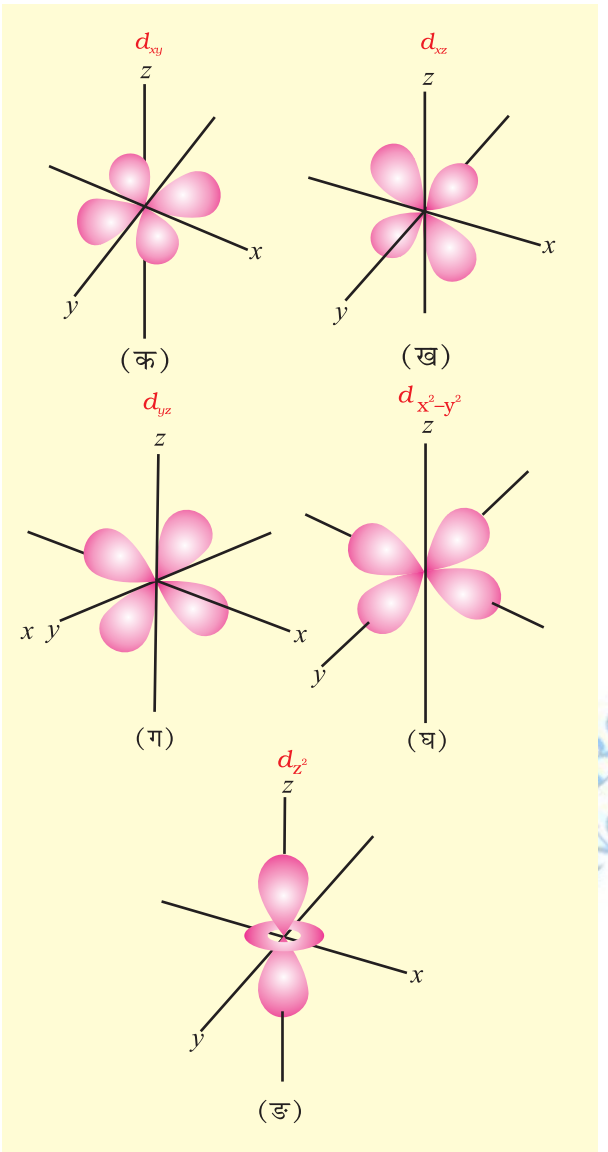

चित्र 2.15 *पाँच 3d कक्षकों के परिसीमा-सतह आरेख*

त्रिज्य नोडों (अर्थात् जब प्रायिकता-घनत्व फलन शून्य हो) के अलावा *np* और *nd* कक्षकों के लिए प्रायिकता-घनत्व फलन तल पर शून्य होते हैं। यह नाभिक से गुजरते हुए तल पर निर्भर करता है। उदाहरण के लिए, p_z कक्षक में xy तल नोडल तल है। d_{xy} कक्षक में नाभिक से गुजरते हुए और z- अक्ष पर xy तल को भेदते हुए दो नोडल तल होते हैं। इन्हें 'कोणीय नोड' कहा जाता है और कोणीय नोडों की संख्या *l* से दी जाती है, अर्थात् *p* कक्षकों के लिए एक, *d* कक्षकों के लिए दो तथा अन्य के लिए इसी प्रकार कोणीय नोड होते हैं। **नोडों की कुल संख्या (*n* –1), अर्थात् कोणीय नोड *l* और त्रिज्य नोड (*n*–*l*–1) का योग होगी**

2.6.3 कक्षकों की ऊर्जाएँ

हाइड्रोजन परमाणु में इलेक्ट्रॉन की ऊर्जा केवल मुख्य क्वांटम संख्या द्वारा निर्धारित होती है। अत: कक्षकों की ऊर्जा निम्नलिखित क्रम में बढ़ती है:–

$$1s < 2s = 2p < 3s = 3p = 3d < 4s = 4p = 4d = 4f < \ldots\ldots\ldots \quad (2.24)$$

और इन्हें चित्र 2.16 में दर्शाया गया है। हालाँकि *2s* और *2p* कक्षकों की आकृतियाँ भिन्न होती हैं, फिर भी इन दोनों कक्षकों *2s* या *2p* में उपस्थिति इलेक्ट्रॉन की ऊर्जा बराबर होगी। समान ऊर्जा वाले कक्षकों को **समभ्रंश** (degenerate) कहा जाता है। जैसा पहले बताया गया है, हाइड्रोजन परमाणु में *1s* कक्षक सबसे स्थायी स्थिति के संगत होता है। यह **तलस्थ अवस्था** (ground state) कहलाती है। इस कक्षक में उपस्थित इलेक्ट्रॉन नाभिक द्वारा सर्वाधिक प्रबलता से आकर्षित रहता है हाइड्रोजन परमाणु में 2*s*, 2*p* या उच्च कक्षकों में उपस्थित इलेक्ट्रॉन को **उत्तेजित अवस्था** (excited state) में कहा जाता है।

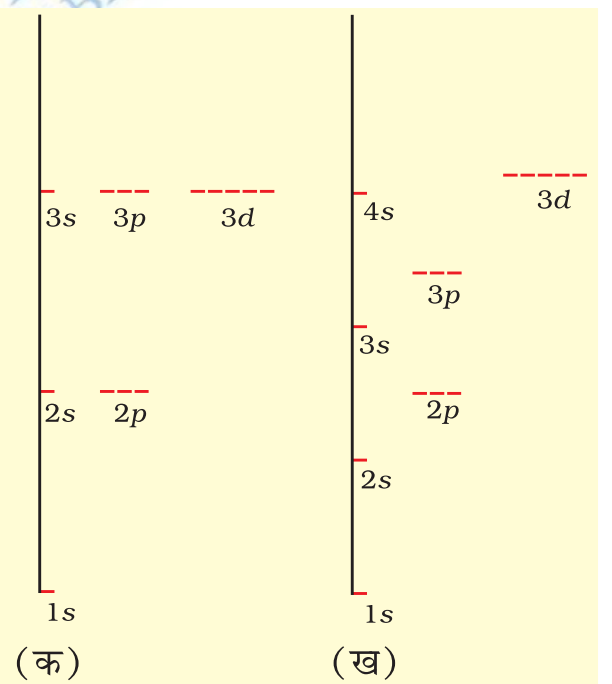

चित्र 2.16 *(क) हाइड्रोजन परमाणु और (ख) बहु-इलेक्ट्रॉनी परमाणुओं के कुछ इलेक्ट्रॉन कोशों के ऊर्जा-स्तर आरेख। ध्यान दीजिए कि हाइड्रोजन परमाणु के लिए समान मुख्य क्वांटम-संख्या हेतु भिन्न-भिन्न द्विगंशी क्वांटम संख्या होने पर भी उनकी ऊर्जा समान होती है। बहु-इलेक्ट्रॉन परमाणुओं में समान मुख्य क्वांटम संख्या वाले कक्षकों की ऊर्जा भिन्न द्विगंशी क्वांटम संख्या वाले कक्षकों के लिए भिन्न होती है।*

हाइड्रोजन परमाणु के विपरीत एक बहु इलेक्ट्रॉन परमाणु के इलेक्ट्रॉन की ऊर्जा केवल अपनी मुख्य क्वांटम संख्या (कोश) पर ही नहीं, बल्कि द्विगंशी क्वांटम संख्या (उप-कोश) पर भी निर्भर करती है। अर्थात् दी गई मुख्य क्वांटम संख्या के लिए $s, p, d, f \ldots$ की ऊर्जाएं भिन्न होती हैं। उप-कोशों में भिन्न ऊर्जाओं का कारण बहु-इलेक्ट्रॉन परमाणुओं में इलेक्ट्रॉनों के आपस में प्रतिकर्षण की उपस्थिति है। हाइड्रोजन परमाणु में ऋणावेशित इलेक्ट्रॉन और धनावेशित नाभिक के बीच आकर्षण एकमात्र विद्युत् अन्योन्य क्रिया है। बहु-इलेक्ट्रॉन परमाणुओं में इलेक्ट्रॉन तथा नाभिक के बीच आकर्षण के अलावा परमाणु में उपस्थित एक इलेक्ट्रॉन का दूसरे से प्रतिकर्षण भी होता है। इस प्रकार एक बहु-इलेक्ट्रॉन परमाणु में इलेक्ट्रॉन का स्थायित्व प्रतिकर्षण की तुलना में अधिक आकर्षण अन्योन्य क्रियाएं हैं। सामान्यत: बाहरी कोश में उपस्थित इलेक्ट्रॉन के अंदर के इलेक्ट्रॉनों से प्रतिकर्षण अन्योन्य क्रिया अधिक महत्त्वपूर्ण है। दूसरी ओर नाभिक में धनावेश (Ze) बढ़ने के कारण इलेक्ट्रॉनों में आकर्षण अन्योन्य क्रियाएँ बढ़ती हैं। अंदर कोशों में उपस्थित इलेक्ट्रॉनों के कारण बाहरी कोश का इलेक्ट्रॉन नाभिक के आवेश (Ze) को पूरी तरह महसूस नहीं कर पाता है, अर्थात् आंतरिक इलेक्ट्रॉनों द्वारा नाभिक के धनावेश पर आंशिक आवरण के कारण इस आवेश का प्रभाव पूरा नहीं पड़ता। इसे आंतरिक इलेक्ट्रॉनों द्वारा बाह्य इलेक्ट्रॉनों का नाभिक से **परिरक्षण** (shielding) कहा जाता है और नाभिक का कुल धनावेश, जो इलेक्ट्रॉन पर प्रभावी होता है। **प्रभावी नाभिकीय आवेश** $Z_{\text{eff}}e$ (effective nuclear charge) कहलाता है। आंतरिक इलेक्ट्रॉनों द्वारा परिरक्षण के बावजूद नाभिकीय आवेश में वृद्धि के साथ बाह्य इलेक्ट्रॉन द्वारा महसूस किया आकर्षण-बल बढ़ जाता है। दूसरे शब्दों में, नाभिक और इलेक्ट्रॉन के बीच अन्योन्य क्रिया की ऊर्जा (अर्थात् कक्षक ऊर्जा) परमाणु संख्या (Z) के बढ़ने के साथ घट (अर्थात् अधिक ऋणात्मक हो) जाती है।

आकर्षण एवं प्रतिकर्षण, दोनों अन्योन्य क्रियाएं कोश के आकार तथा उसमें उपस्थित कक्षक की आकृति (जिसमें इलेक्ट्रॉन उपस्थित है) पर निर्भर करती हैं। उदाहरण के लिए– गोलाकार आकृति के कारण, s कक्षक में उपस्थित इलेक्ट्रान p कक्षक में उपस्थित इलेक्ट्रान की तुलना में बाहरी इलेक्ट्रानों का नाभिक से परिरक्षण अधिक प्रभावी तरीके से करता है। इसी प्रकार, p कक्षक में उपस्थित इलेक्ट्रान d कक्षकों की तुलना में अधिक परिरक्षण करते हैं, चाहे ये सभी कक्षक एक ही कोश में हैं। इसके अलावा एक ही कोश में गोलाकार आकृति के कारण s कक्षक इलेक्ट्रॉन p कक्षक इलेक्ट्रॉन की तुलना में और p कक्षक इलेक्ट्रॉन d कक्षक इलेक्ट्रॉन की तुलना में नाभिक के पास अधिक समय व्यतीत करता है। दूसरे शब्दों में– किसी एक कोश (मुख्य क्वांटम संख्या) के लिए दिगंशी क्वांटम संख्या (l) बढ़ने के साथ इलेक्ट्रान द्वारा महसूस किया Z_{eff} घट जाता है, अर्थात् p कक्षक की तुलना में s कक्षक और d की तुलना में p कक्षक नाभिक से अधिक दृढ़ता से बंधा रहता है। p कक्षक के इलेक्ट्रान की तुलना में s कक्षक के इलेक्ट्रान की और d कक्षक के इलेक्ट्रान की तुलना में p कक्षक के इलेक्ट्रान की ऊर्जा कम होती है, इत्यादि। चूँकि नाभिक के प्रति परिरक्षण की मात्रा भिन्न-भिन्न कक्षकों के लिए भिन्न होती है। अत: एक ही कोश (मुख्य क्वांटम संख्या) के ऊर्जा स्तरों का विपाटन (splitting) हो जाता है, अर्थात् जैसा पहले बताया जा चुका है, कक्षक में उपस्थित इलेक्ट्रानों की ऊर्जा n तथा l के मानों पर निर्भर करती है। गणितीय रूप से n और l पर कक्षकों की ऊर्जाओं की निर्भरता काफी जटिल होती है, लेकिन n तथा l के संयुक्त मान के लिए एक सरल नियम है। $(n+l)$ का मान जितना निम्न होगा कक्षक की ऊर्जा भी उतनी ही कम होगी। यदि दो कक्षकों के लिए $(n+l)$ का मान समान हो, तो निम्न n के मान वाले कक्षक की ऊर्जा निम्न होगी। सारणी 2.5 में $(n+l)$ नियम दिया गया है और चित्र 2.16 में बहु-इलेक्ट्रॉन परमाणुओं के ऊर्जा दर्शाई गई है। ध्यान देने योग्य बात यह भी है कि किसी विशेष कोश के विभिन्न उप कोशों (बहु-इलेक्ट्रॉन परमाणुओं में) की ऊर्जाएं भिन्न-भिन्न होती हैं। हालाँकि हाइड्रोजन परमाणु में इनकी ऊर्जाएं समान होती हैं। अंत में यह बताना उचित होगा कि परमाणु संख्या (Z_{eff}) बढ़ने के साथ समान उप-कोशों वाले कक्षकों की ऊर्जाएं कम होती जाती हैं। उदाहरण के लिए– हाइड्रोजन परमाणु के $2s$ कक्षक की ऊर्जा, लीथियम के $2s$ कक्षक की तुलना में अधिक होगी और सोडियम की तुलना में लीथियम की ऊर्जा अधिक होगी। यही क्रम आगे भी जारी रहेगा। जैसे–

$$E_{2s}(\text{H}) > E_{2s}(\text{Li}) > E_{2s}(\text{Na}) > E_{2s}(\text{K}).$$

2.6.4 परमाणु में कक्षकों का भरा जाना

विभिन्न परमाणुओं के कक्षकों में इलेक्ट्रॉन ऑफबाऊ नियम के अनुसार भरे जाते हैं। 'ऑफबाऊ नियम', पाउली अपवर्जन सिद्धांत (Pauli's exclusion principle), हुंड के अधिकतम बहुकता नियम (Hund's maximum multiplicity rule) और कक्षकों की आपेक्षिक ऊर्जाओं पर आधारित है।

ऑफबाऊ नियम

ज़र्मन भाषा में 'ऑफबाऊ' शब्द का अर्थ है– 'निर्माण होना' 'कक्षकों का निर्माण' होने का अर्थ है– कक्षकों का इलेक्ट्रॉनों द्वारा भरा जाना। इस नियम के अनुसार– **'परमाणुओं की**

© BSTBPC NOT TO BE PUBLISHED

तलस्थ अवस्था में, कक्षकों को उनकी ऊर्जा के बढ़ते क्रम में भरा जाता है।

सारणी 2.5 **(n + l)** नियम के आधार पर बढ़ती ऊर्जा के साथ कक्षकों की व्यवस्था

कक्षक	n का मान	l का मान	n + l का मान	
1s	1	0	1 + 0 = 1	
2s	2	0	2 + 0 = 2	
2p	2	1	2 + 1 = 3	2p (n=2) की ऊर्जा 3s से कम होती है
3s	3	0	3 + 0 = 3	3s (n=3)
3p	3	1	3 + 1 = 4	3p (n =3) की ऊर्जा 4s से कम होती है
4s	4	0	4 + 0 = 4	4s (n =4)
3d	3	2	3 + 2 = 5	3d (n =3) की ऊर्जा 4p से कम होती है
4p	4	1	4 + 1 =5	4p (n =4)

दूसरे शब्दों में– इलेक्ट्रॉन पहले सबसे कम ऊर्जा वाले उपलब्ध कक्षक में जाते हैं और उनको भरने के बाद उच्च ऊर्जा वाले कक्षकों को भरते हैं।

कक्षकों की ऊर्जा का बढ़ता क्रम, अर्थात् उनको भरे जाने का क्रम इस प्रकार है–

1*s*, 2*s*, 2*p*, 3*s*, 3*p*, 4*s*, 3*d*, 4*p*, 5*s*, 4*d*, 5*p*, 4*f*, 5*d*, 6*p*, 7*s*...

इस क्रम को चित्र 2.17 में दिखाई गई विधि द्वारा याद किया जा सकता है। सबसे ऊपर से शुरू करते हुए तीर की दिशा कक्षकों के भरने का क्रम दर्शाती है।

पाउली अपवर्जन सिद्धांत

विभिन्न कक्षकों में भरे जाने वाले इलेक्ट्रॉनों की संख्या अपवर्जन सिद्धांत द्वारा नियंत्रित होती है, जिसे ऑस्ट्रिया के वॉल्फगंग पाउली नामक एक वैज्ञानिक ने दिया था। इस सिद्धांत के अनुसार–

किसी परमाणु में उपस्थित दो इलेक्ट्रॉनों की चारों क्वांटम संख्याएँ एक समान नहीं हो सकती हैं। पाउली अपवर्जन सिद्धांत को इस प्रकार भी कहा जा सकता है–

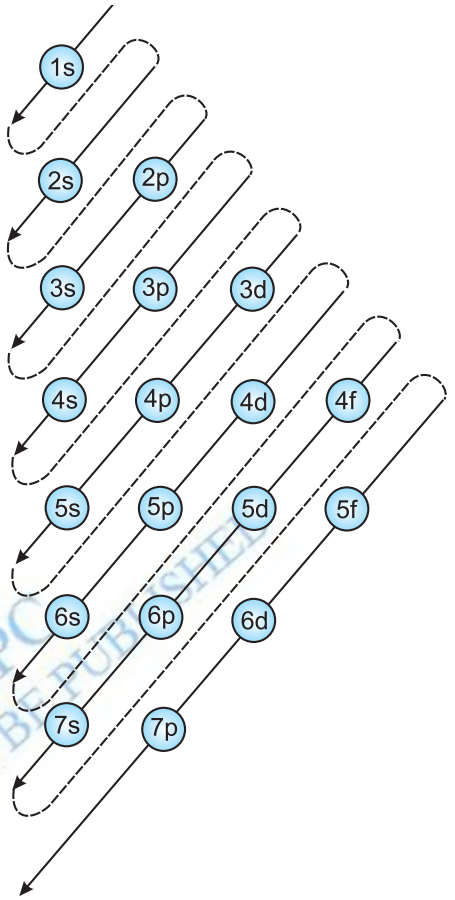

चित्र 2.17 कक्षकों को भरने का क्रम

"केवल दो इलेक्ट्रॉन एक कक्षक में रह सकते हैं। इन इलेक्ट्रॉनों के प्रचक्रण विपरीत होने चाहिए।" इसका अर्थ है कि दो इलेक्ट्रॉनों की तीन क्वांटम संख्याएँ, n,l तथा m_l एक समान हो सकती हैं, लेकिन उनकी प्रचक्रण क्वांटम संख्या भिन्न होनी चाहिए। किसी कक्षक के इलेक्ट्रॉनों में पाउली अपवर्जन सिद्धांत द्वारा लगाया गया नियंत्रण किसी उप-कोश में उपस्थित इलेक्ट्रॉनों की क्षमता की गणना करने में सहायक होता है। उदाहरण के लिए, 1*s* में एक कक्षक होता है। इस प्रकार 1*s* उप-कोश में इलेक्ट्रॉनों की अधिकतम संख्या दो हो सकती है। *p* तथा *d* उप-कोशों में अधिकतम संख्या क्रमशः 6 तथा 10 हो सकती है, इत्यादि। इसे संक्षेप इस प्रकार कहा जा सकता है–

मुख्य क्वांटम संख्या *n* वाले कोश में इलेक्ट्रॉनों की संख्या $2n^2$ के बराबर होती है।

हुंड का अधिकतम बहुकता का नियम

यह नियम एक ही उप-कोश से संबंधित कक्षकों को भरने के लिए लागू किया जाता है। इन कक्षकों की ऊर्जा बराबर होती

WEB COPY OF BSTBPC NOT TO BE PUBLISHED

है। उन्हें 'समभ्रंश कक्षक' (degenerate orbitals) कहते हैं। यह नियम इस प्रकार है: **एक ही उप-कोश के कक्षकों में इलेक्ट्रॉनों का युग्मन तब तक नहीं होता है, जब तक उस उप-कोश के सभी कक्षकों में एक-एक इलेक्ट्रॉन न आ जाए।**

क्योंकि तीन p, पाँच d तथा सात f कक्षक होते हैं, अत: p, d और f कक्षकों में युग्मन क्रमश: चौथे, छठवें और आठवें इलेक्ट्रॉन के भरने पर प्रारंभ होगा। यह देखा गया है कि आधे भरे और पूरे भरे समभ्रंश कक्षकों का स्थायित्व उनकी सममिति के कारण अधिक होता है देखें (खंड 2.6.6)।

2.6.5 परमाणुओं का इलेक्ट्रॉनिक विन्यास

परमाणुओं के कक्षकों में इलेक्ट्रॉनों के वितरण को उनका **इलेक्ट्रॉनिक विन्यास** (electronic configuration) कहा जाता है। यदि विभिन्न परमाणु कक्षकों में इलेक्ट्रॉनों के भरे जाने से संबंधित मूल नियमों को ध्यान में रखा जाए, तो विभिन्न परमाणुओं के इलेक्ट्रॉनिक विन्यासों को आसानी से लिखा जा सकता है।

परमाणुओं के इलेक्ट्रॉनिक विन्यास को दो तरीके से निरूपित किया जा सकता है। वे हैं–

(i) $s^a\ p^b\ d^c$ ..... संकेतन

(ii) कक्षक-आरेख



पहले संकेतन में उप-कोश को संगत अक्षर चिह्न से निरूपित किया जाता है और उप-कोश में उपस्थित इलेक्ट्रॉनों की संख्या को मूर्धांक a, b, c ..... इत्यादि के रूप में दर्शाते हैं। विभिन्न कोशों के लिए निरूपित समान उप-कोश का विभेदन उसके संगत उप-कोश के सामने मुख्य क्वांटम संख्या को लिखकर किया जाता है। दूसरे संकेतन उप-कोश के प्रत्येक कक्षक को एक बॉक्स द्वारा दर्शाया जाता है और इलेक्ट्रॉन के धन-प्रचक्रण को ↑ जैसे तीर और ऋण-प्रचक्रण को ↓ जैसे तीर से दर्शाया जा सकता है। पहले संकेतन की तुलना में दूसरे संकेतन का लाभ यह है कि इससे चारों क्वांटम संख्याओं को दर्शाया जा सकता है।

हाइड्रोजन परमाणु में केवल एक ही इलेक्ट्रॉन होता है, जो सबसे कम ऊर्जा वाले कक्षक में जाता है, जिसे $1s$ कक्षक कहते हैं। अत: हाइड्रोजन परमाणु का इलेक्ट्रॉनिक विन्यास $1s^1$ होता है। इसका अर्थ यह है कि इसके $1s$ कक्षक में एक इलेक्ट्रॉन होता है। हीलियम (He) का दूसरा इलेक्ट्रॉन भी $1s$ कक्षक में जा सकता है। अत: हीलियम का इलेक्ट्रॉनिक विन्यास $1s^2$ होता है। जैसा ऊपर बताया गया है– दो इलेक्ट्रॉन एक-दूसरे से विपरीत प्रचक्रण में होते हैं। उसे कक्षक आरेख से देखा जा सकता है।



लिथियम (Li) का तीसरा इलेक्ट्रॉन पाउली अपवर्जन सिद्धांत के कारण $1s$ कक्षक में नहीं जा सकता है। अत: वह अगले कक्षक $2s$ में जाता है। इस प्रकार लिथियम का इलेक्ट्रॉनिक विन्यास $1s^2\,2s^1$ होगा।

$2s$ कक्षक में एक इलेक्ट्रॉन और आ सकता है। अत: बेरिलियम परमाणु का विन्यास $1s^2\,2s^2$ होता है (सारणी 2.6 में तत्त्वों के परमाणुओं के इलेक्ट्रॉनिक विन्यासों को देखें)।

अगले छ: तत्त्वों में $2p$ कक्षक एक-एक करके भरे जाते हैं। अत: इन तत्त्वों का इलेक्ट्रॉनिक विन्यास इस प्रकार होता है–

बोरॉन (B, $1s^2 2s^2 2p^1$),

कार्बन (C, $1s^2 2s^2 2p^2$),

नाइट्रोजन (N, $1s^2 2s^2 2p^3$),

ऑक्सीजन (O, $1s^2 2s^2 2p^4$),

फ्लुओरीन (F, $1s^2 2s^2 2p^5$),

निऑन (Ne, $1s^2 2s^2 2p^6$).

$2p$ कक्षकों को भरने की प्रक्रिया निऑन पर जाकर समाप्त होती है। इन तत्त्वों के कक्षा-चित्र इस प्रकार दर्शाए जा सकते हैं–

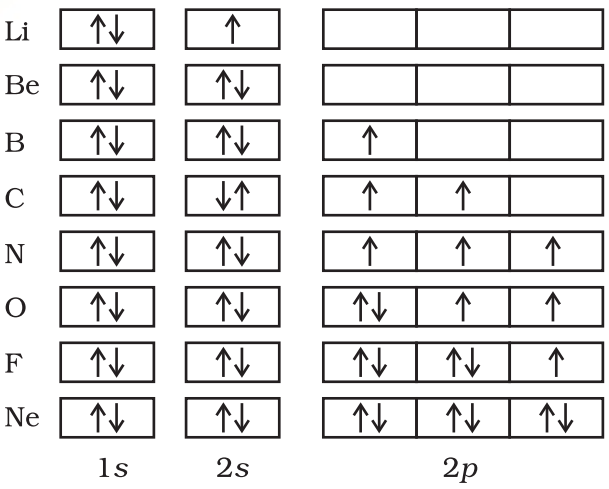

सोडियम (Na, $1s^2 2s^2 2p^6 3s^1$) से ऑर्गन (Ar, $1s^2\ 2s^2\ 2p^6\ 3s^2\ 3p^6$) तक के सभी तत्त्वों के परमाणुओं में इलेक्ट्रॉनिक विन्यास की पद्धति Li से Ne तक के तत्त्वों के समान होती है। यहाँ अंतर केवल यह होता है कि अब $3s$ तथा $3p$ कक्षक भरे जाते हैं। इस प्रक्रिया को सरल किया जा सकता है, बशर्ते पहले दो कोशों के कुल इलेक्ट्रॉनों को निऑन (Ne) तत्त्व के नाम से निरूपित किया जाए। सोडियम से ऑर्गन तक

© BSTBPC NOT TO BE PUBLISHED

के इलेक्ट्रॉनिक विन्यास को ऐसे लिखा जा सकता है– (Na, [Ne]$3s^1$), (Ar, [Ne] $3s^2 3p^6$)। पूर्ण रूप से भरे कोशों के इलेक्ट्रॉनों को 'क्रोड इलेक्ट्रॉन' कहते हैं, और वे इलेक्ट्रॉन, जो उच्चतम मुख्य क्वांटम संख्या के इलेक्ट्रॉनिक कोश में भरे जाते हैं, संयोजकता इलेक्ट्रॉन कहलाते हैं। उदाहरण के लिए– Ne में इलेक्ट्रॉन, क्रोड इलेक्ट्रॉन हैं और Na से Ar तक इलेक्ट्रॉन संयोजी इलेक्ट्रॉन हैं। पोटैशियम (K) तथा कैल्सियम (Ca) में 3d कक्षक की तुलना में $4s$ कक्षक की ऊर्जा कम होने के कारण प्रथम और द्वितीय इलेक्ट्रॉन क्रमशः $4s$ कक्षक में जाते हैं।

स्कैंडियम से प्रारंभ करने पर एक नया लक्षण दिखाई देता है। $3d$ कक्षक की ऊर्जा $4p$ कक्षक की तुलना में कम होने के कारण इसमें इलेक्ट्रॉन पहले भरते हैं। परिणामस्वरूप अगले दस तत्त्वों– स्कैंडियम (Sc), टाइटेनियम (Ti), वैनेडियम (V), क्रोमियम (Cr), मैंगनीज (Mn), आयरन (Fe), कोबाल्ट (Co), निकैल (Ni), कॉपर (Cu) तथा जिंक (Zn) में पाँचों $3d$ कक्षकों में इलेक्ट्रॉन उत्तरोत्तर भरे जाते हैं। हम यह देखकर चकित हो सकते हैं कि क्रोमियम तथा कॉपर में $3d$ कक्षक में चार तथा नौ इलेक्ट्रॉनों की जगह क्रमशः पाँच और दस इलेक्ट्रॉन होते हैं। इसका कारण यह है कि आधे एवं पूरे भरे कक्षक अधिक स्थायी होते हैं, अर्थात् उनकी ऊर्जा कम होती है। p^3, p^6, d^5, d^{10}, f^7, f^{14} इत्यादि विन्यास, जिनमें कक्षक या तो आधे या पूरे भरे हैं, अधिक स्थायी होते हैं। अतः क्रोमियम तथा कॉपर में d^5 और d^{10} विन्यासों को प्राथमिकता मिलती है (खण्ड 2.6.6)। ध्यान दें कि अपवाद भी मिलते हैं।

$3d$ कक्षकों के भरने के बाद गैलियम (Ga) से $4p$ कक्षकों का भरना शुरू होता है और क्रिप्टन (Kr) पर पूरा होता है। अगले 18 तत्त्वों– रूबीडियम (Rb) से जीनॉन (Xe) तक $5s$, $4d$ तथा $5p$ कक्षकों के भरने की वही पद्धति होती है, जो $4s$, $3d$ और $4p$ कक्षकों की थी। इसके बाद 6s कक्षकों का भरना प्रारंभ होता है। सीजियम (Cs) तथा बेरियम (Ba) में इस कक्षक में क्रमशः एक और दो इलेक्ट्रॉन होते हैं। उसके बाद लैंथेनम (La) से मर्करी (Hg) तक $4f$ और $5d$ कक्षकों में इलेक्ट्रॉन भरे जाते हैं। इसके बाद $6p$, $7s$ और अंततः $5f$ एवं $6d$ कक्षकों को भरा जाता है। यूरेनियम (U) के बाद के तत्त्व कम स्थायी होते हैं और उन्हें कृत्रिम रूप से प्राप्त किया जाता है। सारणी 2.6 में ज्ञात तत्त्वों के इलेक्ट्रॉनिक विन्यास (स्पेक्ट्रमी विधियों द्वारा निर्धारित) दिए गए हैं।

आप यह पूछ सकते हैं कि आखिर इन विन्यासों को जानने से क्या लाभ होगा? आधुनिक रसायन विज्ञान के अध्ययन में रासायनिक व्यवहार को समझने और उसकी व्याख्या करने में इलेक्ट्रॉनिक विन्यास को ही आधार माना जाता है। उदाहरण के लिए कुछ प्रश्नों, जैसे– दो या दो से अधिक परमाणु मिलकर अणु क्यों बनाते हैं,? कोई तत्त्व धातु अथवा अधातु क्यों होता है? He तथा Ar जैसे तत्त्व क्रियाशील क्यों नहीं होते हैं, जबकि हैलोजेन जैसे तत्त्व क्रियाशील होते हैं– इन सब के उत्तर इलेक्ट्रॉनिक विन्यास के आधार पर दिए जा सकते हैं। डाल्टन के परमाणु मॉडल से इनका स्पष्टीकरण नहीं किया जा सकता। अतः आधुनिक रसायन विज्ञान के कई पहलुओं को भली प्रकार समझने के लिए इलेक्ट्रॉनिक संरचना की पूरी जानकारी होना अति आवश्यक है।

2.6.6 पूर्णरूपेण पूरित एवं अर्धपूरित उप-कोशों का स्थायित्व

किसी तत्त्व का तलस्थ अवस्था इलेक्ट्रॉनिक विन्यास उसकी न्यूनतम ऊर्जा से संबंधित अवस्था होती है। अधिकांश परमाणुओं के इलेक्ट्रॉनिक विन्यास भाग 2.6.5 में दिए मूलभूत नियमों का अनुसरण करते हैं। परंतु कुछ तत्त्वों (जैसे– Cu तथा Cr में, जहाँ दो उप-कोशों ($4s$ तथा $3d$) की ऊर्जाओं में कम अंतर होता है) एक इलेक्ट्रॉन कम ऊर्जा वाले उपकोश s से अधिक ऊर्जा वाले उपकोश में स्थानांतरित हो जाता है, बशर्ते इस स्थानांतरण से उपकोश के सभी उच्च ऊर्जा वाले कक्षक प्राप्त हों, जो पूर्णपूरित या अर्धपूरित हों। अतः Cr तथा Cu के संयोजी इलेक्ट्रॉनिक विन्यास क्रमशः $3d^5$, $4s^1$ तथा $3d^{10}$, $4s^1$ होंगे, न कि $3d^4$, $4s^2$ तथा $3d^9$, $4s^2$। ऐसा पाया गया है कि इन इलेक्ट्रॉनिक विन्यासों में अतिरिक्त स्थायित्व होता है।

© NCERT NOT TO BE REPUBLISHED

अर्धपूरित तथा पूर्णपूरित उप-कोशों के स्थायित्व के कारण

पूर्णपूरित तथा अर्धपूरित उपकोशों के स्थायित्व के कारण निम्नलिखित हैं–

1. इलेक्ट्रॉनों का सममित वितरण : यह भली-भाँति विदित है कि सममिति स्थायित्व प्रदान करती है। पूर्णत: भरे हुए या अर्धपूरित उपकोशों में इलेक्ट्रॉनों का वितरण सममित होता है। अत: ये अधिक स्थायी होते हैं। एक ही उपकोश में (यहाँ 3d) इलेक्ट्रॉनों की ऊर्जा समान होती है, परंतु उसके त्रिविम वितरण भिन्न होते हैं। फलस्वरूप ये एक-दूसरे को आपेक्षिक रूप से कम परिरक्षित करते हैं तथा इलेक्ट्रॉन नाभिक द्वारा अधिक प्रबलता से आकर्षित हो जाते हैं।

2. विनिमय ऊर्जा : यह स्थायीकरण प्रभाव तब उत्पन्न होता है, जब दो या दो से अधिक इलेक्ट्रॉन (जिनके प्रचक्रण समान होते हैं) एक उपकोश के समभ्रंश कक्षकों में उपस्थित होते हैं। ये इलेक्ट्रॉन अपना स्थान विनिमय करने की प्रवृत्ति रखते हैं। इस विनिमय के कारण मुक्त ऊर्जा, 'विनिमय ऊर्जा' (exchange energy) कहलाती है। संभावित विनिमयों की संख्या तब अधिकतम होती है, जब उप-कोश पूर्णत: भरे या अर्धपूरित (half filled) होते हैं (चित्र 2.18)। इसके फलस्वरूप विनिमय ऊर्जा अधिकतम होती है तथा इसी प्रकार स्थायित्व भी अधिकतम होता है।

आप देखेंगे कि यह ऊर्जा हुंड के नियम का आधार है, जिसके अनुसार– **समान ऊर्जा के कक्षकों में जानेवाले इलेक्ट्रॉनों के यथासंभव समानांतर प्रचक्रण होते हैं।** अन्य शब्दों में, अर्धपूरित तथा पूर्णपूरित उपकोशों का स्थायित्व (i) आपेक्षिक रूप से कम परिरक्षित, (ii) कम कूलंबिक प्रतिकर्षण ऊर्जा तथा (iii) उच्च विनियम ऊर्जा के कारण होता है। विनिमय ऊर्जा के विषय में विस्तार से आप अगली कक्षाओं में पढ़ेंगे।

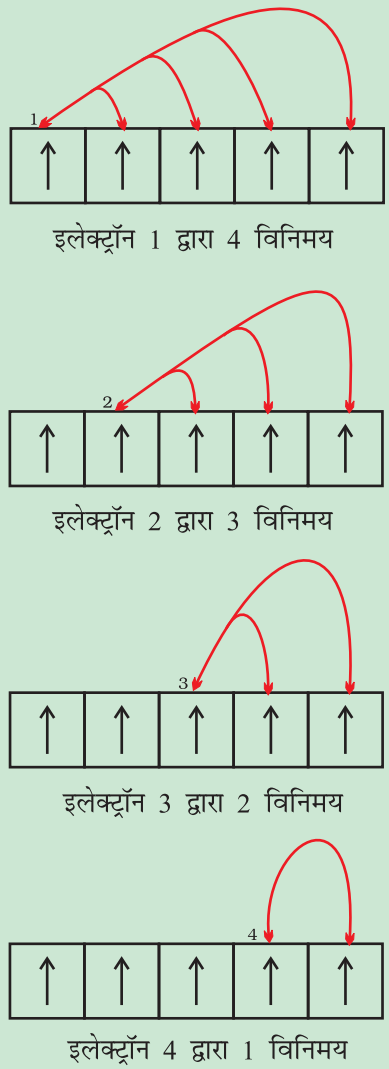

चित्र 2.18 *d^5 विन्यास हेतु संभावित विनिमय*

सारणी 2.6 तत्वों के इलेक्ट्रॉनिक विन्यास

तत्त्व	Z	1s	2s	2p	3s	3p	3d	4s	4p	4d	4f	5s	5p	5d	5f	6s	6p	6d	7s
H	1	1																	
He	2	2																	
Li	3	2	1																
Be	4	2	2																
B	5	2	2	1															
C	6	2	2	2															
N	7	2	2	3															
O	8	2	2	4															
F	9	2	2	5															
Ne	10	2	2	6															
Na	11	2	2	6	1														
Mg	12	2	2	6	2														
Al	13	2	2	6	2	1													
Si	14	2	2	6	2	2													
P	15	2	2	6	2	3													
S	16	2	2	6	2	4													
Cl	17	2	2	6	2	5													
Ar	18	2	2	6	2	6													
K	19	2	2	6	2	6		1											
Ca	20	2	2	6	2	6		2											
Sc	21	2	2	6	2	6	1	2											
Ti	22	2	2	6	2	6	2	2											
V	23	2	2	6	2	6	3	2											
Cr*	24	2	2	6	2	6	5	1											
Mn	25	2	2	6	2	6	5	2											
Fe	26	2	2	6	2	6	6	2											
Co	27	2	2	6	2	6	7	2											
Ni	28	2	2	6	2	6	8	2											
Cu*	29	2	2	6	2	6	10	1											
Zn	30	2	2	6	2	6	10	2											
Ga	31	2	2	6	2	6	10	2	1										
Ge	32	2	2	6	2	6	10	2	2										
As	33	2	2	6	2	6	10	2	3										
Se	34	2	2	6	2	6	10	2	4										
Br	35	2	2	6	2	6	10	2	5										
Kr	36	2	2	6	2	6	10	2	6										
Rb	37	2	2	6	2	6	10	2	6			1							
Sr	38	2	2	6	2	6	10	2	6			2							
Y	39	2	2	6	2	6	10	2	6	1		2							
Zr	40	2	2	6	2	6	10	2	6	2		2							
Nb*	41	2	2	6	2	6	10	2	6	4		1							
Mo*	42	2	2	6	2	6	10	2	6	5		1							
Tc	43	2	2	6	2	6	10	2	6	5		2							
Ru*	44	2	2	6	2	6	10	2	6	7		1							
Rh*	45	2	2	6	2	6	10	2	6	8		1							
Pd*	46	2	2	6	2	6	10	2	6	10									
Ag*	47	2	2	6	2	6	10	2	6	10		1							
Cd	48	2	2	6	2	6	10	2	6	10		2							
In	49	2	2	6	2	6	10	2	6	10		2	1						
Sn	50	2	2	6	2	6	10	2	6	10		2	2						
Sb	51	2	2	6	2	6	10	2	6	10		2	3						
Te	52	2	2	6	2	6	10	2	6	10		2	4						
I	53	2	2	6	2	6	10	2	6	10		2	5						
Xe	54	2	2	6	2	6	10	2	6	10		2	6						

*असामान्य इलेक्ट्रॉनिक विन्यास वाले तत्व

तत्त्व	Z	1s	2s	2p	3s	3p	3d	4s	4p	4d	4f	5s	5p	5d	5f	6s	6p	6d	7s
Cs	55	2	2	6	2	6	10	2	6	10		2	6			1			
Ba	56	2	2	6	2	6	10	2	6	10		2	6			2			
La*	57	2	2	6	2	6	10	2	6	10		2	6	1		2			
Ce*	58	2	2	6	2	6	10	2	6	10	2	2	6			2			
Pr	59	2	2	6	2	6	10	2	6	10	3	2	6			2			
Nd	60	2	2	6	2	6	10	2	6	10	4	2	6			2			
Pm	61	2	2	6	2	6	10	2	6	10	5	2	6			2			
Sm	62	2	2	6	2	6	10	2	6	10	6	2	6			2			
Eu	63	2	2	6	2	6	10	2	6	10	7	2	6			2			
Gd*	64	2	2	6	2	6	10	2	6	10	7	2	6	1		2			
Tb	65	2	2	6	2	6	10	2	6	10	9	2	6			2			
Dy	66	2	2	6	2	6	10	2	6	10	10	2	6			2			
Ho	67	2	2	6	2	6	10	2	6	10	11	2	6			2			
Er	68	2	2	6	2	6	10	2	6	10	12	2	6			2			
Tm	69	2	2	6	2	6	10	2	6	10	13	2	6			2			
Yb	70	2	2	6	2	6	10	2	6	10	14	2	6			2			
Lu	71	2	2	6	2	6	10	2	6	10	14	2	6	1		2			
Hf	72	2	2	6	2	6	10	2	6	10	14	2	6	2		2			
Ta	73	2	2	6	2	6	10	2	6	10	14	2	6	3		2			
W	74	2	2	6	2	6	10	2	6	10	14	2	6	4		2			
Re	75	2	2	6	2	6	10	2	6	10	14	2	6	5		2			
Os	76	2	2	6	2	6	10	2	6	10	14	2	6	6		2			
Ir	77	2	2	6	2	6	10	2	6	10	14	2	6	7		2			
Pt*	78	2	2	6	2	6	10	2	6	10	14	2	6	9		1			
Au*	79	2	2	6	2	6	10	2	6	10	14	2	6	10		1			
Hg	80	2	2	6	2	6	10	2	6	10	14	2	6	10		2			
Tl	81	2	2	6	2	6	10	2	6	10	14	2	6	10		2	1		
Pb	82	2	2	6	2	6	10	2	6	10	14	2	6	10		2	2		
Bi	83	2	2	6	2	6	10	2	6	10	14	2	6	10		2	3		
Po	84	2	2	6	2	6	10	2	6	10	14	2	6	10		2	4		
At	85	2	2	6	2	6	10	2	6	10	14	2	6	10		2	5		
Rn	86	2	2	6	2	6	10	2	6	10	14	2	6	10		2	6		
Fr	87	2	2	6	2	6	10	2	6	10	14	2	6	10		2	6		1
Ra	88	2	2	6	2	6	10	2	6	10	14	2	6	10		2	6		2
Ac	89	2	2	6	2	6	10	2	6	10	14	2	6	10		2	6	1	2
Th	90	2	2	6	2	6	10	2	6	10	14	2	6	10		2	6	2	2
Pa	91	2	2	6	2	6	10	2	6	10	14	2	6	10	2	2	6	1	2
U	92	2	2	6	2	6	10	2	6	10	14	2	6	10	3	2	6	1	2
Np	93	2	2	6	2	6	10	2	6	10	14	2	6	10	4	2	6	1	2
Pu	94	2	2	6	2	6	10	2	6	10	14	2	6	10	6	2	6		2
Am	95	2	2	6	2	6	10	2	6	10	14	2	6	10	7	2	6		2
Cm	96	2	2	6	2	6	10	2	6	10	14	2	6	10	7	2	6	1	2
Bk	97	2	2	6	2	6	10	2	6	10	14	2	6	10	8	2	6	1	2
Cf	98	2	2	6	2	6	10	2	6	10	14	2	6	10	10	2	6		2
Es	99	2	2	6	2	6	10	2	6	10	14	2	6	10	11	2	6		2
Fm	100	2	2	6	2	6	10	2	6	10	14	2	6	10	12	2	6		2
Md	101	2	2	6	2	6	10	2	6	10	14	2	6	10	13	2	6		2
No	102	2	2	6	2	6	10	2	6	10	14	2	6	10	14	2	6		2
Lr	103	2	2	6	2	6	10	2	6	10	14	2	6	10	14	2	6	1	2
Rf	104	2	2	6	2	6	10	2	6	10	14	2	6	10	10	2	6	2	2
Db	105	2	2	6	2	6	10	2	6	10	14	2	6	10	11	2	6	3	2
Sg	106	2	2	6	2	6	10	2	6	10	14	2	6	10	12	2	6	4	2
Bh	107	2	2	6	2	6	10	2	6	10	14	2	6	10	13	2	6	5	2
Hs	108	2	2	6	2	6	10	2	6	10	14	2	6	10	14	2	6	6	2
Mt	109	2	2	6	2	6	10	2	6	10	14	2	6	10	14	2	6	7	2
Ds	110	2	2	6	2	6	10	2	6	10	14	2	6	10	14	2	6	8	2
Rg**	111	2	2	6	2	6	10	2	6	10	14	2	6	10	14	2	6	10	1

**112 तथा उससे अधिक परमाणु-संख्या वाले तत्त्व ज्ञात हैं, परंतु उनकी पुष्टि नहीं हुई है और उनके नाम भी तय नहीं हैं।

सारांश

परमाणु तत्त्वों के रचनात्मक भाग होते हैं। ये तत्त्व के ऐसे छोटे भाग हैं, जो रासायनिक क्रिया में भाग लेते हैं। प्रथम परमाणु सिद्धांत, जिसे जॉन डॉल्टन ने सन् 1808 में प्रतिपादित किया, के अनुसार परमाणु पदार्थ के ऐसे सबसे छोटे कण होते हैं, जिन्हें और विभाजित नहीं किया जा सकता है। उन्नीसवीं शताब्दी के अंत में प्रयोगों द्वारा यह प्रमाणित हो गया कि परमाणु विभाज्य है तथा वह तीन मूल कणों (इलेक्ट्रॉन, प्रोटॉन तथा न्यूट्रॉन) द्वारा बना होता है। इन अव-परमाणविक कणों की खोज के बाद परमाणु की संरचना को स्पष्ट करने के लिए बहुत से परमाणु मॉडल प्रस्तुत किए गए।

सन् 1898 में थॉमसन ने कहा कि परमाणु एक समान धनात्मक विद्युत् आवेश वाला एक गोला होता है, जिस पर इलेक्ट्रॉन उपस्थित होते हैं। वह मॉडल, जिसमें परमाणु का द्रव्यमान पूरे परमाणु पर एक समान वितरित माना गया था, सन् 1909 में रदरफोर्ड के महत्त्वपूर्ण α-कण के प्रकीर्णन प्रयोग द्वारा गलत सिद्ध हुआ। रदरफोर्ड ने यह निष्कर्ष निकाला कि परमाणु के केंद्र में बहुत छोटे आकार का धनावेशित नाभिक होता है और इलेक्ट्रॉन इसके चारों ओर वृत्ताकार कक्षों में गति करते हैं। रदरफोर्ड मॉडल, जो सौरमंडल से मिलता-जुलता था, निश्चित रूप से डाल्टन मॉडल से बेहतर था, परंतु यह परमाणु की स्थिरता की, अर्थात् यह इस बात की व्याख्या नहीं कर पाया कि इलेक्ट्रॉन नाभिक में क्यों नहीं गिर जाते हैं? इसके अलावा यह परमाणु की इलेक्ट्रॉनिक संरचना, अर्थात् नाभिक के चारों ओर इलेक्ट्रॉनों के वितरण और उनकी ऊर्जा के बारे में कुछ नहीं बता सका। रदरफोर्ड मॉडल की इन कठिनाइयों को सन् 1913 में नील बोर ने हाइड्रोजन परमाणु के अपने मॉडल में दूर किया तथा यह प्रस्तावित किया कि नाभिक के चारों ओर वृत्ताकार कक्षों में इलेक्ट्रॉन गति करता है। केवल कुछ कक्षों का ही अस्तित्व हो सकता है तथा प्रत्येक कक्षा की निश्चित ऊर्जा होती है। बोर ने विभिन्न कक्षों में इलेक्ट्रॉन की ऊर्जा की गणना की और प्रत्येक कक्षा के लिए नाभिक और इलेक्ट्रॉन की दूरी का आकलन किया। हालाँकि बोर मॉडल हाइड्रोजन के स्पेक्ट्रम को संतोषपूर्वक स्पष्ट करता था, लेकिन यह बहु-इलेक्ट्रॉन परमाणुओं के स्पेक्ट्रमों की व्याख्या नहीं कर पाया। इसका कारण बहुत जल्द ही ज्ञात हो गया। बोर मॉडल में इलेक्ट्रॉन को नाभिक के चारों ओर एक निश्चित वृत्ताकार कक्षा में गति करते हुए आवेशित कण के रूप में माना गया था। इसमें उसके तरंग जैसे लक्षणों के बारे में नहीं सोचा गया था। एक कक्षा एक निश्चित पथ होता है और इस पथ को पूरी तरह तभी परिभाषित माना जा सकता है, जब एक ही समय पर इलेक्ट्रॉन की सही स्थिति और सही वेग ज्ञात हो। हाइज़ेनबर्ग के 'अनिश्चितता सिद्धांत' के अनुसार ऐसा संभव नहीं है। इस प्रकार हाइड्रोजन परमाणु का बोर मॉडल न केवल इलेक्ट्रॉन के दोहरे व्यवहार की उपेक्षा करता है, बल्कि हाइज़ेनबर्ग अनिश्चितता सिद्धांत का भी विरोध करता है।

सन् 1926 में इरविन श्रोडिंजर ने एक समीकरण दिया, जिसे 'श्रोडिंजर समीकरण' कहा जाता है। इसके द्वारा त्रिविम में इलेक्ट्रॉन के वितरण और परमाणुओं में अनुमत ऊर्जा स्तरों का वर्णन किया जा सकता है। यह समीकरण न केवल दे ब्रॉग्ली के तरंग-कण वाले दोहरे लक्षण की संकल्पना को ध्यान में रखता है, बल्कि हाइज़ेनबर्ग के 'अनिश्चितता सिद्धांत' के भी संगत है। जब इस समीकरण को हाइड्रोजन परमाणु में इलेक्ट्रॉन के लिए हल किया गया, तो इलेक्ट्रॉन के संभव ऊर्जा-स्तरों और संगत तरंग फलनों (जो गणितीय फलन होते हैं) के बारे में जानकारी प्राप्त हुई। ये क्वांटित ऊर्जा-स्तर और उनके संगत तरंग-फलन जो तीन क्वांटम संख्याओं– मुख्य क्वांटम संख्या n, दिगंशीय क्वांटम संख्या l, और चुंबकीय क्वांटम संख्या m_l के द्वारा पहचाने जाते हैं, श्रोडिंजर समीकरण के हल के परिणामस्वरूप प्राप्त होते हैं। इन तीन क्वांटम संख्याओं के मानों पर प्रतिबंध भी श्रोडिंजर-समीकरण के हल से स्वत: प्राप्त होते हैं। हाइड्रोजन परमाणु का क्वांटम यांत्रिकीय मॉडल उसके स्पेक्ट्रम के सभी पहलुओं की व्याख्या करता है और उसके अतिरिक्त कुछ ऐसी परिघटनाओं को भी समझाता है, जो बोर मॉडल द्वारा स्पष्ट नहीं हो सकीं।

परमाणु के क्वांटम यांत्रिकीय मॉडल के अनुसार बहु-इलेक्ट्रॉन परमाणुओं के इलेक्ट्रॉन-वितरण को कई कोशों में बाँटा गया है। ये कोश एक या अधिक उप-कोशों के बने हुए हो सकते हैं तथा इन उप-कोशों में एक या अधिक कक्षक हो सकते हैं, जिनमें इलेक्ट्रॉन उपस्थित होता है। हाइड्रोजन और हाइड्रोजन जैसे निकायों (उदाहरणार्थ– He^+, Li^{2+} आदि) में किसी दिए गए कोश के सभी कक्षकों की समान ऊर्जा होती है, परंतु बहु-इलेक्ट्रॉन परमाणुओं में कक्षकों की ऊर्जा n और l के मानों पर निर्भर है। किसी कक्षक के लिए $(n + l)$ का मान जितना कम होगा उसकी ऊर्जा भी उतनी ही कम होगी। यदि कोई दो कक्षकों का $(n + l)$ मान समान है, तो उस कक्षक की ऊर्जा कम होगी, जिसके लिए n का मान कम है। किसी

परमाणु में ऐसे कई कक्षक संभव होते हैं, तथा उनमें ऊर्जा के बढ़ते क्रम में इलेक्ट्रॉन पाउली के अपवर्जन सिद्धांत (किसी परमाणु में किन्हीं दो इलेक्ट्रॉनों की चारों क्वांटम-संख्या का मान समान नहीं हो सकता है) और हुंड के अधिकतम बहुकता नियम (एक उपकोश के कक्षकों में इलेक्ट्रॉनों का युग्मन तब तक प्रारंभ नहीं होता, जब तक प्रत्येक कक्षक में एक-एक इलेक्ट्रॉन न आ आए) के आधार पर भरे जाते हैं। परमाणुओं की इलेक्ट्रॉनिक संरचना इन्हीं विचारों पर आधारित है।

अभ्यास

2.1 (i) एक ग्राम भार में इलेक्ट्रॉनों की संख्या का परिकलन कीजिए।

(ii) एक मोल इलेक्ट्रॉनों के द्रव्यमान और आवेश का परिकलन कीजिए।

2.2 (i) मेथेन के एक मोल में उपस्थित इलेक्ट्रॉनों की संख्या का परिकलन कीजिए।

(ii) 7 mg ^{14}C में न्यूट्रॉनों की (क) कुल संख्या तथा (ख) कुल द्रव्यमान ज्ञात कीजिए।
(न्यूट्रॉन का द्रव्यमान = 1.675×10^{-27} kg मान लीजिए)

(iii) मानक ताप और दाब (STP) पर 34 mg NH_3 में प्रोटॉनों की
(क) कुल संख्या और (ख) कुल द्रव्यमान बताइए।
दाब और ताप में परिवर्तन से क्या उत्तर परिवर्तित हो जाएगा?

2.3 निम्नलिखित नाभिकों में उपस्थित न्यूट्रॉनों और प्रोटॉनों की संख्या बताइए–

$^{13}_{6}C$, $^{16}_{8}O$, $^{24}_{12}Mg$, $^{56}_{26}Fe$, $^{88}_{38}Sr$

2.4 नीचे दिए गए परमाणु द्रव्यमान (A) और परमाणु संख्या (Z) वाले परमाणुओं का पूर्ण प्रतीक लिखिए–

(i) Z = 17 , A = 35.

(ii) Z = 92 , A = 233.

(iii) Z = 4 , A = 9.

2.5 सोडियम लैम्प द्वारा उत्सर्जित पीले प्रकाश की तरंग-दैर्घ्य (λ) 580 nm है। इसकी आवृत्ति (ν) और तरंग-संख्या ($\bar{\nu}$) का परिकलन कीजिए।

2.6 प्रत्येक ऐसे फोटॉन की ऊर्जा ज्ञात कीजिए–

(i) जो 3 10^{15} Hz आवृत्ति वाले प्रकाश के संगत हो।

(ii) जिसकी तरंग-दैर्घ्य 0.50 Å हो।

2.7 2.0 10^{-10} s काल वाली प्रकाश तरंग की तरंग-दैर्घ्य, आवृत्ति और तरंग-संख्या की गणना कीजिए।

2.8 ऐसा प्रकाश, जिसकी तरंग-दैर्घ्य 4000 pm हो और जो 1 J ऊर्जा दे, के फोटॉनों की संख्या बताइए।

2.9 यदि 4×10^{-7} m तरंग-दैर्घ्य वाला एक फोटॉन 2.13 eV कार्यफलन वाली धातु की सतह से टकराता है, तो

(i) फोटॉन की ऊर्जा (eV में) (ii) उत्सर्जन की गतिज ऊर्जा और (iii) प्रकाशीय इलेक्ट्रॉन के वेग का परिकलन कीजिए (1 eV= 1.6020 10^{-19} J)।

2.10 सोडियम परमाणु के आयनन के लिए 242 nm तरंग-दैर्घ्य की विद्युत्-चुंबकीय विकिरण पर्याप्त होती है। सोडियम की आयनन ऊर्जा kJ mol^{-1} में ज्ञात कीजिए।

2.11 25 वॉट का एक बल्ब 0.57 μ m तरंग-दैर्घ्य वाले पीले रंग का एकवर्णी प्रकाश उत्पन्न करता है। प्रति सेकंड क्वांटा के उत्सर्जन की दर ज्ञात कीजिए।

2.12 किसी धातु की सतह पर 6800 Å तरंग-दैर्घ्य वाली विकिरण डालने से शून्य वेग वाले इलेक्ट्रॉन उत्सर्जित होते हैं। धातु की देहली आवृत्ति (ν_0) और कार्यफलन (W_0) ज्ञात कीजिए।

© BSTBPC WEB COPY, NOT TO BE PUBLISHED

2.13 जब हाइड्रोजन परमाणु के $n = 4$ ऊर्जा स्तर से $n = 2$ ऊर्जा स्तर में इलेक्ट्रॉन जाता है, तो किस तरंग-दैर्घ्य का प्रकाश उत्सर्जित होगा?

2.14 यदि इलेक्ट्रॉन $n = 5$ कक्षक में उपस्थित हो, तो H परमाणु के आयनन के लिए कितनी ऊर्जा की आवश्यकता होगी? अपने उत्तर की तुलना हाइड्रोजन परमाणु के आयनन एन्थैल्पी से कीजिए। (आयनन एन्थैल्पी $n = 1$ कक्षक से इलेक्ट्रॉन को निकालने के लिए आवश्यक ऊर्जा होती है।)

2.15 जब हाइड्रोजन परमाणु में उत्तेजित इलेक्ट्रॉन $n = 6$ से मूल अवस्था में जाता है, तो प्राप्त उत्सर्जित रेखाओं की अधिकतम संख्या क्या होगी?

2.16 (i) हाइड्रोजन के प्रथम कक्षक से संबंधित ऊर्जा -2.18×10^{-18} J atom^{-1} है। पाँचवें कक्षक से संबंधित ऊर्जा बताइए।

(ii) हाइड्रोजन परमाणु के पाँचवें बोर कक्षक की त्रिज्या की गणना कीजिए।

2.17 हाइड्रोजन परमाणु की बामर श्रेणी में अधिकतम तरंग-दैर्घ्य वाले संक्रमण की तरंग-संख्या की गणना कीजिए।

2.18 हाइड्रोजन परमाणु में इलेक्ट्रॉन को पहली कक्ष से पाँचवीं कक्ष तक ले जाने के लिए आवश्यक ऊर्जा की जूल में गणना कीजिए। जब यह इलेक्ट्रॉन तलस्थ अवस्था में लौटता है, तो किस तरंग-दैर्घ्य का प्रकाश उत्सर्जित होगा? (इलेक्ट्रॉन की तलस्थ अवस्था ऊर्जा -2.18×10^{-11} ergs है)।

2.19 हाइड्रोजन परमाणु में इलेक्ट्रॉन की ऊर्जा $E_n = (-2.18 \times 10^{-18})/n^2$ J द्वारा दी जाती है। $n = 2$ कक्षा से इलेक्ट्रॉन को पूरी तरह निकालने के लिए आवश्यक ऊर्जा की गणना कीजिए। प्रकाश की सबसे लंबी तरंग-दैर्घ्य (cm में) क्या होगी, जिसका उपयोग इस संक्रमण में किया जा सके।

2.20 2.05×10^7 m s^{-1} वेग से गति कर रहे किसी इलेक्ट्रॉन का तरंग-दैर्घ्य क्या होगा?

2.21 इलेक्ट्रॉन का द्रव्यमान 9.1×10^{-31} kg हैं। यदि इसकी गतिज ऊर्जा 3.0×10^{-25} J हो, तो इसकी तरंग-दैर्घ्य की गणना कीजिए।

2.22 निम्नलिखित में से कौन सम-आयनी स्पीशीज़ हैं, अर्थात् किनमें इलेक्ट्रॉनों की समान संख्या है?

Na^+, K^+, Mg^{2+}, Ca^{2+}, S^{2-}, Ar

2.23 (i) निम्नलिखित आयनों का इलेक्ट्रॉनिक विन्यास लिखिए –

(क) H^- (ख) Na^+ (ग) O^{2-} (घ) F^-

(ii) उन तत्त्वों की परमाणु-संख्या बताइए, जिनके सबसे बाहरी इलेक्ट्रॉनों को निम्नलिखित रूप में दर्शाया जाता है –

(क) $3s^1$ (ख) $2p^3$ तथा (ग) $3p^5$?

(iii) निम्नलिखित विन्यासों वाले परमाणुओं के नाम बताइए –

(क) [He] $2s^1$ (ख) [Ne] $3s^2\ 3p^3$ (ग) [Ar] $4s^2\ 3d^1$.

2.24 किस निम्नतम n मान द्वारा g कक्षक का अस्तित्व अनुमत होगा?

2.25 एक इलेक्ट्रॉन किसी $3d$ कक्षक में है। इसके लिए n, l और m_l के संभव मान दीजिए।

2.26 किसी तत्त्व के परमाणु में 29 इलेक्ट्रॉन और 35 न्यूट्रॉन हैं। (i) इसमें प्रोटॉनों की संख्या बताइए। (ii) तत्त्व का इलेक्ट्रॉनिक विन्यास बताइए।

2.27 H_2^+, H_2 और O_2^+ स्पीशीज़ में उपस्थित इलेक्ट्रॉनों की संख्या बताइए।

2.28 (i) किसी परमाणु कक्षक का $n = 3$ है। उसके लिए l और $2m_l$ के संभव मान क्या होंगे?

(ii) $3d$ कक्षक के इलेक्ट्रॉनों के लिए m_l और l क्वांटम संख्याओं के मान बताइए।

(iii) निम्नलिखित में से कौन से कक्षक संभव हैं –

$1p$, $2s$, $2p$ और $3f$

© NCERT NOT TO BE REPUBLISHED

2.29 s,p,d संकेतन द्वारा निम्नलिखित क्वांटम संख्याओं वाले कक्षकों को बताइए –

(क) $n = 1, l = 0$

(ख) $n = 3; l = 1$

(ग) $n = 4; l = 2$

(घ) $n = 4; l = 3$

2.30 कारण देते हुए बताइए कि निम्नलिखित क्वांटम संख्या के कौन से मान संभव नहीं हैं –

(क) $n = 0, \quad l = 0, \quad m_l = 0, \quad m_s = +\square$

(ख) $n = 1, \quad l = 0, \quad m_l = 0, \quad m_s = -\square$

(ग) $n = 1, \quad l = 1, \quad m_l = 0, \quad m_s = +\square$

(घ) $n = 2, \quad l = 1, \quad m_l = 0, \quad m_s = -\square$

(ङ) $n = 3, \quad l = 3, \quad m_l = -3, \quad m_s = +\square$

(च) $n = 3, \quad l = 1, \quad m_l = 0, \quad m_s = +\square$

2.31 किसी परमाणु में निम्नलिखित क्वांटम संख्याओं वाले कितने इलेक्ट्रॉन होंगे?

(क) $n = 4, m_s = -\square$ (ख) $n = 3, l = 0$

2.32 यह दर्शाइए कि हाइड्रोजन परमाणु की बोर कक्षा की परिधि उस कक्षा में गतिमान इलेक्ट्रॉन की दे-ब्राग्ली तरंग-दैर्घ्य का पूर्ण गुणक होती है।

2.33 He^+ स्पेक्ट्रम के $n = 4$ से $n = 2$ बामर संक्रमण से प्राप्त तरंग-दैर्ध्य के बराबर वाला संक्रमण हाइड्रोजन स्पेक्ट्रम में क्या होगा?

2.34 $He^+(g) \rightarrow He^{2+}(g) + e^-$ प्रक्रिया के लिए आवश्यक ऊर्जा की गणना कीजिए। हाइड्रोजन परमाणु की तलस्थ अवस्था में आयनन ऊर्जा 2.18×10^{-18} J atom^{-1} है।

2.35 यदि कार्बन परमाणु का व्यास 0.15 nm है, तो उन कार्बन परमाणुओं की संख्या की गणना कीजिए, जिन्हें 20 cm स्केल की लंबाई में एक-एक करके व्यवस्थित किया जा सकता है।

2.36 कार्बन के $2\ 10^8$ परमाणु एक कतार में व्यवस्थित हैं। यदि इस व्यवस्था की लंबाई 2.4 cm है, तो कार्बन परमाणु के व्यास की गणना कीजिए।

2.37 ज़िंक परमाणु का व्यास 2.6 Å है – (क) ज़िंक परमाणु की त्रिज्या pm में तथा (ख) 1.6 cm की लंबाई में कतार में लगातार उपस्थित परमाणुओं की संख्या की गणना कीजिए।

2.38 किसी कण का स्थिर विद्युत् आवेश $2.5\ 10^{-16}$C है। इसमें उपस्थित इलेक्ट्रॉनों की संख्या की गणना कीजिए।

2.39 मिलिकन के प्रयोग में तेल की बूँद पर चमकती X-किरणों द्वारा प्राप्त स्थैतिक विद्युत्-आवेश प्राप्त किया जाता है। तेल की बूँद पर यदि स्थैतिक विद्युत् आवेश $-1.282\ 10^{-18}$C है, तो इसमें उपस्थित इलेक्ट्रॉनों की संख्या की गणना कीजिए।

2.40 रदरफ़ोर्ड के प्रयोग में सोने, प्लैटिनम आदि भारी परमाणुओं की पतली पत्ती को α कणों द्वारा बमबारी की जाती है। यदि ऐलुमिनियम आदि जैसे हल्के परमाणु की पतली पन्नी ली जाए, तो उपरोक्त परिणामों में क्या अंतर होगा?

2.41 $^{79}_{35}Br$ तथा ^{79}Br प्रतीक मान्य है, जबकि $^{35}_{79}Br$ तथा ^{35}Br मान्य नहीं है। संक्षेप में कारण बताइए।

2.42 एक 81 द्रव्यमान संख्या वाले तत्त्व में प्रोटॉनों की तुलना में 31.7% न्यूट्रॉन अधिक है। इसका परमाणु प्रतीक लिखिए।

2.43 37 द्रव्यमान संख्या वाले एक आयन पर ऋणावेश की एक इकाई है। यदि आयन में इलेक्ट्रॉन की तुलना में न्यूट्रॉन 11.1% अधिक है, तो आयन का प्रतीक लिखिए।

© BSTBPC WEB COPY NOT TO BE PUBLISHED

2.44 56 द्रव्यमान संख्या वाले एक आयन पर धनावेश की 3 इकाई हैं, और इसमें इलेक्ट्रॉन की तुलना में 30.4% न्यूट्रॉन अधिक हैं। इस आयन का प्रतीक लिखिए।

2.45 निम्नलिखित विकिरणों के प्रकारों को आवृत्ति के बढ़ते हुए क्रम में व्यवस्थित कीजिए –

(क) माइक्रोवेव ओवन (oven) से विकिरण

(ख) यातायात-संकेत से त्रणमणि (amber) प्रकाश

(ग) एफ.एम. रेडियो से प्राप्त विकिरण

(ध) बाहरी दिक् से कौसमिक किरणें

(च) X-किरणें

2.46 नाइट्रोजन लेज़र 337.1 nm की तरंग-दैर्घ्य पर एक विकिरण उत्पन्न करती है। यदि उत्सर्जित फोटॉनों की संख्या $5.6 \ 10^{24}$ हो, तो इस लेज़र की क्षमता की गणना कीजिए।

2.47 निऑन गैस को सामान्यत: संकेत बोर्डों में प्रयुक्त किया जाता है। यदि यह 616 nm पर प्रबलता से विकिरण-उत्सर्जन करती है, तो

(क) उत्सर्जन की आवृत्ति (ख) 30 सेकंड में इस विकिरण द्वारा तय की गई दूरी (ग) क्वांटम की ऊर्जा तथा (घ) उपस्थित क्वांटम की संख्या की गणना कीजिए (यदि यह 2J की ऊर्जा उत्पन्न करती है)।

2.48 खगोलीय प्रेक्षणों में दूरस्थ तारों से मिलने वाले संकेत बहुत कमज़ोर होते हैं। यदि फोटॉन संसूचक 600 nm के विकिरण से कुल $3.15 \ 10^{-18}$J प्राप्त करता है, तो संसूचक द्वारा प्राप्त फोटॉनों की संख्या की गणना कीजिए।

2.49 उत्तेजित अवस्थाओं में अणुओं के जीवनकाल का माप प्राय: लगभग नेनो सेकंड परास वाले विकिरण स्रोत का उपयोग करके किया जाता है। यदि विकिरण स्रोत का काल 2ns और स्पंदित विकिरण स्रोत के दौरान उत्सर्जित फोटॉनों की संख्या $2.5 \ 10^{15}$ है, तो स्रोत की ऊर्जा की गणना कीजिए।

2.50 सबसे लंबी द्विगुणित तरंग-दैर्घ्य जिंक अवशोषण संक्रमण 589 और 589.6nm पर देखा जाता है। प्रत्येक संक्रमण की आवृत्ति और दो उत्तेजित अवस्थाओं के बीच ऊर्जा के अंतर की गणना कीजिए।

2.51 सीज़ियम परमाणु का कार्यफलन 1.9 eV है, तो

(क) उत्सर्जित विकिरण की देहली तरंग-दैर्घ्य (ख) देहली आवृत्ति की गणना कीजिए। यदि सीज़ियम तत्त्व को 500nm की तरंग-दैर्घ्य के साथ विकीर्णित किया जाए, तो निकले हुए फोटोइलेक्ट्रॉन की गतिज ऊर्जा और वेग की गणना कीजिए।

2.52 जब सोडियम धातु को विभिन्न तरंग-दैर्घ्यों के साथ विकीर्णित किया जाता है, तो निम्नलिखित परिणाम प्राप्त होते हैं –

λ (nm)	500	450	400
v 10^{-5} (cm s^{-1})	2.55	4.35	5.35

देहली तरंग-दैर्घ्य प्लांक स्थिरांक की गणना कीजिए।

2.53 प्रकाश विद्युत् प्रभाव प्रयोग में सिल्वर धातु से फोटोइलेक्ट्रॉन का उत्सर्जन 0.35V की वोल्टता द्वारा रोका जा सकता है। जब 256.7 nm के विकिरण का उपयोग किया जाता है, तो सिल्वर धातु के लिए कार्यफलन की गणना कीजिए।

2.54 यदि 150pm तरंग-दैर्घ्य का फोटॉन एक परमाणु से टकराता है और इसके अंदर बँधा हुआ इलेक्ट्रॉन $1.5 \ 10^7 ms^{-1}$ वेग से बाहर निकलता है तो उस ऊर्जा की गणना कीजिए, जिससे यह नाभिक से बँधा हुआ है।

2.55 पाशन श्रेणी का उत्सर्जन संक्रमण n कक्ष से आरंभ होता है। कक्ष $n = 3$ में खत्म होता है तथा इसे $\upsilon = 3.29 \ 10^{15}$ (Hz) $[1/3^2 - 1/n^2]$ से दर्शाया जा सकता है। यदि संक्रमण 1285 nm पर प्रेक्षित होता है, तो n के मान की गणना कीजिए तथा स्पेक्ट्रम का क्षेत्र बताइए।

2.56 उस उत्सर्जन संक्रमण के तरंग-दैर्घ्य की गणना कीजिए, जो 1.3225 nm त्रिज्या वाले कक्ष से आरंभ और 211.6 pm पर समाप्त होता है। इस संक्रमण की श्रेणी का नाम और स्पेक्ट्रम का क्षेत्र भी बताइए।

© BSTBPC WEBCOPY NOT TO BE PUBLISHED

2.57 दे ब्राग्ली द्वारा प्रतिपादित द्रव्य के दोहरे व्यवहार से इलेक्ट्रॉन सूक्ष्मदर्शी की खोज हुई, जिसे जैव अणुओं और अन्य प्रकार के पदार्थों की अति आवर्धित प्रतिबिंब के लिए उपयोग में लाया जाता है। इस सूक्ष्मदर्शी में यदि इलेक्ट्रॉन का वेग $1.6\ \ 10^6\ \mathrm{ms}^{-1}$ है, तो इस इलेक्ट्रॉन से संबंधित दे ब्राग्ली तरंग-दैर्घ्य की गणना कीजिए।

2.58 इलेक्ट्रॉन विवर्तन के समान न्यूट्रॉन विवर्तन सूक्ष्मदर्शी को अणुओं की संरचना के निर्धारण में प्रयुक्त किया जाता है। यदि यहाँ $800\mathrm{pm}$ की तरंग-दैर्घ्य ली जाए, तो न्यूट्रॉन से संबंधित अभिलाक्षणिक वेग की गणना कीजिए।

2.59 यदि बोर के प्रथम कक्ष में इलेक्ट्रॉन का वेग $2.9\ \ 10^6\mathrm{ms}^{-1}$ है, तो इससे संबंधित दे ब्रॉग्ली तरंग-दैर्घ्य की गणना कीजिए।

2.60 एक प्रोटॉन, जो $1000\ \mathrm{V}$ के विभवांतर में गति कर रहा है, से संबंधित वेग $4.37\ \ 10^5\ \mathrm{ms}^{-1}$ है। यदि $0.1\ \mathrm{kg}$ द्रव्यमान की हॉकी की गेंद इस वेग से गतिमान है, तो इससे संबंधित तरंग-दैर्घ्य की गणना कीजिए।

2.61 यदि एक इलेक्ट्रॉन की स्थिति को $\pm 0.002\mathrm{nm}$ की शुद्धता से मापी जाती है, तो इलेक्ट्रॉन के संवेग में अनिश्चितता की गणना कीजिए। यदि इलेक्ट्रॉन का संवेग $\mathrm{h}/4\pi_{\mathrm{m}}\ 0.05\ \mathrm{nm}$ है, तो क्या इस मान को निकालने में कोई कठिनाई होगी?

2.62 छः इलेक्ट्रॉन की क्वांटम संख्या नीचे दी गई है। इन्हें ऊर्जा के बढ़ते क्रम में व्यवस्थित कीजिए। क्या इनमें से किसी की ऊर्जा समान है?

1. $n = 4,\ l = 2,\ m_l = -2\ ,\ m_s = -1/2$
2. $n = 3,\ l = 2,\ m_l = 1\ ,\ m_s = +1/2$
3. $n = 4,\ l = 1,\ m_l = 0\ ,\ m_s = +1/2$
4. $n = 3,\ l = 2,\ m_l = -2\ ,\ m_s = -1/2$
5. $n = 3,\ l = 1,\ m_l = -1\ ,\ m_s = +1/2$
6. $n = 4,\ l = 1,\ m_l = 0\ ,\ m_s = +1/2$

2.63 ब्रोमीन परमाणु में 35 इलेक्ट्रॉन होते हैं। इसके $2p$ कक्षक में छः इलेक्ट्रॉन, $3p$ कक्षक में छः इलेक्ट्रॉन तथा $4p$ कक्षक में पाँच इलेक्ट्रॉन होते हैं। इनमें से कौन सा इलेक्ट्रॉन न्यूनतम प्रभावी नाभिकीय आवेश अनुभव करता है?

2.64 निम्नलिखित में से कौन सा कक्षक उच्चप्रभावी नाभिकीय आवेश अनुभव करेगा?

(i) $2s$ और $3s$, (ii) $4d$ और $4f$ तथा (iii) $3d$ और $3p$.

2.65 Al तथा Si में $3p$ कक्षक में अयुग्मित इलेक्ट्रॉन होते हैं। कौन सा इलेक्ट्रॉन नाभिक से अधिक प्रभावी नाभिकीय आवेश अनुभव करेगा?

2.66 इन अयुग्मित इलेक्ट्रॉनों की संख्या बताइए (क) P (ख) Si (ग) Cr (घ) Fe (ङ) Kr

2.67 (क) $n = 4$ से संबंधित कितने उपकोश हैं?

(ख) उस उपकोश में कितने इलेक्ट्रॉन उपस्थित होंगे, जिसके लिए $m_s = -\frac{1}{2}$ एवं $n = 4$ हैं।

© BSTBPC WEB COPY NOT TO BE PUBLISHED